Max Marks : 150

ALL INDIA TRADE TEST - 2024 FOR CRAFSTMEN
TRAINING SCHEME (CTS)
Trade Name: Attendant Operator (Chemical Plant)
Year: 1st Year

Exam Date :
Exam Time :

Note:
1. Tick the correct option out of four alternatives provided
2. All questions carry equal marks (2 Marks each)
3. There is no negative marking

SAMPLE QUESTION PAPER SET 1

Sr. No.	Q ID	Question Body and Alternatives	Marks	Negative Marks
		Trade Theory		
1	1	Which is general safety in workshop? कार्यशाला में सामान्य सुरक्षा कौन सी है? A1 : Wearing loose cloths ढीले कपड़े पहने A2 : Wearing chains and ties चेन और टाई पहनना A3 : Wearing safety shoes सुरक्षा के जूते पहने हुए A4 : Wearing plastic or rubber sandals प्लास्टिक या रबर की सैंडल पहनना	2.0	0.00
		Trade Theory		
2	2	Which is used for the safety of hand? हाथ की सुरक्षा के लिए किसका उपयोग किया जाता है? A1 : Goggles चश्मे A2 : Gloves दस्ताने A3 : Coat कोट A4 : Gumboot गोंबूत	2.0	0.00
		Trade Theory		
3	3	Which is used to protect eyes while grinding? जिसका उपयोग पीसते समय आँखों की रक्षा के लिए किया जाता है? A1 : Dark glass screen डार्क ग्लास स्क्रीन A2 : Safety goggles सुरक्षा चश्मे A3 : Mask मुखौटा A4 : Sun goggles	2.0	0.00

		सन गॉगल		
		Trade Theory		
4	4	Which material used to make hammer handle? हथौड़ा को संभालने के लिए किस सामग्री का उपयोग किया जाता है? A1 : Hard wood कड़ी लकड़ी A2 : Soft wood मुलायम लकड़ी A3 : Elastic wood (or) Bamboo लोचदार लकड़ी (या) बांस A4 : Plastic प्लास्टिक	2.0	0.00
		Trade Theory		
5	5	What is the angle of teeth in single cut file? सिंगल कट फाइल में दांतों का कोण क्या है? A1 : 30° 30° A2 : 55° 55° A3 : 60° 60° A4 : 70° 70°	2.0	0.00
		Trade Theory		
6	6	What is the use of hand vice? हैंड वाइस का उपयोग क्या है? A1 : Fixing heavy jobs भारी रोजगार तय करना A2 : Tightening nuts and bolts नट और बोल्ट कसने A3 : Holding round jobs गोल नौकरियां पकड़ना A4 : Hold small objects छोटी वस्तुओं को पकड़ो	2.0	0.00
		Trade Theory		
7	7	What is the purpose of saw setting in hacksaw blade? हैकसॉ ब्लेड में देखा सेटिंग का उद्देश्य क्या है? A1 : To increase the strength of the blade ब्लेड की ताकत बढ़ाने के लिए A2 : To reduce the pitch distance पिच की दूरी कम करने के लिए A3 : To avoid the friction between the blade and workpiece ब्लेड और वर्कपीस के बीच घर्षण से बचने के लिए A4 : To increase the flexibility of blade	2.0	0.00

SAMPLE QUESTION PAPER SET 1

		ब्लेड का लचीलापन बढ़ाने के लिए		
		Trade Theory		
8	8	What will happen while working with hammer of loosely fitted handle? शिथिल लगे हैंडल के हथौड़ा के साथ काम करते समय क्या होगा? A1 : Fly away and cause accident दूर उड़ो और दुर्घटना का कारण A2 : Absorb shock शोषक झटका A3 : Give more leverage अधिक लीवरेज दें A4 : Work done effectively प्रभावी ढंग से काम किया गया	2.0	0.00
		Trade Theory		
9	9	How the size of a vernier height gauge specified? एक वर्नियर ऊंचाई गेज का आकार कैसे निर्दिष्ट किया जाता है? A1 : Width of beam बीम की चौड़ाई A2 : Height of beam बीम की ऊँचाई A3 : Weight of the height gauge ऊंचाई गेज का वजन A4 : Size of the scriber स्क्राइबर का आकार	2.0	0.00
		Trade Theory		
10	10	What is to be measured with vernier depth gauge? वर्नियर डेप्थ गेज से क्या मापा जाना है? A1 : External dimensions बाहरी आयाम A2 : Internal dimensions आंतरिक विकृति A3 : Step, depth of blind hole स्टेप , ब्लाइंड होल की गहराई A4 : Pitch diameter पिच का व्यास	2.0	0.00
		Trade Theory		
11	11	Which part of the vernier height gauge, the main scale divisions are graduated? वर्नियर ऊंचाई गेज के किस भाग में मुख्य पैमाने के विभाजन स्नातक किए जाते हैं? A1 : Vernier plate वर्नियर प्लेट A2 : Beam बीम A3 : Scriber स्क्रिबर A4 : Base	2.0	0.00

SAMPLE QUESTION PAPER SET 1

		आधार		
		Trade Theory		
12	12	Which instrument is used to measure accurately the angle of taper? टेंपर के कोण को सही ढंग से मापने के लिए किस उपकरण का उपयोग किया जाता है? A1 : Bevel gauge बेवल गेज A2 : Taper gauge टेपर गेज A3 : Vernier bevel protractor वर्नियर बेवल प्रोट्रैक्टर A4 : Height gauge ऊँचाई मापक	2.0	0.00
		Trade Theory		
13	13	Which part is used as reference surface while measuring with vernier bevel protractor? वर्नियर बेवल प्रोट्रैक्टर के साथ मापने के दौरान संदर्भ सतह के रूप में किस भाग का उपयोग किया जाता है? A1 : Stock भण्डार A2 : Blade ब्लेड A3 : Dial डायल A4 : Disc डिस्क	2.0	0.00
		Trade Theory		
14	14	Which part of the vernier bevel protractor the main scale divisions are graduated? वर्नियर बेवल के किस भाग में मुख्य पैमाने के विभाजनों को स्नातक किया जाता है? A1 : Blade ब्लेड A2 : Disc डिस्क A3 : Dial डायल A4 : Stock भण्डार	2.0	0.00
		Trade Theory		
15	15	What is the name of the part marked as 'X'? X' के रूप में चिह्नित भाग का नाम क्या है? 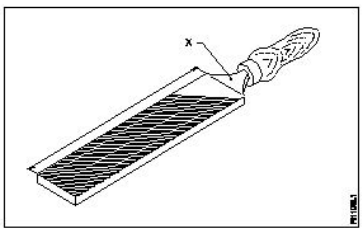 A1 : Heel हील	2.0	0.00

SAMPLE QUESTION PAPER SET 1

		A2 : Handle हैंडल A3 : Ferrule फेर्रुल A4 : File length फ़ाइल की लंबाई		
		Trade Theory		
16	16	What is the least count of vernier height gauge? वर्नियर हाइट गेज की सबसे कम गिनती क्या है? A1 : 0.001mm 0.001mm A2 : 0.02mm 0.02mm A3 : 0.05mm 0.05mm A4 : 0.10mm 0.10mm	2.0	0.00
		Trade Theory		
17	17	Which gauge is used for measuring step, depth of blind hole? स्टेप को मापने के लिए, अंधे छेद की गहराई के लिए किस गेज का उपयोग किया जाता है? A1 : Vernier depth gauge वर्नियर डेप्थ गेज A2 : Feeler gauge फीलर गेज A3 : Slip gauge स्लिप गेज A4 : Outside micrometer माइक्रोमीटर के बाहर	2.0	0.00
		Trade Theory		
18	18	What is the use of vice clamp? वाइस क्लैंप का उपयोग क्या है? A1 : Protect the finished surfaces of the job जाब की तैयार सतहों को सुरक्षित रखें A2 : Hold the job firmly जाब को दृढ़ता से पकड़ें A3 : Protect the file फ़ाइल को सुरक्षित रखें A4 : Protect the serrated jaws of the vice उपाध्यक्ष के दाँतेदार जबड़े को सुरक्षित रखें	2.0	0.00
		Trade Theory		
19	19	Identify the file? इस फ़ाइल को पहचानें?	2.0	0.00

SAMPLE QUESTION PAPER SET 1

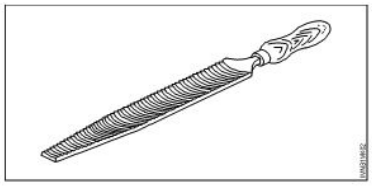

A1 : Rasp cut File

रास्प कट फ़ाइल

A2 : Curved cut file

कर्वड कट फाइल

A3 : Double cut file

डबल कट फाइल

A4 : Single cut file

सिंगल कट फाइल

		Trade Theory		
20	20	Which File is used in case where there is a heavy reduction of material needed? जब मटेरियल को बहुत ज़्यादा निकालना हो तो किस फाइल का इस्तेमाल किया गया है? A1 : Rough file रफ फ़ाइल A2 : Bastard file बास्टर्ड फाइल A3 : Second file सेकंडफाइल A4 : Smooth file स्मूथ फ़ाइल	2.0	0.00
		Trade Theory		
21	21	Which chisel is used to squaring material at corners? किस छेनी का उपयोग कोनों में सामग्री को बढ़ाने के लिए किया जाता है? A1 : Half round nose chisels हल्फ राउंड नोज़ छेनी A2 : Flat chisels सपाट छेनी A3 : Diamond point chisels डाइमन्ड पॉइंट छेनी A4 : Cross cut chisels क्रॉस कट छेनी	2.0	0.00
		Trade Theory		
22	22	When hacksaw blade gets spoiled? हैकसॉ ब्लेड कब खराब हो जाता है? A1 : Low speed and Low pressure कम गति और कम दबाव A2 : Coolant not used शीतलक का उपयोग नहीं किया गया A3 : Pressure released during return stroke रिटर्न स्ट्रोक के दौरान प्रैशर रिलीस करना	2.0	0.00

SAMPLE QUESTION PAPER SET 1

		A4 : Halt stroke use हॉल्ट स्ट्रोक का उपयोग		
		Trade Theory		
23	23	In which grade V block are available? जिसमें ग्रेड मे V ब्लॉक उपलब्ध होता है? A1 : B & C B & C A2 : C & D C & D A3 : A & B A & B A4 : A & C A & C	2.0	0.00
		Trade Theory		
24	24	Identify V Block? इस V ब्लॉक को पहचानें? 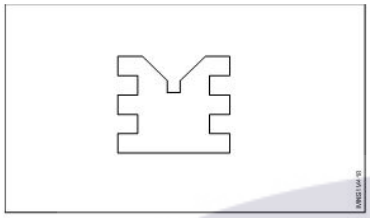 A1 : Single level single groove V block सिंगल लेवल सिंगल ग्रूव V ब्लॉक A2 : Single level double groove V block सिंगल लेवल डबल ग्रूव V ब्लॉक A3 : Double level single groove V block डबल लेवल सिंगल ग्रूव V ब्लॉक A4 : Double level block डबल लेवल ब्लॉक	2.0	0.00
		Trade Theory		
25	25	Identify V Block? V ब्लॉक की पहचान करें? 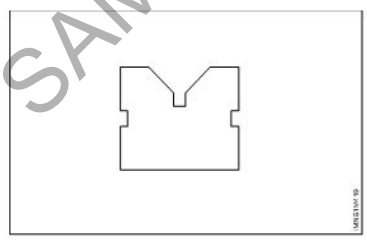 A1 : Single level single groove V block सिंगल लेवल सिंगल ग्रूव V ब्लॉक A2 : Single level double groove V block सिंगल लेवल डबल ग्रूव V ब्लॉक A3 : Double level single groove V block डबल लेवल सिंगल ग्रूव V ब्लॉक A4 : Double level block	2.0	0.00

SAMPLE QUESTION PAPER SET 1

		डबल लेवल ब्लॉक		
		Trade Theory		
26	26	Identify the above fig? उपरोक्त चित्र को पहचानें? 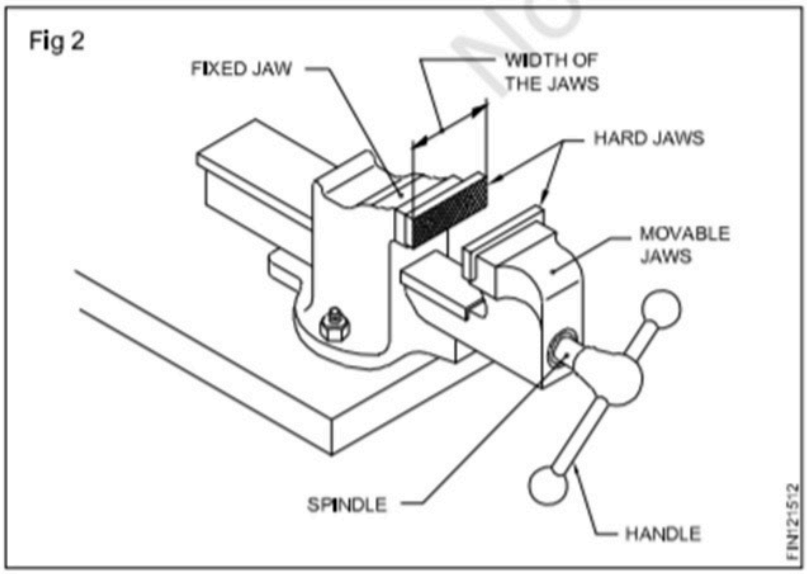 A1 : Vice वाइस A2 : V block वी ब्लॉक A3 : Hacksaw हैक्सॉ A4 : Hammer हथौड़ा	2.0	0.00
		Trade Theory		
27	27	Name the warning sign. इस चेतावनी प्रतीक का नाम बताएं।  A1 : School स्कूल A2 : Guarded संरक्षित A3 : Unguarded अनगार्डेड A4 : Pedestrian crossing पैदल चलने वालों का मार्ग	2.0	0.00
		Trade Theory		
28	28	Which chisel is used for cutting oil grooves? आयल ग्रुवेस को काटने के लिए किस छेनी का उपयोग किया जाता है? A1 : Flat chisel फ्लैट छेनी	2.0	0.00

SAMPLE QUESTION PAPER SET 1

		A2 : Web chisel वेब छेनी A3 : Half round nose chisel हाफ राउंड नोज छेनी A4 : Diamond point chisel डायमंड पॉइंट छेनी		
		Trade Theory		
29	29	What is the accuracy of a try square? एक ट्राई स्कायर की परिशुद्धता (एक्यूरेसी) क्या है? A1 : 0.02 mm per 10 mm length 0.02 mm per 10 mm length A2 : 0.004 mm per 10 mm length 0.004 mm per 10 mm length A3 : 0.002 mm per 10 mm length 0.002 mm per 10 mm length A4 : 0.001 mm per 10 mm length 0.001 mm per 10 mm length	2.0	0.00
		Trade Theory		
30	30	Which punch is used for witness marks? निशान दिखने के लिए किस पंच का उपयोग किया जाता है? A1 : Dot punch डॉट पंच A2 : Pin punch पिन पंच A3 : Bell punch बेल पंच A4 : Centre punch सेण्टर पंच	2.0	0.00
		Trade Theory		
31	31	What is the name of the caliper having one leg with an adjustable divider point and other leg is bent? उस कैलिपर का नाम बताए जिसकी एक टांग एडजस्टेबल डिवाइड पॉइंट और दूसरा टांग मुड़ा होती है? A1 : Jenny caliper जेनी कैलिपर A2 : Inside caliper इनसाइड कैलीपर A3 : Outside caliper आउटसाइड कैलीपर A4 : Spring joint caliper स्प्रिंग ज्वाइंट कैलीपर	2.0	0.00
		Trade Theory		
32	32	What is the name of part marked as ‘X’ in surface gauge? सतह गेज में ’X’ के रूप में चिह्नित भाग का नाम क्या है?	2.0	0.00

SAMPLE QUESTION PAPER SET 1

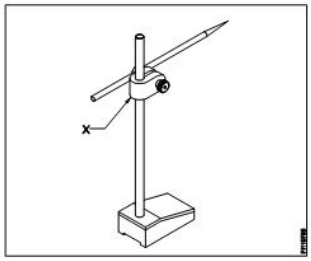

A1 : Nut

नट

A2 : Snug

स्नग

A3 : Spindle

स्पिंडल

A4 : Scriber

स्क्राइबर

Trade Theory

33	33	What is the name of operation? इस ऑपरेशन का नाम क्या है? 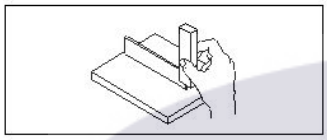 A1 : Marking line at 90° 90 डिग्री पर अंकन रेखा A2 : Checking flatness समतलता की जाँच करना A3 : Checking squareness स्कायरनेस की जाँच करना A4 : Setting work piece at right angle सही कोण पर कार्य खण्ड को सेट करना	2.0	0.00

Trade Theory

34	34	Which part of universal surface gauge is used to set scriber at required position exactly? यूनिवर्सल सरफेस गेज के किस भाग का उपयोग आवश्यक सही पोजीशन पर स्क्राइबर सेट करने के लिए किया जाता है? A1 : Snug स्नग A2 : Guide pin गाइड पिन A3 : Rocker arm रॉकर आर्म A4 : Fine adjustment screw फाइन एडजस्टमेंट स्क्रू	2.0	0.00

Trade Theory

35	35	What is the use of the vernier caliper? वर्नियर कैलिपर का उपयोग क्या है?	2.0	0.00

SAMPLE QUESTION PAPER SET 1

		A1 : Cutting काटने के लिए A2 : Measuring मापने मे A3 : Painting चित्रकारी मे A4 : Drilling ड्रिलिंग मे		
		Trade Theory		
36	36	Which is the direct measuring instrument? प्रत्यक्ष मापने वाला यंत्र कौन सा है? A1 : Vernier caliper वर्नियर कैलीपर्स A2 : Inside caliper इनसाइड कैलीपर A3 : Outside caliper आउट साइड कैलीपर A4 : Odd leg caliper ऑड़ लेग कैलिपर	2.0	0.00
		Trade Theory		
37	37	What is the use of the upper jaw in vernier caliper? वर्नियर कैलिपर में ऊपरी जबड़े का उपयोग क्या होता है? A1 : Depth of the object वस्तु की गहराई A2 : Outside diameter of an object किसी वस्तु का बाहरी व्यास A3 : Inside diameter of an object किसी वस्तु का व्यास आंतरिक व्यास A4 : Thickness of an object किसी वस्तु की मोटाई	2.0	0.00
		Trade Theory		
38	38	What is the principle of micrometer? माइक्रोमीटर का सिद्धांत क्या है? A1 : Screw स्क्रू A2 : Stud स्टुड A3 : Bolt बोल्ट A4 : Nut and bolt नट और बोल्ट	2.0	0.00
		Workshop Calculation and Science		
39	39	What are the two classifications of system of units? इकाइयों की प्रणाली के दो प्रकार कोनसे हैं?	2.0	0.00

SAMPLE QUESTION PAPER SET 1

		A1 : British and Metric ब्रिटिश और मीट्रिक A2 : Gravitational and non-gravitational गुरुत्वाकर्षण और गैर-गुरुत्वाकर्षण A3 : Fundamental and derived मौलिक और व्युत्पन्न A4 : Metric and International मैट्रिक और इंटरनेशनल		
Workshop Calculation and Science				
40	40	What are fundamental units? इनमे से मूलभूत इकाइयाँ कोन-कोनसी हैं? A1 : Length, Mass, Volume लंबाई, द्रव्यमान, आयतन A2 : Length, Mass, Time लंबाई, द्रव्यमान, समय A3 : Length, Mass, Area लंबाई, द्रव्यमान, क्षेत्रफल A4 : Length, Pressure, Volume लंबाई, दाब , आयतन	2.0	0.00
Workshop Calculation and Science				
41	41	What denotes letter 'M' in MKS system? MKS प्रणाली में 'M' अक्षर क्या दर्शाता है? A1 : Mile Mile A2 : Meter Meter A3 : Millimeter Millimeter A4 : Micron Micron	2.0	0.00
Workshop Calculation and Science				
42	42	How many millimetres are there in 1 inch? 1 इंच में कितने मिलीमीटर होते हैं? A1 : 2.54 mm 2.54 mm A2 : 25.4 mm 25.4 mm A3 : 24.5 mm 24.5 mm A4 : 2.45 mm 2.45 mm	2.0	0.00
Workshop Calculation and Science				
43	43	What is the square root of 529? 529 का वर्गमूल क्या है? A1 : 13	2.0	0.00

SAMPLE QUESTION PAPER SET 1

		13 A2 : 23 23 A3 : 33 33 A4 : 43 43		
		Workshop Calculation and Science		
44	44	Convert 0.456 decimal fraction into percentage. 0.456 दशमलव भिन्न को प्रतिशत में बदलिये? A1 : 45.6% 45.6% A2 : 4.56% 4.56% A3 : 0.456% 0.456% A4 : 0.0456% 0.0456%	2.0	0.00
		Engineering Drawing		
45	45	Identify the conventional symbol of material? चित्र में दिखाए गए सामग्री के पारंपरिक प्रतीक का पता लगाएं? 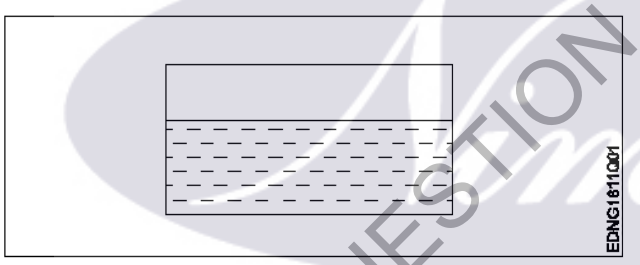 A1 : Water पानी A2 : Concrete ठोस A3 : Asbestos ऐस्बेटस A4 : Glass कांच	2.0	0.00
		Engineering Drawing		
46	46	Identify the conventional symbol of material? चित्र में दिखाए गए सामग्री के पारंपरिक प्रतीक का पता लगाएं? 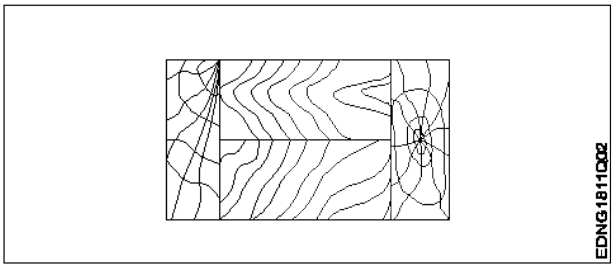 	2.0	0.00

SAMPLE QUESTION PAPER SET 1

		A1 : Lead लेड A2 : Glass कांच A3 : Wood लकड़ी A4 : Paper कागज़		
		Engineering Drawing		
47	47	Identify the name of instrument? चित्र में दिखाए गए उपकरणों के नाम की पहचान करें? 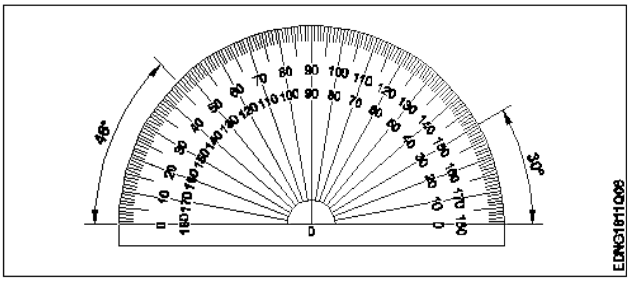 A1 : Set square गुनिया A2 : Protractor चांदा A3 : French curve फ्रांसीसी वक्र A4 : ' T ' square टी स्क्वायर	2.0	0.00
		Engineering Drawing		
48	48	Identify the name of set square? सेट स्क्वायर का नाम खोजें? 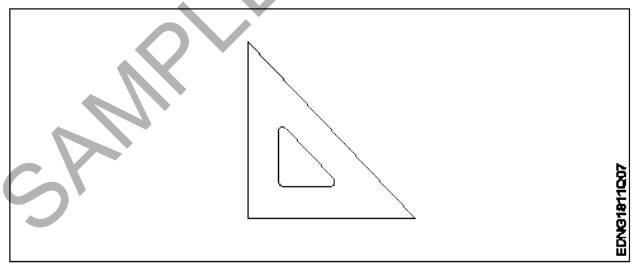 A1 : 15° set square 15° सेट स्क्वायर A2 : 60° set square 60° सेट स्क्वायर A3 : 30° set square 30°सेट स्क्वायर A4 : 45° set square 45° सेट स्क्वायर	2.0	0.00
		Engineering Drawing		

SAMPLE QUESTION PAPER SET 1

49	49	Compass used to draw for___. कम्पास का उपयोग ___ को ड्रा करने के लिए किया जाता है. A1 : rectangle आयत A2 : square वर्ग A3 : circle वृत्त A4 : triangle त्रिकोण	2.0	0.00
		Engineering Drawing		
50	50	Which title block position is correct as standard practice? एक मानक अभ्यास के रूप में कौन सी शीर्षक ब्लॉक स्थिति सही है? A1 : 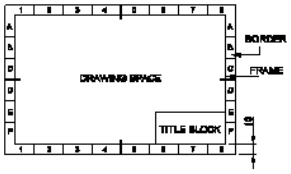 A2 : 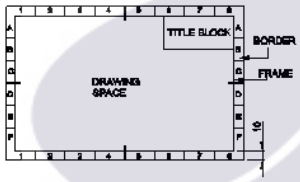 A3 : 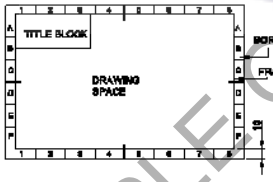 A4 : 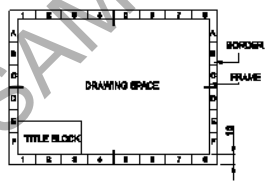 	2.0	0.00
		Employability Skills		
51	51	To be in a job or work is _____ नौकरी या काम में होना है …… A1 : Employ रोजगार A2 : Skill कौशल A3 : Knowledge ज्ञान	2.0	0.00

SAMPLE QUESTION PAPER SET 1

		A4 : Aptitude योग्यता		
		Employability Skills		
52	52	Information like date of birth, permanent address form a part of one's _____ in the resume. जन्म तिथि, स्थायी पता जैसी जानकारी रिज्यूमे में किसी के _____ का हिस्सा होती है। A1 : Career objectives कैरियर के उद्देश्यों A2 : Personal details व्यक्तिगत विवरण A3 : Achievements उपलब्धियों A4 : Qualifications योग्यता	2.0	0.00
		Employability Skills		
53	53	A person with a growth mindset is always willing to _____ एक विकास मानसिकता वाला व्यक्ति हमेशा ..... तैयार रहता है। A1 : relax आराम करने में A2 : grow, change, learn बढ़ो, बदलो, सीखो A3 : keep quiet चुप रहने में A4 : become rich अमीर बनने	2.0	0.00
		Employability Skills		
54	54	Jobs that have become outdated in the past 5 years _____ ..... नौकरियां जो पिछले 5 वर्षों में पुरानी हो गई हैं। A1 : STD booth STD बूथ A2 : ola ओला A3 : uber उबेर A4 : swiggy Swiggy	2.0	0.00
		Employability Skills		
55	55	Ethics means _____ नैतिकता का अर्थ है....। A1 : decide what is right and wrong for a human conduct तय करें कि मानव आचरण के लिए क्या सही है और क्या गलत A2 : name of a city एक शहर का नाम A3 : employability skills रोज़गार कौशल	2.0	0.00

SAMPLE QUESTION PAPER SET 1

		A4 : not relevant to society समाज से संबंधित नहीं है		
		Employability Skills		
56	56	Values are _____ मान हैं ……। A1 : not punctual समयनिष्ठ नहीं A2 : Motivates our attitude and action हमारे दृष्टिकोण और कार्रवाई को प्रेरित करता है A3 : very costly बहुत क़ीमती A4 : all have same value सभी का मूल्य समान है	2.0	0.00
		Employability Skills		
57	57	_____ is a brief statement about purpose and principles of the Constitution. .....संविधान के उद्देश्य और सिद्धांतों के बारे में संक्षिप्त विवरण है। A1 : Syllabus पाठ्यक्रम A2 : Module मापांक A3 : The Preamble प्रस्तावना A4 : Unit इकाई	2.0	0.00
		Employability Skills		
58	58	Identify the improper term _____ अनुचित पद को पहचानिए …….। A1 : green pollution हरित प्रदूषण A2 : water pollution जल प्रदूषण A3 : air pollution वायु प्रदूषण A4 : sound pollution ध्वनि प्रदूषण	2.0	0.00
		Employability Skills		
59	59	NAPS Stands for _____ NAPS का मतलब _____ A1 : National Apprenticeship Promotion Scheme National Apprenticeship Promotion Scheme A2 : National Appointment Promoting Scheme National Appointment Promoting Scheme A3 : Non Apprenticeship Promotion Scheme Non Apprenticeship Promotion Scheme	2.0	0.00

SAMPLE QUESTION PAPER SET 1

		A4 : National Advertising Promotion Scheme National Advertising Promotion Scheme		
		Employability Skills		
60	60	_____ is major changes takes place in manufacturing. …….. मैन्युफैक्चरिंग में प्रमुख परिवर्तन होते हैं। A1 : Green revolution हरित क्रांति A2 : Industry revolution उद्योग क्रांति A3 : Water revolution जल क्रांति A4 : Food revolution खाद्य क्रांति	2.0	0.00
		Employability Skills		
61	61	1st industrial revolution started in _____ पहली औद्योगिक क्रांति की शुरुआत …….। A1 : 18th century 18 वीं सदी A2 : 19th century 19 वीं सदी A3 : 20th century 20 वीं सदी A4 : 21st century 21 वीं सदी	2.0	0.00
		Employability Skills		
62	62	Hard Skill _____ कठिन कौशल…..। A1 : quick learner त्वरित शिक्षार्थी A2 : time management समय प्रबंधन A3 : 60 WPM typing speed 60 WPM टाइपिंग स्पीड A4 : spoken English मौखिक अंग्रेजी	2.0	0.00
		Employability Skills		
63	63	To grow yourself you must _____ अपने आप को विकसित करने के लिए आपको चाहिए ……। A1 : know your office अपने कार्यालय को जानें A2 : know yourself खुद को जानें A3 : know your institute अपने संस्थान को जानें	2.0	0.00

SAMPLE QUESTION PAPER SET 1

		A4 : know your country अपने देश को जानो		
		Employability Skills		
64	64	Time management _____ समय प्रबंधन.....। A1 : complete your task on time अपना कार्य समय पर पूरा करें A2 : managing time प्रबंधन समय A3 : hard skill कठिन कौशल A4 : problem solving समस्या को सुलझाना	2.0	0.00
		Employability Skills		
65	65	A resume should be _____. एक रिज्यूम _____ होना चाहिए A1 : short and precise छोटा और सटीक A2 : fancy and colourful फैंसी और रंगीन A3 : having long and detailed information लंबी और विस्तृत जानकारी होना A4 : having acronyms and abbreviation समरूप और संक्षिप्त नाम होना	2.0	0.00
		Employability Skills		
66	66	A written description of duties and responsibilities to be carried out in a job is called _____. किसी कार्य में किए जाने वाले कर्तव्यों और जिम्मेदारियों का लिखित विवरण _____ कहा जाता है A1 : CV CV A2 : job description job description A3 : resume resume A4 : job application job application	2.0	0.00
		Employability Skills		
67	67	After receiving interview call, what is the next step? साक्षात्कार कॉल प्राप्त करने के बाद, अगला कदम क्या है? A1 : Send application letter आवेदन पत्र भेजें A2 : Prepare the resume रिज्यूम तैयार करें A3 : Appear at interview साक्षात्कार में में जाये	2.0	0.00

SAMPLE QUESTION PAPER SET 1

		A4 : Send resume रिज्यूम भेजे		
		Employability Skills		
68	68	Choose suitable “wh” word for the given sentence. “_____ animal do you like?” दिए गए वाक्य के लिए उपयुक्त “wh” शब्द चुनें। “_____ animal do you like?” A1 : Which Which A2 : Why Why A3 : Where Where A4 : When When	2.0	0.00
		Employability Skills		
69	69	Choose the correct punctuation mark after the word “Rohan” in the given sentence. “Rohan David and Ram are playing hide and seek” दिए गए वाक्य में शब्द "रोहन" के बाद सही विराम चिह्न चुनें।“Rohan David and Ram are playing hide and seek” A1 : Comma (,) अल्पविराम (,) A2 : Period (_) अवधि (_) A3 : Slash (/) स्लैश (/) A4 : Hyphen (-) हाइफ़न (-)	2.0	0.00
		Employability Skills		
70	70	Choose the correct response for the given question. “How have you been”? दिए गए प्रश्न के लिए सही उत्तर चुनिए। “How have you been”? A1 : Very well, And you? Very well, And you? A2 : Thank you_ And you? Thank you_ And you? A3 : Same to you Same to you A4 : On vacation_ And you? On vacation_ And you?	2.0	0.00
		Employability Skills		
71	71	Choose the correct response of the given question. “When did the accident happen”? दिए गए प्रश्न की सही प्रतिक्रिया चुनें। “When did the accident happen”? A1 : in the hotel in the hotel A2 : during travelling during travelling A3 : At 10:30 last night At 10:30 last night	2.0	0.00

SAMPLE QUESTION PAPER SET 1

		A4 : On the table On the table		
		Employability Skills		
72	72	Choose the correct tense of the verb. “I _____ music when I was child” क्रिया का सही काल चुनें। “I _____music when I was child” A1 : learn learn A2 : am learning am learning A3 : will learn will learn A4 : had learnt had learnt	2.0	0.00
		Employability Skills		
73	73	Curriculum vitae is also known as _____ . Curriculum vitae को _____ के रूप में भी जाना जाता है। A1 : circular परिपत्र A2 : resume रिज्यूम A3 : job application form नौकरी के लिए आवेदन पत्र A4 : leave application छुट्टी की अर्जी	2.0	0.00
		Employability Skills		
74	74	Fill in the blank with comparative adjective. “Your pencil is _____ than mine” तुलनात्मक विशेषण के साथ रिक्त स्थान भरें। “Your pencil is_____ than mine” A1 : sharp sharp A2 : sharper sharper A3 : blunt blunt A4 : thick thick	2.0	0.00
		Employability Skills		
75	75	Fill in the blank with correct future tense of verb. “We _____ to the zoo after Breakfast “ क्रिया के सही भविष्य काल के साथ रिक्त स्थान भरें। “We_____to the zoo after Breakfast “ A1 : went went A2 : are going are going A3 : had gone had gone A4 : will go	2.0	0.00

SAMPLE QUESTION PAPER SET 1

will go

SAMPLE QUESTION PAPER SET 1

Attendant Operator (Chemical Plant) - 1st Year - Set 1

S.No	Correct Answer Key
1	A3
2	A2
3	A2
4	A1
5	A3
6	A4
7	A3
8	A1
9	A2
10	A3
11	A2
12	A3
13	A1
14	A2
15	A1
16	A2
17	A1
18	A2
19	A2
20	A2
21	A3
22	A2
23	A3
24	A2
25	A1
26	A1
27	A3
28	A3
29	A3
30	A1
31	A1
32	A2
33	A2
34	A4
35	A2
36	A1
37	A3
38	A4

S.No	Correct Answer Key
39	A3
40	A2
41	A2
42	A2
43	A2
44	A1
45	A1
46	A3
47	A2
48	A4
49	A3
50	A1
51	A1
52	A2
53	A2
54	A1
55	A1
56	A2
57	A3
58	A1
59	A1
60	A2
61	A1
62	A3
63	A2
64	A1
65	A1
66	A2
67	A3
68	A1
69	A1
70	A1
71	A3
72	A4
73	A2
74	A2
75	A4

KEY ANSWER SET 1

Note:
"In case answers found to be inaccurate due to typographical error or any other reason please sent mail to **qbnimigrievance@gmail.com**"