Max Marks : 150

ALL INDIA TRADE TEST - 2024 FOR CRAFSTMEN TRAINING SCHEME (CTS)
Trade Name: Attendant Operator (Chemical Plant)
Year: 1st Year

Exam Date :
Exam Time :

Note:
1. Tick the correct option out of four alternatives provided
2. All questions carry equal marks (2 Marks each)
3. There is no negative marking

SAMPLE QUESTION PAPER SET 2

Sr. No.	Q ID	Question Body and Alternatives	Marks	Negative Marks
		Trade Theory		
1	1	What does zero error in micrometer mean? माइक्रोमीटर में शून्य त्रुटि का क्या अर्थ है? A1 : There is negligible gap between the spindle and the anvil धुरी और निहाई के बीच नगण्य अंतर है A2 : Zero on thimble and datum line on sleeve coincide when measuring faces are in contact चेहरों पर ज़ीरो और डेटम लाइन पर स्लीक मेल खाते हैं, जब चेहरे को मापते हैं A3 : Zero mark on the thimble is not visible थिम्बल पर शून्य चिह्न दिखाई नहीं देता है A4 : Zero on thimble and datum line on sleeve do not coincide when measuring faces are in contact आस्तीन पर थिम्बल और डेटम लाइन पर शून्य, चेहरे को मापने के दौरान मेल नहीं खाता है	2.0	0.00
		Trade Theory		
2	2	What is the purpose of ratchet stop in the micrometer? माइक्रोमीटर में शाफ़्ट स्टॉप का उद्देश्य क्या है? A1 : Control the pressure दबाव को नियंत्रित करें A2 : Lock the spindle धुरी पर ताला लगाओ A3 : Adjust zero error शून्य त्रुटि समायोजित करें A4 : Hold the work काम पकड़ो	2.0	0.00
		Trade Theory		
3	3	Which is fundamental unit? मौलिक इकाई कौन सी है? A1 : Pressure दबाव A2 : Force बल A3 : Velocity वेग A4 : Length लंबाई	2.0	0.00

		Trade Theory		
4	4	What is SI unit for density? घनत्व के लिए SI इकाई क्या है? A1 : Kg/cm^3 Kg/cm^3 A2 : g/cm^3 g/cm^3 A3 : Kg/m^3 Kg/m^3 A4 : g/m^3 g/m^3	2.0	0.00
		Trade Theory		
5	5	What is mass per unit volume? प्रति इकाई आयतन कितना द्रव्यमान है? A1 : Density घनत्व A2 : Humidity नमी A3 : Pascal पास्कल A4 : Fluid तरल	2.0	0.00
		Trade Theory		
6	6	Which quantity has both magnitude and direction? किस मात्रा में परिमाण और दिशा दोनों हैं? A1 : Scalar अदिश A2 : Resultant परिणामी A3 : Vector वेक्टर A4 : Scale of reference स्केल ऑफ रिफ्रेन्स	2.0	0.00
		Trade Theory		
7	7	Which is scalar quantity? अदिश राशि कौन सी है? A1 : Force बल A2 : Mass द्रव्यमान A3 : Pressure दबाव A4 : Velocity वेग	2.0	0.00
		Trade Theory		
8	8	How far a car travel in 25 min at 12m/s?	2.0	0.00

SAMPLE QUESTION PAPER SET 2

		12 मी / से 25 मिनट में एक कार कितनी दूर तक जाती है? A1 : 24 km 24 km A2 : 10 km 10 km A3 : 18 km 18 km A4 : 14 km 14 km		
		Trade Theory		
9	9	What is SI unit of force? बल की SI इकाई क्या है? A1 : Dyne डायन A2 : Newton न्यूटन A3 : Joule जूल A4 : Radian रेडियन	2.0	0.00
		Trade Theory		
10	10	What is the product of mass of a body and acceleration? किसी पिंड और त्वरण के द्रव्यमान का गुणनफल क्या होता है? A1 : Inertia जड़ता A2 : Momentum गति A3 : Displacement विस्थापन A4 : Force बल	2.0	0.00
		Trade Theory		
11	11	What is an external effort in the form of push or pull that moves or tries to move a body at rest? पुश या पुल के रूप में एक बाहरी प्रयास क्या है जो शरीर को स्थानांतरित करने या आराम करने की कोशिश करता है? A1 : Force बल A2 : Inertia जड़ता A3 : Velocity वेग A4 : Mass द्रव्यमान	2.0	0.00
		Trade Theory		
12	12	What is the opposing force that comes into play if one body is actually sliding over the surface of the other body? यदि एक बॉडी वास्तव में दूसरे बॉडी की सतह पर फिसल रही है, तो विरोधी शक्ति किस दिशा मे कार्य करती है?	2.0	0.00

SAMPLE QUESTION PAPER SET 2

		A1 : Rolling friction रोलिंग घर्षण A2 : Sliding friction सर्पी घर्षण A3 : Limiting friction घर्षण सीमित करना A4 : Static friction स्थैतिक घर्षण		
		Trade Theory		
13	13	Which direction the force of friction acts with respect to the direction of motion of object? वस्तु की गति की दिशा के संबंध में घर्षण का बल किस दिशा में कार्य करता है? A1 : In the same direction to the direction of motion of object वस्तु की गति की दिशा में एक ही दिशा में A2 : In the opposite direction to the direction of motion of object वस्तु की गति की दिशा के विपरीत दिशा में A3 : In the perpendicular direction to the direction of motion of object वस्तु की गति की दिशा में लम्बवत दिशा में A4 : In the downwards direction to the direction of motion of object वस्तु की गति की दिशा में नीचे की दिशा में	2.0	0.00
		Trade Theory		
14	14	What is the ratio of the work output to the work input of a machine? मशीन के कार्य इनपुट के कार्य आउटपुट का अनुपात क्या है? A1 : Mechanical advantage यांत्रिक लाभ A2 : Efficiency दक्षता A3 : Work काम A4 : Power शक्ति	2.0	0.00
		Trade Theory		
15	15	Which is a simple machine? एक साधारण मशीन कौन सी है? A1 : Chair कुरसी A2 : Candle मोमबत्ती A3 : Table टेबल A4 : Pulley पूली	2.0	0.00
		Trade Theory		
16	16	What is the efficiency of simple machine, if the velocity ratio is found to be 20 and an effort of 25 kg lifts a load of 400 kg? सरल मशीन की दक्षता क्या है, यदि वेग अनुपात 20 पाया जाता है और 25 किलो का प्रयास 400 किलो का भार उठाता है? A1 : 90%	2.0	0.00

SAMPLE QUESTION PAPER SET 2

		90% A2 : 100% 100% A3 : 80% 80% A4 : 85% 85%		
		Trade Theory		
17	17	Which simple machine does a flag pole make use of? कौन सी सरल मशीन एक ध्वज पोल का उपयोग करती है? A1 : Lever उत्तोलक A2 : Screw स्क्रू A3 : Pulley पुली A4 : Inclined plane इन्क्लाईड प्लेन	2.0	0.00
		Trade Theory		
18	18	What is the least count of vernier caliper? वर्नियर कैलिपर की न्यूनतम संख्या क्या है? A1 : 0.10 mm 0.10 mm A2 : 0.01 mm 0.01 mm A3 : 0.05 mm 0.05 mm A4 : 0.02 mm 0.02 mm	2.0	0.00
		Trade Theory		
19	19	Which forces applied in parallelogram law of forces? बलों के समांतर चतुर्भुज नियम में किन बलों को लागू किया गया? A1 : Collinear forces कोलिनियर बल A2 : Coplanar forces कोपलानर बल A3 : Concurrent forces समवर्ती बल A4 : Gravitational forces गुरुत्वाकर्षण बल	2.0	0.00
		Trade Theory		
20	20	Main scale & Vernier scale are available in which linear measuring instrument? मुख्य स्केल और वर्नियर स्केल किस लीनियर मापने वाले यंत्र में उपलब्ध हैं? A1 : Vice वाइस A2 : Hammer	2.0	0.00

SAMPLE QUESTION PAPER SET 2

		हथौड़ा A3 : Steel rule स्टील रूल A4 : Vernier Caliper वर्नियर कैलीपर्स		
		Trade Theory		
21	21	Velocity is a vector measurement because it has both a magnitude and…. वेग एक वेक्टर माप है क्योंकि इसमें एक परिमाण और…….पाये जाते हे A1 : time समय A2 : temperature तापमान A3 : distance दूरी A4 : direction दिशा	2.0	0.00
		Trade Theory		
22	22	Rate of change velocity of the body is said to be… किसी चीज के वेग की दर के परिवर्तन को कहा जाता है A1 : displacement विस्थापन A2 : distance दूरी A3 : acceleration त्वरण A4 : velocity वेग	2.0	0.00
		Trade Theory		
23	23	Speed of a body in particular direction is called… किसी विशेष दिशा में किसी चीज की गति कहलाती हे? A1 : acceleration त्वरण A2 : displacement विस्थापन A3 : velocity वेग A4 : distance दूरी	2.0	0.00
		Trade Theory		
24	24	What is the use of ammeter? एमीटर का उपयोग क्या है? A1 : To measure current करंट मापने के लिए A2 : To measure voltage वोल्टेज मापने के लिए	2.0	0.00

SAMPLE QUESTION PAPER SET 2

		A3 : To measure resistance प्रतिरोध को मापने के लिए A4 : To measure power शक्ति को मापने के लिए		
		Trade Theory		
25	25	Which circuit the voltage drop across each resistor is different? प्रत्येक रोकनेवाला में वोल्टेज ड्रॉप किस सर्किट से अलग होता है? A1 : Series connection श्रृंखला कनेक्शन A2 : Parallel connection समानांतर संबंध A3 : Series parallel connection श्रृंखला समानांतर कनेक्शन A4 : Wheat stone bridge व्हीटस्टोन पुल	2.0	0.00
		Trade Theory		
26	26	What is the unit of potential difference? संभावित अंतर की इकाई क्या है? A1 : Ampere Ampere A2 : Volt Volt A3 : Ohm Ohm A4 : Watts Watts	2.0	0.00
		Trade Theory		
27	27	Which is the complete equipment of electrolysis? इलेक्ट्रोलिसिस का पूरा उपकरण कौन सा है? A1 : Electrolytic cell इलेक्ट्रोलाइटिक सेल A2 : Electrolytic circuit इलेक्ट्रोलाइटिक सर्किट A3 : Electrolytic current इलेक्ट्रोलाइटिक करंट A4 : Electrolytic process इलेक्ट्रोलाइटिक प्रक्रिया	2.0	0.00
		Trade Theory		
28	28	Which prevents radiation? जो विकिरण को रोकता है? A1 : Glass walls काँच की दीवारें A2 : Silver painted glass walls सिल्वर पेंट की हुई कांच की दीवारें A3 : Black painted glass walls	2.0	0.00

SAMPLE QUESTION PAPER SET 2

		काले रंग की कांच की दीवारें A4 : Metal walls धातु की दीवारें		
		Trade Theory		
29	29	How heat transfer takes place in liquid? तरल में गर्मी हस्तांतरण कैसे होता है? A1 : Conduction कंडक्शन A2 : Convection कंवेक्शन A3 : Radiation विकिरण A4 : Transmission हस्तांतरण	2.0	0.00
		Trade Theory		
30	30	What is the name of heat transfer by molecular collision? आणविक टकराव द्वारा गर्मी हस्तांतरण का नाम क्या है? A1 : Conduction कंडक्शन A2 : Convection कंवेक्शन A3 : Radiation विकिरण A4 : Scattering बिखरने	2.0	0.00
		Trade Theory		
31	31	What is termed as the mass of a substance liberate from an electrolyte by one coulomb of electricity? किस पदार्थ के द्रव्यमान को इलेक्ट्रोलाइट से बिजली के एक कूपल द्वारा मुक्त किया जाता है? A1 : Quantity of electricity बिजली की मात्रा A2 : Electrochemical equivalent of the substances पदार्थों के समतुल्य रासायनिक A3 : Faraday's 1st law of electrolysis फैराडे के इलेक्ट्रोलिसिस का पहला नियम A4 : Faraday's 2nd law of electrolysis फैराडे के इलेक्ट्रोलिसिस का दूसरा नियम	2.0	0.00
		Trade Theory		
32	32	What is the effect of kinetic energy of the body if force and displacement in the same direction? एक ही दिशा में बल और विस्थापन होने पर शरीर की गतिज ऊर्जा का क्या प्रभाव होता है? A1 : Increases बढ़ती है A2 : Decreases कम हो जाती है A3 : Remains constant स्थिर रहता है	2.0	0.00

SAMPLE QUESTION PAPER SET 2

		A4 : Becomes zero शून्य हो जाता है		
		Trade Theory		
33	33	Which energy obtained from bullet fired through piercing a target? किसी लक्ष्य को भेदकर चलाई गई बुलेट से कौन सी ऊर्जा प्राप्त होती है? A1 : Mechanical energy यांत्रिक ऊर्जा A2 : Heat energy उष्ण ऊर्जा A3 : Kinetic energy गतिज ऊर्जा A4 : Acceleration त्वरण	2.0	0.00
		Trade Theory		
34	34	Which is best conductor of electricity? बिजली का सबसे अच्छा सुचालक कौन है? A1 : Iron लोहा A2 : Brass पीतल A3 : Copper तांबा A4 : Carbon कार्बन	2.0	0.00
		Trade Theory		
35	35	What is the condition for conduction mode of heat transfer between two bodies? दो निकायों के बीच गर्मी हस्तांतरण के प्रवाहकत्त्व मोड के लिए क्या स्थिति है? A1 : bodies must be in physical contact बॉडी फिजिकल कांटेक्ट में होने चाहिए A2 : There must be temperature gradient between the bodies बॉडी के बीच तापमान का उतार-चढ़ाव होना चाहिए A3 : both bodies should be at same temperature दोनों बॉडी एक ही तापमान पर होने चाहिए A4 : bodies must not be in physical contact बॉडी फिजिकल कांटेक्ट में नहीं होने चाहिए	2.0	0.00
		Trade Theory		
36	36	Which gas is collected at cathode, while water is electrolyzed? कैथोड में कौन सी गैस एकत्र की जाती है, जबकि पानी इलेक्ट्रोलाइज किया जाता है? A1 : Sulphur गंधक A2 : Oxygen ऑक्सीजन A3 : Hydrogen हाइड्रोजन A4 : Sulphur dioxide	2.0	0.00

SAMPLE QUESTION PAPER SET 2

		सल्फर डाइऑक्साइड		
		Trade Theory		
37	37	What is the unit of current? करंट की इकाई क्या है? A1 : Volt Volt A2 : Ampere Ampere A3 : Watts Watts A4 : Joule Joule	2.0	0.00
		Trade Theory		
38	38	What is the unit of electric charge? विद्युत आवेश की इकाई क्या है? A1 : Volts Volts A2 : Hertz Hertz A3 : Ampere Ampere A4 : Coulomb Coulomb	2.0	0.00
		Workshop Calculation and Science		
39	39	Which metal contains iron as a major content? इनमे से किस धातु में प्रमुख सामग्री के रूप में लोहा होता है? A1 : Brass metal पीतल धातु A2 : Bronze metal ब्रोंज धातु A3 : Zinc ज़िंक A4 : Ferrous metal लोह धातु	2.0	0.00
		Workshop Calculation and Science		
40	40	Which property of metal has its power of returning to its original shape after the applied force is released? धातु की कौन सा गुण बल लगाने पर विरूपित तथा बल हटाने पर वापस अपने पूर्वावस्था मे आने की झमता रखता है? A1 : Malleability आघातवर्धनीयता A2 : Tenacity दृढ़ता A3 : Elasticity प्रत्यास्तथा A4 : Plasticity सुघट्यता	2.0	0.00
		Workshop Calculation and Science		
41	41	What is termed as the quantity of matter contained in a body?	2.0	0.00

SAMPLE QUESTION PAPER SET 2

		वस्तु में निहित पदार्थ की मात्रा को क्या कहा जाता है? A1 : Density घनत्व A2 : Volume आयतन A3 : Mass द्रव्यमान A4 : Specific gravity विशिष्ट गुरुत्व		
		Workshop Calculation and Science		
42	42	What is called mass per unit volume of a substances? किसी पदार्थ के द्रव्यमान प्रति इकाई आयतन को क्या कहते हैं? A1 : Mass द्रव्यमान A2 : Weight भार A3 : Density घनत्व A4 : Volume आयतन	2.0	0.00
		Workshop Calculation and Science		
43	43	What is the unit of speed? गति की इकाई क्या है? A1 : Metre/second Metre/second A2 : Metre/second^2 Metre/second^2 A3 : Metre/minute Metre/minute A4 : Metre/hour Metre/hour	2.0	0.00
		Workshop Calculation and Science		
44	44	What is the work done in unit time? एक इकाई समय में किया गया कार्य क्या होता है? A1 : Energy ऊर्जा A2 : Power शक्ति A3 : Force बल A4 : Acceleration त्वरण	2.0	0.00
		Engineering Drawing		
45	45	Identify the conventional symbol of material? सामग्री के पारंपरिक प्रतीक को पहचानें?	2.0	0.00

SAMPLE QUESTION PAPER SET 2

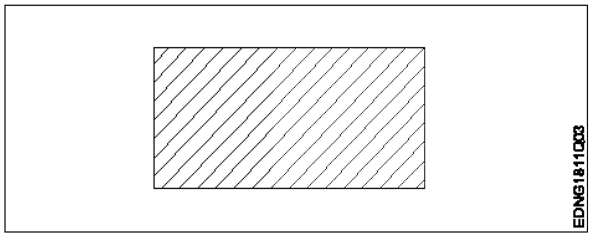

A1 : Lead

लेड

A2 : Steel

इस्पात

A3 : Glass

कांच

A4 : Porcelain

चीनी मिटटी

		Engineering Drawing		
46	46	Identify the conventional symbol of material? सामग्री के पारंपरिक प्रतीक को पहचानें?	2.0	0.00

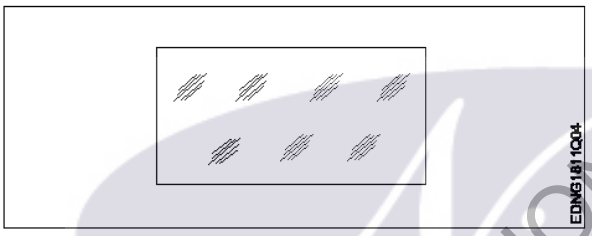

A1 : Concrete

संगीत कार्यक्रम

A2 : Steel

इस्पात

A3 : Wood

लकड़ी

A4 : Glass

कांच

		Engineering Drawing		
47	47	Identify the conventional symbol of material? सामग्री के पारंपरिक प्रतीक को पहचानें?	2.0	0.00

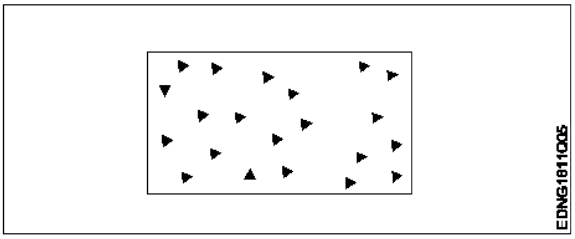

A1 : Steel

इस्पात

A2 : Wood

लकड़ी

SAMPLE QUESTION PAPER SET 2

		A3 : Glass कांच A4 : Concrete ठोस		
		Engineering Drawing		
48	48	What is the trimmed size of A4 sheet? A4 शीट का ट्रिम किया हुआ आकार क्या है? A1 : 841 x 1189 841 x 1189 A2 : 594 x 841 594 x 841 A3 : 210 x 297 210 x 297 A4 : 148 x 210 148 x 210	2.0	0.00
		Engineering Drawing		
49	49	Which drawing dimension is correct as per IS standard? IS मानक के अनुसार कौन सा ड्राइंग आयाम सही है?	2.0	0.00

A1 :

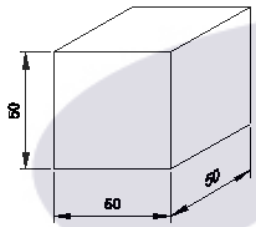

A2 :

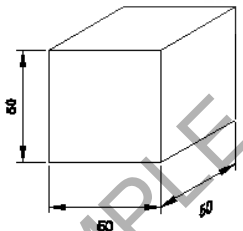

A3 :

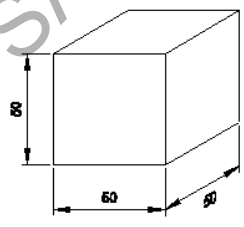

A4 :

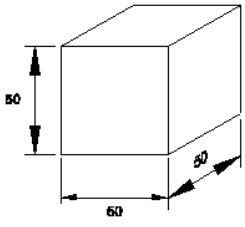

SAMPLE QUESTION PAPER SET 2

		Engineering Drawing		
50	50	Identify the name of prism? चित्र में दिखाए गए प्रिज्म का नाम क्या है? 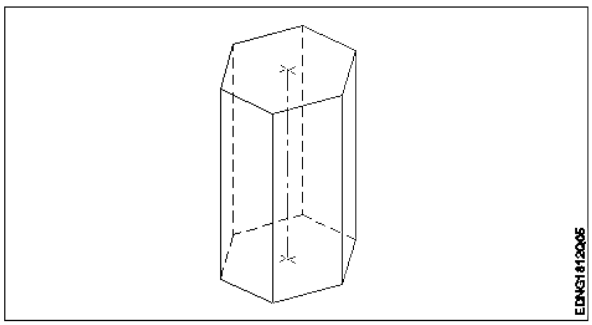 A1 : Square prism स्क्वायर प्रिज्म A2 : Pentagonal prism पंचकोणीय प्रिज्म A3 : Triangular prism त्रिकोणीय प्रिज्म A4 : Hexagonal prism हेक्सागोनल प्रिज्म	2.0	0.00
		Employability Skills		
51	51	Fill in the blank with correct word. “They _____ good friends” रिक्त में सही शब्द भरें। “They_____good friends” A1 : is is A2 : am am A3 : are are A4 : was was	2.0	0.00
		Employability Skills		
52	52	Fill in the blank with present progressive tense of the verb. “The train _____ through the tunnel” क्रिया के वर्तमान प्रगतिशील काल के साथ रिक्त स्थान भरें। “The train _____ through the tunnel” A1 : passed passed A2 : is passing is passing A3 : had passed had passed A4 : was passing was passing	2.0	0.00
		Employability Skills		
53	53	Fill in the blank with proper interrogative adjective. _____ are you going? उचित ईंटोरोगेटिव विशेषण के साथ रिक्त स्थान भरें। _____ are you going? A1 : Who Who	2.0	0.00

SAMPLE QUESTION PAPER SET 2

		A2 : Where Where A3 : Which Which A4 : What What		
		Employability Skills		
54	54	Fill in the blank with proper pronoun. “I made this cake _____” रिक्त स्थान में उचित सर्वनाम के साथ भरें। “I made this cake _____” A1 : myself myself A2 : yourself yourself A3 : himself himself A4 : itself itself	2.0	0.00
		Employability Skills		
55	55	Fill in the blank with proper pronoun. “She made this cake _____” रिक्त स्थान में उचित सर्वनाम के साथ भरें। “She made this cake _____” A1 : itself itself A2 : myself myself A3 : herself herself A4 : himself himself	2.0	0.00
		Employability Skills		
56	56	Fill in the blank with proper reflexive pronoun. “She has hurt_____” रिक्त स्थान में उचित प्रतिवर्ती सर्वनाम के साथ भरें। “She has hurt_____” A1 : myself myself A2 : herself herself A3 : himself himself A4 : itself itself	2.0	0.00
		Employability Skills		
57	57	Fill in the blank with suitable adjective for the given sentence “The little girl’s…… eyes revealed her mischief” दिए गए वाक्य के लिए उपयुक्त विशेषण के साथ रिक्त स्थान भरें “The little girl’s…… eyes revealed her mischief” A1 : chubby chubby A2 : weak weak	2.0	0.00

SAMPLE QUESTION PAPER SET 2

		A3 : short sighted short sighted A4 : twinkling twinkling		
		Employability Skills		
58	58	Fill in the blank with suitable place preposition. “My house is _____ the third floor” उपयुक्त स्थान पूर्वसर्ग के साथ रिक्त स्थान भरें। “My house is _____the third floor” A1 : at at A2 : in in A3 : on on A4 : under under	2.0	0.00
		Employability Skills		
59	59	Fill in the correct question word. “_____ is the speaker at the function?” सही प्रश्न शब्द भरें। “_____is the speaker at the function?” A1 : What What A2 : When When A3 : Why Why A4 : Who Who	2.0	0.00
		Employability Skills		
60	60	Low level language is also called _____. निम्न स्तर की भाषा को _____ भी कहा जाता है A1 : source code सोर्स कोड A2 : middle ware मध्यस्थ A3 : machine language मशीन भाषा A4 : assembly language असेंबली भाषा	2.0	0.00
		Employability Skills		
61	61	Pronunciation refers to_____. उच्चारण _____ को संदर्भित करता है A1 : diphthong संयुक्त स्वर A2 : consonant व्यंजन A3 : punctuation विराम चिह्न	2.0	0.00

SAMPLE QUESTION PAPER SET 2

		A4 : production of sound ध्वनि का उत्पादन		
		Employability Skills		
62	62	Re-arrange the following set of words into meaningful sentence. “teacher / school / worked / she / a / as”. शब्दों के निम्नलिखित सेट को सार्थक वाक्य में फिर से व्यवस्थित करें। “teacher / school / worked / she / a / as” A1 : School worked as a she teacher School worked as a she teacher A2 : She worked as a school teacher She worked as a school teacher A3 : She teacher worked as a school She teacher worked as a school A4 : Worked she as a school teacher Worked she as a school teacher	2.0	0.00
		Employability Skills		
63	63	Rise and fall of pitch of voice is called _____. आवाज की पिच का उठना और गिरना _____ कहलाता है A1 : vowel स्वर A2 : intonation आवाज़ का उतार-चढ़ाव A3 : consonant व्यंजन A4 : pronunciation उच्चारण	2.0	0.00
		Employability Skills		
64	64	The word that expresses a sudden and strong feeling is called _____. वह शब्द जो अचानक और मजबूत भावना व्यक्त करता है उसे_____ कहा जाता है A1 : punctuation विराम चिह्न A2 : interjection विस्मयादिबोधक A3 : conjunction संयोजन के रूप A4 : apostrophe एपोसट्राफी	2.0	0.00
		Employability Skills		
65	65	When you greet higher official’s such as Teacher, Instructor or Supervisor, you should use _____. जब आप शिक्षक, प्रशिक्षक या पर्यवेक्षक जैसे उच्च अधिकारियों का अभिवादन करते हैं, तो आपको _____ का उपयोग करना चाहिए A1 : Good morning Good morning A2 : Hello Hello A3 : Hey Hey A4 : Hi Hi	2.0	0.00

SAMPLE QUESTION PAPER SET 2

		Employability Skills		
66	66	Which is a silent letter in the word “ANSWER”? “ANSWER” शब्द में कौन सा मूक अक्षर है? A1 : R R A2 : E E A3 : S S A4 : W W	2.0	0.00
		Employability Skills		
67	67	Which one is a “Do’s” of discussion etiquettes? चर्चा के शिष्टाचारों में से कौन सा “Do’s” है? A1 : Loose your temper अपना आपा खोएं A2 : Listen to others दूसरों की सुनें A3 : Talk about irrelevant details अप्रासंगिक विवरण के बारे में बात करें A4 : Use impolite or rude language अभद्र या अशिष्ट भाषा का उपयोग करें	2.0	0.00
		Employability Skills		
68	68	Which one is a “Don’t” of discussion etiquette? चर्चा शिष्टाचार का “Don’t” है? A1 : Be open minded दिमाग खुला रखना A2 : Use moderate tone मध्यम स्वर का प्रयोग करें A3 : Listen to others दूसरों की सुनें A4 : Argue unnecessary अनावश्यक बहस करें	2.0	0.00
		Employability Skills		
69	69	Which one is a brain of computer? कंप्यूटर का मस्तिष्क कौन सा है? A1 : Keyboard कीबोर्ड A2 : CPU सी पी यू A3 : Monitor मॉनिटर A4 : Hard disk हार्ड डिस्क	2.0	0.00
		Employability Skills		
70	70	Which one is an exclamatory sentence?	2.0	0.00

SAMPLE QUESTION PAPER SET 2

		कौन सा विस्मयादिबोधक वाक्य है? A1 : What a beautiful house it is! What a beautiful house it is! A2 : It is a beautiful house. It is a beautiful house. A3 : Is it a beautiful house? Is it a beautiful house? A4 : Your house is beautiful. Your house is beautiful.		
		Employability Skills		
71	71	Which one is in active voice? सक्रिय आवाज में कौन सा है? A1 : Ram has passed the exam. Ram has passed the exam. A2 : The ball was caught by him. The ball was caught by him. A3 : The book was being read by her. The book was being read by her. A4 : We were driven home by dad. We were driven home by dad.	2.0	0.00
		Employability Skills		
72	72	Which one is in passive voice? निष्क्रिय आवाज में कौन सा है? A1 : Mohan is painting a house. Mohan is painting a house. A2 : She was reading a book. She was reading a book. A3 : Her birthday was celebrated by us. Her birthday was celebrated by us. A4 : I have seen that movie. I have seen that movie.	2.0	0.00
		Employability Skills		
73	73	Which one is NOT a conjunction? कौन सा एक संयोजन नहीं है? A1 : And And A2 : Or Or A3 : But But A4 : On On	2.0	0.00
		Employability Skills		
74	74	Which one is NOT a benefit of the role playing? भूमिका निभाने का कौन सा लाभ नहीं है? A1 : Builds confidence	2.0	0.00

SAMPLE QUESTION PAPER SET 2

		आत्मविश्वास पैदा करता है A2 : Develops listening skill सुनने का कौशल विकसित करता है A3 : Develops creative problem-solving skill रचनात्मक समस्या-समाधान कौशल विकसित करता है A4 : Develops boredom बोरियत पैदा करता है		
Employability Skills				
75	75	Which one is NOT a vowel? कौन सा स्वर नहीं है? A1 : a a A2 : e e A3 : f f A4 : i i	2.0	0.00

SAMPLE QUESTION PAPER SET 2

Attendant Operator (Chemical Plant) - 1st Year - Set 2

S.No.	Correct Answer Key
1	A4
2	A1
3	A4
4	A3
5	A1
6	A3
7	A2
8	A3
9	A2
10	A4
11	A1
12	A2
13	A2
14	A2
15	A4
16	A3
17	A3
18	A4
19	A3
20	A4
21	A4
22	A3
23	A3
24	A1
25	A1
26	A2
27	A1
28	A2
29	A2
30	A1
31	A2
32	A1
33	A3
34	A3
35	A2
36	A3
37	A2
38	A4

S.No.	Correct Answer Key
39	A4
40	A3
41	A3
42	A3
43	A1
44	A2
45	A2
46	A4
47	A4
48	A3
49	A1
50	A4
51	A3
52	A2
53	A2
54	A1
55	A3
56	A2
57	A4
58	A3
59	A4
60	A3
61	A4
62	A2
63	A2
64	A2
65	A1
66	A4
67	A2
68	A4
69	A2
70	A1
71	A1
72	A3
73	A4
74	A4
75	A3

KEY ANSWER SET 2

Note:
"In case answers found to be inaccurate due to typographical error or any other reason please sent mail to **qbnimigrievance@gmail.com**"