Max Marks : 150

All India Trade Test - 2024 for Crafstmen Training Scheme (CTS)
Trade Name: Maintenance Mechanic (Chemical Plant)
Year: 1st Year

Exam Date :
Exam Time :

Note:
1. Tick the correct option out of four alternatives provided
2. All questions carry equal marks (2 Marks each)
3. There is no negative marking

SAMPLE QUESTION PAPER SET 3

Sr. No.	Q ID	Question Body and Alternatives	Marks	Negative Marks
		Trade Theory		
1	1	What type of joints are made by the groove welds in GMA welding? GMA वेल्डिंग में ग्रूव वेल्ड द्वारा किस प्रकार के जॉइंट बनाए जाते हैं? A1 : Butt weld बट वेल्ड A2 : T weld T वेल्ड A3 : Corner weld कॉर्नर वेल्ड A4 : Lap weld लैप वेल्ड	2.0	0.00
		Trade Theory		
2	2	What type of heat transfer mode occurs in liquids? तरल पदार्थों में किस प्रकार का ताप अंतरण मोड होता है? A1 : Conduction कन्डकशन A2 : Convection कंवेक्शन A3 : Radiation रेडीएशन A4 : Distillation डिस्टिलेशन	2.0	0.00
		Trade Theory		
3	3	What is the unit for rate of heat transfer? ऊष्मा अंतरण की दर के लिए इकाई क्या है? A1 : Joule Joule A2 : Newton Newton	2.0	0.00

		A3 : Pascal Pascal A4 : Watt Watt		
		Trade Theory		
4	4	What is SI unit of stress? तनाव की SI इकाई क्या है? A1 : cm/N cm/N A2 : N/m N/m A3 : N/cm^2 N/cm^2 A4 : N/M^2 N/M^2	2.0	0.00
		Trade Theory		
5	5	What is force per unit area? प्रति इकाई क्षेत्र बल क्या है? A1 : Stress Stress A2 : Strain Strain A3 : Elasticity Elasticity A4 : Density Density	2.0	0.00
		Trade Theory		
6	6	Which simple machine does a flag pole make use of? कौन सी सरल मशीन एक ध्वज पोल का उपयोग करती है? A1 : Lever उत्तोलक A2 : Screw स्क्रू A3 : Pulley पुली A4 : Inclined plane इन्क्लाईड प्लेन	2.0	0.00
		Trade Theory		
7	7	What is the least count of vernier caliper? वर्नियर कैलिपर की न्यूनतम संख्या क्या है? A1 : 0.10 mm 0.10 mm	2.0	0.00

SAMPLE QUESTION PAPER SET 3

		A2 : 0.01 mm 0.01 mm A3 : 0.05 mm 0.05 mm A4 : 0.02 mm 0.02 mm		
		Trade Theory		
8	8	Which forces applied in parallelogram law of forces? बलों के समांतर चतुर्भुज नियम में किन बलों को लागू किया गया? A1 : Collinear forces कोलिनियर बल A2 : Coplanar forces कोपलानर बल A3 : Concurrent forces समवर्ती बल A4 : Gravitational forces गुरुत्वाकर्षण बल	2.0	0.00
		Trade Theory		
9	9	How many types of friction? कितने प्रकार का घर्षण? A1 : One एक A2 : Two दो A3 : Three तीन A4 : Four चार	2.0	0.00
		Trade Theory		
10	10	Which is best conductor of electricity? बिजली का सबसे अच्छा सुचालक कौन है? A1 : Iron लोहा A2 : Brass पीतल A3 : Copper तांबा A4 : Carbon कार्बन	2.0	0.00
		Trade Theory		
11	11	Which gas is collected at cathode, while water is electrolyzed? कैथोड में कौन सी गैस एकत्र की जाती है, जबकि पानी इलेक्ट्रोलाइज किया जाता है?	2.0	0.00

SAMPLE QUESTION PAPER SET 3

		A1 : Sulphur गंधक A2 : Oxygen ऑक्सीजन A3 : Hydrogen हाइड्रोजन A4 : Sulphur dioxide सल्फर डाइऑक्साइड		
Trade Theory				
12	12	What is the unit of current? करंट की इकाई क्या है? A1 : Volt Volt A2 : Ampere Ampere A3 : Watts Watts A4 : Joule Joule	2.0	0.00
Trade Theory				
13	13	What is mass per unit volume? प्रति इकाई आयतन कितना द्रव्यमान है? A1 : Density Density A2 : Humidity Humidity A3 : Pascal Pascal A4 : Fluid Fluid	2.0	0.00
Trade Theory				
14	14	Which is a vector unit of velocity? वेग की एक सदिश इकाई कौन सी है? A1 : 30s 30s A2 : 30 m/s 30 m/s A3 : 30 south 30 south A4 : 30 m/s, south 30 m/s, south	2.0	0.00

SAMPLE QUESTION PAPER SET 3

		Trade Theory		
15	15	What is distance travelled by body in time? समय में शरीर द्वारा तय की गई दूरी क्या है? A1 : Instantaneous speed तत्काल गति A2 : Average velocity औसत गति A3 : Average acceleration औसत त्वरण A4 : Instantaneous acceleration तात्कालिक त्वरण	2.0	0.00
		Trade Theory		
16	16	How far a car travel in 25 min at 12m/s? 12 मी / से 25 मिनट में एक कार कितनी दूर तक जाती है? A1 : 24 km 24 km A2 : 10 km 10 km A3 : 18 km 18 km A4 : 14 km 14 km	2.0	0.00
		Trade Theory		
17	17	What is SI unit of force? बल की SI इकाई क्या है? A1 : Dyne Dyne A2 : Newton Newton A3 : Joule Joule A4 : Radian Radian	2.0	0.00
		Trade Theory		
18	18	What is an external effort in the form of push or pull that moves or tries to move a body at rest? पुश या पुल के रूप में एक बाहरी प्रयास क्या है जो शरीर को स्थानांतरित करने या आराम करने की कोशिश करता है? A1 : Force बल A2 : Inertia जड़ता A3 : Velocity वेग	2.0	0.00

SAMPLE QUESTION PAPER SET 3

		A4 : Mass द्रव्यमान		
		Trade Theory		
19	19	What is the ratio of limiting friction to the normal reaction between two surfaces in contact? संपर्क में दो सतहों के बीच सामान्य प्रतिक्रिया के लिए घर्षण को सीमित करने का अनुपात क्या है? A1 : Force बल A2 : Work काम A3 : Coefficient of friction घर्षण का गुणन A4 : Mass द्रव्यमान	2.0	0.00
		Trade Theory		
20	20	Which direction the force of friction acts with respect to the direction of motion of object? वस्तु की गति की दिशा के संबंध में घर्षण का बल किस दिशा में कार्य करता है? A1 : In the same direction to the direction of motion of object वस्तु की गति की दिशा में एक ही दिशा में A2 : In the opposite direction to the direction of motion of object वस्तु की गति की दिशा के विपरीत दिशा में A3 : In the perpendicular direction to the direction of motion of object वस्तु की गति की दिशा में लम्बवत दिशा में A4 : In the downwards direction to the direction of motion of object वस्तु की गति की दिशा में नीचे की दिशा में	2.0	0.00
		Trade Theory		
21	21	What is the ratio of the work output to the work input of a machine? मशीन के कार्य इनपुट के कार्य आउटपुट का अनुपात क्या है? A1 : Mechanical advantage यांत्रिक लाभ A2 : Efficiency दक्षता A3 : Work काम A4 : Power शक्ति	2.0	0.00
		Trade Theory		
22	22	Which is a simple machine? एक साधारण मशीन कौन सी है? A1 : Chair कुरसी A2 : Candle	2.0	0.00

SAMPLE QUESTION PAPER SET 3

		मोमबत्ती A3 : Table टेबल A4 : Pulley पूली		
		Trade Theory		
23	23	What is the use of ammeter? एमीटर का उपयोग क्या है? A1 : To measure current करंट मापने के लिए A2 : To measure voltage वोल्टेज मापने के लिए A3 : To measure resistance प्रतिरोध को मापने के लिए A4 : To measure power शक्ति को मापने के लिए	2.0	0.00
		Trade Theory		
24	24	Which circuit the voltage drop across each resistor is different? प्रत्येक रोकनेवाला में वोल्टेज ड्रॉप किस सर्किट से अलग होता है? A1 : Series connection श्रृंखला कनेक्शन A2 : Parallel connection समानांतर संबंध A3 : Series parallel connection श्रृंखला समानांतर कनेक्शन A4 : Wheat stone bridge व्हीटस्टोन पुल	2.0	0.00
		Trade Theory		
25	25	Which is the complete equipment of electrolysis? इलेक्ट्रोलिसिस का पूरा उपकरण कौन सा है? A1 : Electrolytic cell इलेक्ट्रोलाइटिक सेल A2 : Electrolytic circuit इलेक्ट्रोलाइटिक सर्किट A3 : Electrolytic current इलेक्ट्रोलाइटिक करंट A4 : Electrolytic process इलेक्ट्रोलाइटिक प्रक्रिया	2.0	0.00
		Trade Theory		
26	26	Which prevents radiation? जो विकिरण को रोकता है?	2.0	0.00

SAMPLE QUESTION PAPER SET 3

		A1 : Glass walls काँच की दीवारें A2 : Silver painted glass walls सिल्वर पेंट की हुई कांच की दीवारें A3 : Black painted glass walls काले रंग की कांच की दीवारें A4 : Metal walls धातु की दीवारें		
		Trade Theory		
27	27	What is the name of heat transfer by molecular collision? आणविक टकराव द्वारा गर्मी हस्तांतरण का नाम क्या है? A1 : Conduction कंडक्शन A2 : Convection कंवेक्शन A3 : Radiation विकिरण A4 : Scattering बिखरने	2.0	0.00
		Trade Theory		
28	28	Charles law is based on… चार्ल्स लॉ..... पर आधारित है. A1 : Solid ठोस A2 : Liquid तरल A3 : Gas गैस A4 : Plasma प्लाज्मा	2.0	0.00
		Trade Theory		
29	29	What is Young's modulus? यंग मॉड्यूलस क्या है? A1 : Stress/Stain Stress/Stain A2 : Strain / Stress Strain / Stress A3 : Stress - Strain Stress - Strain A4 : Stress + Strain Stress + Strain	2.0	0.00

SAMPLE QUESTION PAPER SET 3

Trade Theory				
30	30	What is strain? स्ट्रेन क्या है? A1 : Change in length / original length Change in length / original length A2 : Original length / Change in length Original length / Change in length A3 : Elastic limit / strain limit Elastic limit / strain limit A4 : Hooke's law Hooke's law	2.0	0.00
Trade Theory				
31	31	Which one will change from red litmus to blue? लाल लिटमस से नीले रंग में कौन सा परिवर्तन होगा? A1 : Hydrochloric acid हाइड्रोक्लोरिक एसिड A2 : Sodium hydroxide सोडियम हाइड्रॉक्साइड A3 : Potassium hydroxide पोटेशियम हाइड्रोक्साइड A4 : Calcium chloride कैल्शियम क्लोराइड	2.0	0.00
Trade Theory				
32	32	What is the formula of molality? मोलता का सूत्र क्या है? A1 : $M = \frac{\text{Moles of solution}}{\text{liters of solution}}$ A2 : $M = \frac{\text{Moles of solute}}{\text{Mass of solvent in Kg}}$ A3 : $M = \frac{\text{Mass of solvent in Kg}}{\text{Moles of solution}}$ A4 : $M = \frac{\text{Mole of solute}}{\text{liters of solution}}$	2.0	0.00
Trade Theory				
33	33	How many atomic number of Barium? बेरियम की संख्या कितनी है? A1 : 12 12	2.0	0.00

SAMPLE QUESTION PAPER SET 3

		A2 : 38 38 A3 : 20 20 A4 : 56 56		
		Trade Theory		
34	34	What is the unit of hardness of water? पानी की कठोरता की इकाई क्या है? A1 : Parts per million Parts per million A2 : Degree centigrade Degree centigrade A3 : Joule Joule A4 : Degree Fahrenheit Degree Fahrenheit	2.0	0.00
		Trade Theory		
35	35	What is hardness of water? पानी की कठोरता क्या है? A1 : Presence of potassium पोटेशियम की उपस्थिति A2 : Presence of chlorine क्लोरीन की उपस्थिति A3 : Presence of calcium and magnesium कैल्शियम और मैग्नीशियम की उपस्थिति A4 : Presence of boron बोरान की उपस्थिति	2.0	0.00
		Trade Theory		
36	36	Which electrons present in the outermost shell? सबसे बाहरी खोल में कौन से इलेक्ट्रॉन मौजूद हैं? A1 : Valancy electrons वैलेंस इलेक्ट्रॉनों A2 : Octet electrons ऑक्टेट इलेक्ट्रॉन A3 : Duplet electrons डुप्लिकेट इलेक्ट्रॉनों A4 : Valence electrons अणु की संयोजन क्षमता	2.0	0.00
		Trade Theory		
37	37	What is molecular formula of alkene? एल्केन का आणविक सूत्र क्या है?	2.0	0.00

SAMPLE QUESTION PAPER SET 3

		A1 : C_nH_{2n+2} C_nH_{2n+2} A2 : C_nH_{2n-2} C_nH_{2n-2} A3 : C_nH_{2n} C_nH_{2n} A4 : C_nH_{2n-1} C_nH_{2n-1}		
Trade Theory				
38	38	Rate of reaction of compounds is slow due to… अभिक्रिया यौगिकों की दर धीमी होने के कारण होती है… A1 : Covalent bonding सहसंयोजक बंधन A2 : Ionic bonding in item आइटम में आयोनिक बॉन्डिंग A3 : Atmospheric nature वायुमंडलीय प्रकृति A4 : Coordinate covalent bonding सहसंयोजक संबंध बंधन	2.0	0.00
Workshop Calculation Science				
39	39	What is the value for specific heat of water? पानी की विशिष्ट ऊष्मा का मान क्या है? A1 : 4 4 A2 : 3 3 A3 : 2 2 A4 : 1 1	2.0	0.00
Workshop Calculation Science				
40	40	At what temperature will Fahrenheit and centigrade thermometers give the same reading? किस तापमान पर फारेनहाइट और सेंटीग्रेड थर्मामीटर समान रीडिंग देते हैं? A1 : -38°C -38°C A2 : -39°C -39°C A3 : -40°C -40°C A4 : -41°C -41°C	2.0	0.00

SAMPLE QUESTION PAPER SET 3

		Workshop Calculation Science		
41	41	What is the boiling point of water? पानी का क्वथनांक क्या होता है? A1 : 0^oC 0^oC A2 : 32^oC 32^oC A3 : 100^oC 100^oC A4 : 212^oC 212^oC	2.0	0.00
		Workshop Calculation Science		
42	42	What is the SI unit of pressure? दाब की एस.आई. इकाई क्या है? A1 : Joule Joule A2 : Pascal Pascal A3 : Bar Bar A4 : Newton Newton	2.0	0.00
		Workshop Calculation Science		
43	43	Which is the unit of current? धारा की इकाई क्या है? A1 : Ampere एम्पियर A2 : Volt वोल्ट A3 : Ohm ओम A4 : Watt वाट	2.0	0.00
		Workshop Calculation Science		
44	44	What is the flow of electrons in any conductor? किसी कंडक्टर में इलेक्ट्रॉन का प्रवाह क्या होता है? A1 : Voltage वोल्टेज A2 : Current धारा A3 : Resistance	2.0	0.00

SAMPLE QUESTION PAPER SET 3

		प्रतिरोध A4 : Power शक्ति		
		Engineering Drawing		
45	45	Identify the name of tool? उपकरण का नाम पहचानें? 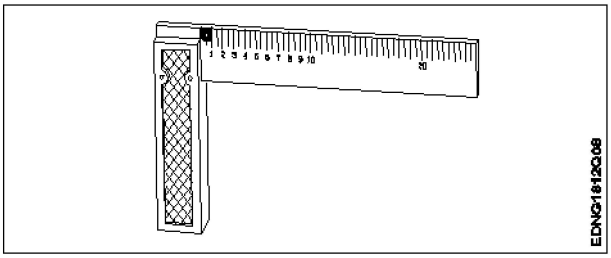 A1 : Try square बढ़ई की गुनिया A2 : Surface gauge सतह नापने का यंत्र A3 : Steel rule स्टील रूल A4 : Feeler gauge फ़ीलर गौज़	2.0	0.00
		Engineering Drawing		
46	46	Identify the name of tool? उपकरण का नाम पहचानें? 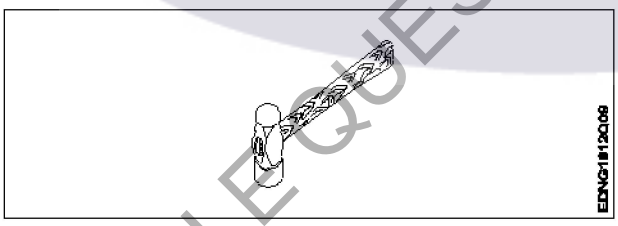 A1 : Ball pein hammer बॉल पीन हैमर A2 : Cross pein hammer क्रॉस पीन हैमर A3 : Straight pein hammer सीधे पीन हथौड़ा A4 : Sledge hammer स्लेज हैमर	2.0	0.00
		Engineering Drawing		
47	47	Identify the name of tool? उपकरण का नाम पहचानें?	2.0	0.00

SAMPLE QUESTION PAPER SET 3

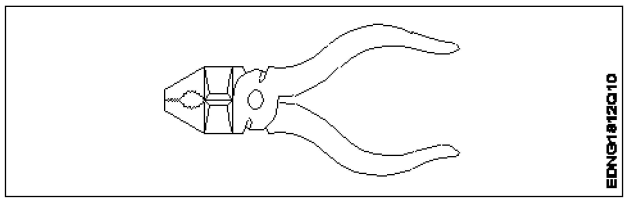

A1 : Hawk-billed shear

हॉक-बिल शीयर

A2 : Aviation shear

उड्डयन कतरनी

A3 : Cutting plier

काटने वाला सरौता

A4 : Double cutting shear

डबल काटने कतरनी

		Engineering Drawing		
48	48	Identify the name of tool? उपकरण का नाम पहचानें? 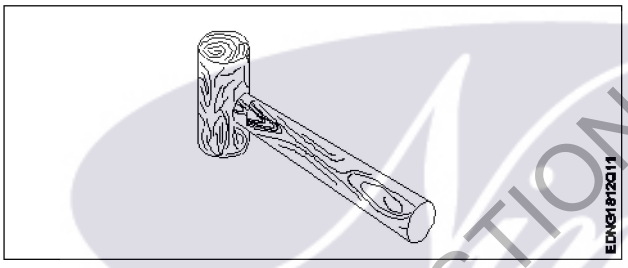 A1 : Ball pein hammer बॉल पीन हैमर A2 : Mallet लकड़ी का हथौड़ा A3 : Cross pein hammer क्रॉस पीन हैमर A4 : Staright pein hammer स्ट्रेट पीन हैमर	2.0	0.00
		Engineering Drawing		
49	49	Identify the name of tool? उपकरण का नाम पहचानें? 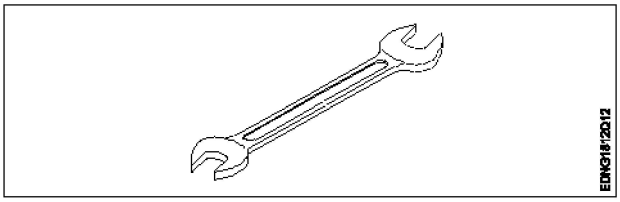 A1 : Open end spanner ओपन एंड स्पैनर	2.0	0.00

SAMPLE QUESTION PAPER SET 3

		A2 : Ring spanner गोल पाना A3 : Combination spanner संयोजन स्पैनर A4 : Adjustable spanner समायोज्य औजार		
		Engineering Drawing		
50	50	Which dimension correctly marked in the circle as per standard? मानक के अनुसार सर्कल में कौन सा आयाम सही ढंग से चिह्नित है? A1 : 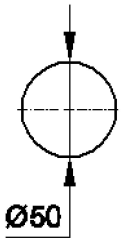 A2 : 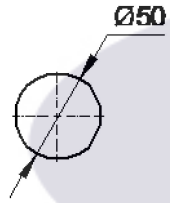 A3 : 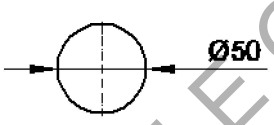 A4 : 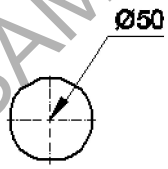	2.0	0.00
		Employability Skills		
51	51	Which one of the following is a good office etiquette? निम्नलिखित में से कौन सा एक अच्छा कार्यालय शिष्टाचार है? A1 : One should dress formally एक को औपचारिक रूप से पोशाक पहननी चाहिए A2 : One should not be punctual to work काम के लिए समय का पाबंद नहीं होना चाहिए	2.0	0.00

SAMPLE QUESTION PAPER SET 3

		A3 : One should have fancy mobile ring tone एक के पास फैंसी मोबाइल रिंग टोन होना चाहिए A4 : One should litter one's work place व्यक्ति को अपने काम के स्थान पर कूड़ा डालना चाहिए		
Employability Skills				
52	52	Word that is pronounced the same as another word but differs in meaning is called _____ वह शब्द जो किसी दूसरे शब्द के समान होता है, लेकिन अर्थ में भिन्न होता है, जिसे _____ कहा जाता है A1 : homophone होमोफ़ोन A2 : homograph होमोग्रफ़ A3 : diphthong संयुक्त स्वर A4 : syllable शब्दांश	2.0	0.00
Employability Skills				
53	53	_____ can help me learn English. _____ मुझे अंग्रेजी सीखने में मदद कर सकता है। A1 : dedication निष्ठा A2 : fear डर A3 : anger क्रोध A4 : shyness शर्म	2.0	0.00
Employability Skills				
54	54	Which punctuation mark should be used in the following sentence? Is there any site engineer here निम्नलिखित वाक्य में किस विराम चिह्न का प्रयोग किया जाना चाहिए? Is there any site engineer here A1 : ? (question mark) ? (question mark) A2 : , (comma) , (comma) A3 : . (full stop) . (full stop) A4 : ! (exclamation) ! (exclamation)	2.0	0.00
Employability Skills				
55	55	When is capital letter used? बड़े अक्षर का प्रयोग कब किया जाता है? A1 : Beginning of a sentence	2.0	0.00

SAMPLE QUESTION PAPER SET 3

		एक वाक्य की शुरुआत A2 : Names of persons व्यक्तियों के नाम A3 : Names of places स्थानों के नाम A4 : All the above सब से ऊपर		
		Employability Skills		
56	56	Which one of the following is a describing word? निम्नलिखित में से कौन-सा एक वर्णनात्मक शब्द है? A1 : eat खाना खा लो A2 : repair मरम्मत A3 : hot गरम A4 : soup शोरबा	2.0	0.00
		Employability Skills		
57	57	When someone says 'Thank you' we should reply and say _____. जब कोई 'Thank you (धन्यवाद)' कहता है तो हमें जवाब देना चाहिए और _____ कहना चाहिए। A1 : Thank you. शुक्रिया A2 : You're welcome. आपका स्वागत है A3 : Bye-bye बाई-बाई A4 : How are you? आप कैसे हैं?	2.0	0.00
		Employability Skills		
58	58	Choose the odd word. odd (विषम) शब्द चुनें। A1 : please please A2 : sorry sorry A3 : paper paper A4 : thanks thanks	2.0	0.00
		Employability Skills		
59	59	I am a welder. I work with _____	2.0	0.00

SAMPLE QUESTION PAPER SET 3

		मैं एक वेल्डर हूँ। मैं _____ साथ कार्य करता हूँ । A1 : nail polish नेल पॉलिश A2 : robots रोबोटों A3 : welding tools वेल्डिंग उपकरण A4 : laptops लैपटॉप		
		Employability Skills		
60	60	Today's weather is going to be _____. आज का मौसम _____ होने जा रहा है। A1 : Hopeful आशापूर्ण A2 : Warm गरम A3 : Blue नीला A4 : Urgent बहुत ज़रूरी	2.0	0.00
		Employability Skills		
61	61	The word 'when' denotes _____ शब्द 'when (जब)' _____ को दर्शाता है A1 : place स्थान A2 : thing चीज़ A3 : person व्यक्ति A4 : time समय	2.0	0.00
		Employability Skills		
62	62	Rahul enjoys _____ with his pet dog. राहुल को अपने पालतू कुत्ते के साथ _____ में मजा आता है। A1 : playing खेलने A2 : writing लिखने A3 : doing करने	2.0	0.00

SAMPLE QUESTION PAPER SET 3

		A4 : washing धुलाने		
		Employability Skills		
63	63	Having a clear idea of our personality including strengths, weaknesses, thoughts, beliefs, motivation, values etc is called _____. हमारे व्यक्तित्व का स्पष्ट विचार रखने को ताकत, कमजोरियों, विचारों, विश्वासों, प्रेरणा, मूल्यों आदि सहित को _____ कहा जाता है। A1 : Belief विश्वास A2 : Self Awareness आत्म जागरूकता A3 : Myth मिथ A4 : Threat धमकी	2.0	0.00
		Employability Skills		
64	64	_____ are the abilities and qualities you have as a person that helps you grow well in life and career. _____ एक व्यक्ति के रूप में आपके पास मौजूद क्षमताएं और गुण हैं जो आपको जीवन और करियर में अच्छी तरह से बढ़ने में मदद करते हैं। A1 : Personal Strengths व्यक्तिगत ताक़त A2 : Personal weaknesses व्यक्तिगत कमजोरियां A3 : Opportunities मौके A4 : Threats धमकी	2.0	0.00
		Employability Skills		
65	65	_____ are the qualities that are considered negative, and need to be worked on. _____ ऐसे गुण हैं जिन्हें नकारात्मक माना जाता है और जिन पर काम करने की आवश्यकता है। A1 : Personal Strengths व्यक्तिगत ताक़त A2 : Personal weaknesses व्यक्तिगत कमजोरियां A3 : Opportunities मौके A4 : Threats धमकी	2.0	0.00
		Employability Skills		
66	66	Which of the following is an example of personal weakness? व्यक्तिगत कमजोरी का उदाहरण निम्नलिखित में से कौन सी है? A1 : Confidence आत्मविश्वास	2.0	0.00

SAMPLE QUESTION PAPER SET 3

		A2 : Being lazy आलसी होना A3 : Hard working मेहनती A4 : Active सक्रिय		
		Employability Skills		
67	67	Goals are of 2 types _____ लक्ष्य 2 प्रकार के होते हैं: A1 : Good and bad goals अच्छे और बुरे लक्ष्य A2 : Long-term and short-term goals दीर्घकालिक और अल्पकालिक लक्ष्य A3 : Rich and poor goals अमीर और गरीब लक्ष्य A4 : Fixed-term and non-fixed term goals निश्चित अवधि और गैर-निश्चित अवधि के लक्ष्य	2.0	0.00
		Employability Skills		
68	68	What is stress? तनाव क्या है? A1 : Feeling of joy आनंद की अनुभूति A2 : Feeling of surprise आश्चर्य की अनुभूति A3 : Feeling of delight आनंद की अनुभूति A4 : Feeling of frustration / disappointment निराशा / निराशा की भावना	2.0	0.00
		Employability Skills		
69	69	Which of these is a sign of good stress? अच्छे तनाव का संकेत इनमें से कौन सा है? A1 : It prevents you from pursuing your goals. यह आपको अपने लक्ष्यों का पीछा करने से रोकता है। A2 : It makes you doubt yourself. यह आपको खुद पर शक करता है। A3 : Does not lead to long-term tension, loss of sleep. लंबे समय तक तनाव, नींद की कमी नहीं होती है। A4 : Makes you physically ill or causes pain. आपको शारीरिक रूप से बीमार बनाता है या दर्द का कारण बनता है।	2.0	0.00
		Employability Skills		
70	70	An activity that stops or reduces stress is called a stress buster. Which of the following according to you is not a stress buster?	2.0	0.00

SAMPLE QUESTION PAPER SET 3

		एक गतिविधि जो तनाव को रोकती है या कम करती है उसे स्ट्रेस बस्टर कहा जाता है। आपके अनुसार निम्नलिखित में से कौन एक स्ट्रेस बस्टर नहीं है? A1: Spending long hours thinking about the problem. लंबे समय तक समस्या के बारे में सोचते रहना। A2: Going to bed on time. समय पर बिस्तर जाना A3: Listening to music. संगीत सुनना A4: Gardening बागवानी		
		Employability Skills		
71	71	What is mindfulness? माइंडफुलनेस क्या है? A1: It is the technique of not minding anything. यह किसी भी चीज पर ध्यान न देने की तकनीक है। A2: It is about sharpening your brain. यह आपके दिमाग को तेज करने के बारे में है। A3: It is the ability to be fully present in a moment. यह एक पल में पूरी तरह से उपस्थित होने की क्षमता है। A4: It is the word used to describe people who are full of thoughts. यह उन लोगों का वर्णन करने के लिए इस्तेमाल किया जाने वाला शब्द है जो विचारों से भरे हुए हैं।	2.0	0.00
		Employability Skills		
72	72	Which of the following is true about stress? तनाव के बारे में सही निम्नलिखित में से कौन सी है? A1: Stress can be managed तनाव को प्रबंधित किया जा सकता है A2: Stress cannot be controlled तनाव को नियंत्रित नहीं किया जा सकता A3: Stress can not be decreased तनाव कम नहीं हो सकता A4: All of the above ऊपर के सभी	2.0	0.00
		Employability Skills		
73	73	Which of the following statements is true? निम्नलिखित में से कौन से वतव्य विवरण सत्य हैं? A1: Only experts can solve any problem किसी भी समस्या का समाधान केवल विशेषज्ञ ही कर सकते हैं A2: The more problems you solve, the better you will get at problem solving! आप जितनी अधिक समस्याओं का समाधान करेंगे, समस्या को सुलझाने में आप उतने ही बेहतर होंगे! A3: We need to pursue a course to even solve a simple problem हमें एक साधारण समस्या को हल करने के लिए भी एक कोर्स करने की आवश्यकता है	2.0	0.00

SAMPLE QUESTION PAPER SET 3

		A4 : It is not important to solve any problem किसी भी समस्या का समाधान जरूरी नहीं है		
Employability Skills				
74	74	Which of these should be considered while making decisions? निर्णय लेते समय इनमें से किस पर विचार किया जाना चाहिए? A1 : Your mood तुम्हारा मिज़ाज A2 : The choices of your friends आपके दोस्तों की पसंद A3 : The rules of your community आपके समुदाय के नियम A4 : Your personal priorities. आपकी व्यक्तिगत प्राथमिकताएं।	2.0	0.00
Employability Skills				
75	75	Which of these is the full form of SWOT? इनमें से कौन SWOT का पूर्ण रूप है? A1 : Special Wellness Organization Theme Special Wellness Organization Theme A2 : Speak Work Openly Together Speak Work Openly Together A3 : Strong World Olympic Team Strong World Olympic Team A4 : Strength Weakness Opportunity Threat Strength Weakness Opportunity Threat	2.0	0.00

SAMPLE QUESTION PAPER SET 3

Maintenance Mechanic (Chemical Plant) - 1st Year - Set 3

S.No.	Correct Answer Key
1	A1
2	A2
3	A4
4	A4
5	A1
6	A3
7	A4
8	A3
9	A4
10	A3
11	A3
12	A2
13	A1
14	A4
15	A2
16	A3
17	A2
18	A1
19	A3
20	A2
21	A2
22	A4
23	A1
24	A1
25	A1
26	A2
27	A2
28	A3
29	A1
30	A1
31	A1
32	A2
33	A4
34	A1
35	A3
36	A4
37	A3
38	A1

S.No.	Correct Answer Key
39	A4
40	A3
41	A3
42	A2
43	A1
44	A2
45	A1
46	A1
47	A3
48	A2
49	A1
50	A2
51	A1
52	A1
53	A1
54	A1
55	A4
56	A3
57	A2
58	A3
59	A3
60	A2
61	A4
62	A1
63	A2
64	A1
65	A2
66	A2
67	A2
68	A4
69	A3
70	A1
71	A3
72	A1
73	A2
74	A4
75	A4

KEY ANSWER SET 3

Note:
"In case answers found to be inaccurate due to typographical error or any other reason please sent mail to **qbnimigrievance@gmail.com**"