Max Marks : 150

ALL INDIA TRADE TEST - 2024 FOR CRAFSTMEN TRAINING SCHEME (CTS)
Trade Name: Plastic Processing Operator
Year: 1st Year

Exam Date :
Exam Time :

Note:
1. Tick the correct option out of four alternatives provided
2. All questions carry equal marks (2 Marks each)
3. There is no negative marking

SAMPLE QUESTION PAPER SET 1

Sr. No.	Q ID	Question Body and Alternatives	Marks	Negative Marks
		Trade Theory		
1	1	What material is used to clean the oily floor? तैलीय फर्श को साफ करने के लिए किस सामग्री का उपयोग किया जाता है? A1 : Cotton waste कॉटन वेस्ट A2 : Putting saw dust लकड़ी का बुरादा डालकर A3 : Putting water पानी डालकर A4 : Spraying CO_2 or sand CO_2 अथवा रेत छिड़कना	2.0	0.00
		Trade Theory		
2	2	Which one of the following is the striking tools? निम्नलिखित में से कौन सा चोट मारने वाला औजार (स्ट्राइकिंग टूल) है? A1 : Hammer हथौड़ा A2 : Chisel छेनी A3 : Hack saw हैक सॉ A4 : Punch पंच	2.0	0.00
		Trade Theory		
3	3	Which marking tool is used to draw circles and arcs? किस अंकन औजार (मार्किंग टूल) का उपयोग वृत्तों और चापों को खींचने के लिए किया जाता है? A1 : Steel rule स्टील रूल A2 : Punch पंच A3 : Divider डिवाइडर	2.0	0.00

		A4 : Scriber स्क्राइबर		
		Trade Theory		
4	4	Which type of file is used for filing "v" grooves and notches? किस प्रकार की फाइल को "वी" खांचे तथा नॉच की फाइलिंग के लिए उपयोग किया जाता है? A1 : Square file स्क्वायर फ़ाइल A2 : Triangular file ट्रायंगुलर फ़ाइल A3 : Round file राउंड फाइल A4 : Flat file फ्लैट फाइल	2.0	0.00
		Trade Theory		
5	5	How the length of a file is specified? किसी फ़ाइल की लंबाई कैसे निर्दिष्ट की जाती है? A1 : Point to heel पॉइंट से हील तक A2 : Point to tang पॉइंट से टैंग तक A3 : Point to ferrule पॉइंट से फेरूल तक A4 : Point to handle पॉइंट से हैंडल तक	2.0	0.00
		Trade Theory		
6	6	What is pinning of files? फ़ाइलों की पिनिंग क्या है? A1 : Filing method फाइलिंग विधि A2 : Types of files फाइलों के प्रकार A3 : Clogging of metal chips between the teeth of files फ़ाइलों के दांतों के बीच धातु के चिप्स फंसना A4 : Holding the file फ़ाइल को पकड़ना	2.0	0.00
		Trade Theory		
7	7	What is the point- angle of general purpose twist drill? सामान्य उद्देश्य ट्विस्ट ड्रिल का बिंदु- कोण क्या होता है? A1 : 90° 90° A2 : 70° 70° A3 : 125° 125°	2.0	0.00

SAMPLE QUESTION PAPER SET 1

		A4 : 118° 118°		
		Trade Theory		
8	8	What is the least count of a metric micrometer? मीट्रिक माइक्रोमीटर की अल्पतमांक क्या होती है? A1 : 0.01 mm 0.01 mm A2 : 0.02 mm 0.02 mm A3 : 0.1 mm 0.1 mm A4 : 0.002 mm 0.002 mm	2.0	0.00
		Trade Theory		
9	9	Which type of Fire extinguisher is used to extinguish Class A fire? क्लास ए फायर को बुझाने के लिए किस प्रकार के अग्निशामक का उपयोग किया जाता है? A1 : Water पानी A2 : Powder पाउडर A3 : Carbon di oxide कार्बन डाइआक्साइड A4 : Foam फोम (झाग)	2.0	0.00
		Trade Theory		
10	10	What is the name of drill holding device? ड्रिल होल्डिंग डिवाइस का नाम क्या है? A1 : Column कॉलम A2 : Chuck चक A3 : Base बेस A4 : Table टेबल	2.0	0.00
		Trade Theory		
11	11	Which is the event of an accident? कौन एक दुर्घटना की घटना (वाकया) है? A1 : Unexpected अप्रत्याशित A2 : Desirable वांछित A3 : Controlled नियंत्रित	2.0	0.00

SAMPLE QUESTION PAPER SET 1

		A4 : Continuous निरंतर (सतत)		
		Trade Theory		
12	12	What is the reason for class A fire? वर्ग A अग्नि का कारण क्या है? A1 : Oil तेल A2 : Transformer ट्रांसफार्मर A3 : Chemical रसायन A4 : Wood लकड़ी	2.0	0.00
		Trade Theory		
13	13	Which is an indirect measuring instrument? अप्रत्यक्ष मापक यंत्र कौन सा है? A1 : Inside caliper आतंरिक कैलीपर A2 : Vernier caliper वर्नियर कैलीपर्स A3 : Micrometer माइक्रोमीटर A4 : Bevel protractor बेवल प्रोट्रैक्टर	2.0	0.00
		Trade Theory		
14	14	What is the reason for breakage of blade while hacksawing? हैकसॉइंग करते समय ब्लेड के टूटने का क्या कारण है? A1 : The teeth being worn out दांत घिस जाना A2 : Generation of heat ऊष्मा उत्पन्न होना A3 : Blade being tightened ब्लेड का टाइट होना A4 : Blade being loosened ब्लेड का ढीला होना	2.0	0.00
		Trade Theory		
15	15	What is the basic criteria for the point angle of twist- drill? ट्विस्ट-ड्रिल के बिंदु कोण के लिए बुनियादी मानदंड क्या है? A1 : Material to be drilled मटीरियल को ड्रिल किया जाना है A2 : Size of the drill ड्रिल का आकार A3 : Cutting speed काटने की गति	2.0	0.00

SAMPLE QUESTION PAPER SET 1

		A4 : Type of drilling machine ड्रिलिंग मशीन का प्रकार		
		Trade Theory		
16	16	What is the working principle of micrometer? माइक्रोमीटर का कार्य सिद्धांत क्या है? A1 : Stud स्टड A2 : Screw and nut स्क्रू तथा नट A3 : Screw स्क्रू A4 : Bolt बोल्ट	2.0	0.00
		Trade Theory		
17	17	What is the purpose of lock nut in the micrometer? माइक्रोमीटर में लॉक नट का क्या उद्देश्य है? A1 : To measure the work piece accurately वर्कपीस को सही ढंग से मापने के लिए A2 : To lock the micrometer when it is not in use जब माइक्रोमीटर उपयोग में न हो, तो इसे लॉक करने के लिए A3 : To control the movement of the spindle स्पिंडल के चालन को नियंत्रित करने के लिए A4 : To lock the reading after setting it over the work piece कार्य खंड रीडिंग स्थापित करने के बाद रीडिंग को लॉक करने के लिए	2.0	0.00
		Trade Theory		
18	18	Which tool is used for making external threads? बाहरी चूड़ियाँ बनाने के लिए किस उपकरण का उपयोग किया जाता है? A1 : Tap टैप A2 : Die डाई A3 : Reamer रीमर A4 : Drill bit ड्रिल बिट	2.0	0.00
		Trade Theory		
19	19	How should you open the airway of an unconscious casualty? आपको एक अचेतन अकस्मात के वायुमार्ग को कैसे खोलना चाहिए? A1 : Head tilt and chin lift सिर झुकाकर तथा ठोड़ी उठाकर A2 : jaw thrust जॉ थ्रस्ट A3 : head tilt and jaw thrust सिर झुकाकर तथा जॉ थ्रस्ट	2.0	0.00

SAMPLE QUESTION PAPER SET 1

		A4 : Lift the Chin चिन को ऊपर उठाएं		
		Trade Theory		
20	20	What is the reason for broken drill or split web occurs? टूटी हुई ड्रिल या स्प्लिट वेब होने का क्या कारण है? A1 : Point angle is correct बिंदु कोण सही है A2 : Drill is sharp ड्रिल तेज है A3 : Feed rate is too low फ़ीड दर बहुत कम है A4 : Cutting speed is too high काटने की गति बहुत अधिक है	2.0	0.00
		Trade Theory		
21	21	What is the unit of resistance? प्रतिरोध की इकाई क्या है? A1 : Ohm Ohm A2 : Volt Volt A3 : Ampere Ampere A4 : Watt Watt	2.0	0.00
		Trade Theory		
22	22	What is the basic unit of electrical current? विद्युत धारा की मूल इकाई क्या है? A1 : Volt Volt A2 : Ampere Ampere A3 : Resistance Resistance A4 : Watt Watt	2.0	0.00
		Trade Theory		
23	23	Which statement is correct? कौन सा कथन सही है? A1 : $I = \frac{V}{R}$ A2 : $\frac{1}{V} = \frac{1}{R} + \frac{1}{I}$ A3 :	2.0	0.00

SAMPLE QUESTION PAPER SET 1

		$\frac{1}{R} = \frac{1}{V} - \frac{1}{I}$ A4 : $R = \frac{1}{V} \div \frac{I}{I}$		
		Trade Theory		
24	24	What is the value of resistance, if the circuit is shorted? यदि सर्किट को शॉर्ट किया जाता है, तो प्रतिरोध का मान क्या होता है? A1 : Low कम A2 : High उच्च A3 : Zero शून्य A4 : Infinity अनन्त	2.0	0.00
		Trade Theory		
25	25	What is the definition of current? धारा की परिभाषा क्या है? A1 : Components in a circuit एक परिपथ में घटक A2 : The total amount of charge आवेश की कुल मात्रा A3 : The rate of flow of electrons in a circuit एक परिपथ में इलेक्ट्रॉनों के प्रवाह की दर A4 : Potential between each side of a component एक घटक के प्रत्येक पक्ष के बीच पोटेंशियल (विभव)	2.0	0.00
		Trade Theory		
26	26	Which statement is correct for parallel circuits? समानांतर परिपथ (पैरेलल सर्किट) के लिए कौन सा कथन सही है? A1 : $I = \frac{V}{r_1} + \frac{r_2}{V} + \frac{V}{r_3}$ A2 : $I = \frac{V}{r_1} + \frac{V}{r_2} + \frac{V}{r_3}$ A3 : $I = \frac{V}{r_1} - \frac{V}{r_2} - \frac{V}{r_3}$ A4 : $I = \frac{V}{r_1} + \frac{V}{r_2} - \frac{V}{r_3}$	2.0	0.00
		Trade Theory		
27	27	Which instrument is used to record the total amount of electrical energy consumed for a day? एक दिवस में खपत होने वाली कुल विद्युत ऊर्जा को रिकॉर्ड करने के लिए किस उपकरण का उपयोग किया जाता है? A1 : Volt meter	2.0	0.00

SAMPLE QUESTION PAPER SET 1

		वोल्ट मीटर A2 : Energy meter ऊर्जा मीटर A3 : Thermometer थर्मामीटर A4 : Barometer बैरोमीटर		
		Trade Theory		
28	28	What is 1 KWH? 1 KWH क्या है? A1 : 100 WHr 100 WHr A2 : 500 WHr 500 WHr A3 : 1000 WHr 1000 WHr A4 : 200 WHr 200 WHr	2.0	0.00
		Trade Theory		
29	29	Which device is settings to protect electrical equipment and machines from over loading? विद्युत उपकरण और मशीनों को ओवर लोडिंग से बचाने के लिए कौन सी युक्ति (डिवाइस) की सेटिंग की जाती है? A1 : Energy meter ऊर्जा मीटर A2 : Volt meter वोल्ट मीटर A3 : Ammeter एमीटर A4 : Fuse फ्यूज़	2.0	0.00
		Trade Theory		
30	30	What is the full form of XLDPE? XLDPE का पूर्ण रूप क्या है? A1 : Low Density Poly Ethylene Low Density Poly Ethylene A2 : Linear Low Density Poly Ethylene Linear Low Density Poly Ethylene A3 : Cross Linked Low Density Poly Ethylene Cross Linked Low Density Poly Ethylene A4 : High Density Poly Ethylene High Density Poly Ethylene	2.0	0.00
		Trade Theory		
31	31	Which is define polymers? पॉलिमर कहलाते हैं? A1 : PE + PP PE + PP	2.0	0.00

SAMPLE QUESTION PAPER SET 1

		A2 : PP + PS PP + PS A3 : PC + PP PC + PP A4 : PA + PC PA + PC		
		Trade Theory		
32	32	Which plastic melts and drips during burning? कौन सा प्लास्टिक पिघलता है और जलने के दौरान टपकता है? A1 : Poly propylene पॉली प्रोपलीन A2 : Poly vinyl chloride पॉलीविनाइल क्लोराइड A3 : Poly styrene पॉली स्टाइरीन A4 : Poly carbonate पॉली कार्बोनेट	2.0	0.00
		Trade Theory		
33	33	Which polymer produces metallic sound when dropped? किस बहुलक को गिराए जाने पर धात्विक ध्वनि उत्पन्न होती है? A1 : Poly vinyl chloride पॉली विनाइल क्लोराइड A2 : Poly methyl methacrylate पॉलि मिथाइल मेथाक्रायलेट A3 : Poly styrene पॉली स्टाइरीन A4 : Poly ethylene पॉली एथिलीन	2.0	0.00
		Trade Theory		
34	34	Which type of polymer is unable to transparent in nature? किस प्रकार का बहुलक प्रकृति में पारदर्शी होने में असमर्थ है? A1 : Poly styrene पॉली स्टाइरीन A2 : High density poly ethylene हाइ डेन्सिटी पोलि एथीलीन A3 : Poly methyl methacrylate पॉलिमिथाइल मेथाक्रायलेट A4 : Styrene acrylo nitrile स्टाइलिन एक्रिलोनाइट्राइल	2.0	0.00
		Trade Theory		
35	35	What are of the following is engineering plastics? इंजीनियरिंग प्लास्टिक निम्नलिखित में से क्या हैं? A1 : Polyethylene terephthalate (PET) पॉली एथिलीन टेरेफ्थेलेट (पीईटी)	2.0	0.00

SAMPLE QUESTION PAPER SET 1

		A2 : Poly vinyl chloride पॉलीविनाइल क्लोराइड A3 : Poly styrene पॉली स्टाइरीन A4 : Poly vinyl alcohol पॉलीविनायल अल्कोहल		
		Trade Theory		
36	36	Which plastic has got cup flow test? किस प्लास्टिक का कप फ्लो टेस्ट होता है? A1 : Crystalline क्रिस्टलीय A2 : Thermosetting थर्मोसेटिंग A3 : Thermoplastics थर्मोप्लास्टिक A4 : Fibres फाइबर (रेशे)	2.0	0.00
		Trade Theory		
37	37	What is the full form of UTM? "UTM" का पूर्ण रूप क्या है? A1 : Universal Test Method Universal Test Method A2 : Urea Test Method Urea Test Method A3 : Universal Testing Machine Universal Testing Machine A4 : Unlimited Test Method Unlimited Test Method	2.0	0.00
		Trade Theory		
38	38	Which type of polymer material is universally dark and opaque? किस प्रकार की बहुलक सामग्री सार्वभौमिक अंधेरे और अपारदर्शी है? A1 : Urea formaldehyde यूरिया फॉर्मलडिहाइड A2 : Poly carbonate पॉली कार्बोनेट A3 : Poly styrene पॉली स्टाइरीन A4 : Phenol formaldehyde फेनॉल फॉर्मलडिहाइड	2.0	0.00
		Workshop Calculation and Science		
39	39	What are the two classifications of system of units? इकाइयों की प्रणाली के दो प्रकार कोनसे हैं? A1 : British and Metric ब्रिटिश और मीट्रिक	2.0	0.00

SAMPLE QUESTION PAPER SET 1

		A2 : Gravitational and non-gravitational गुरुत्वाकर्षण और गैर-गुरुत्वाकर्षण A3 : Fundamental and derived मौलिक और व्युत्पन्न A4 : Metric and International मैट्रिक और इंटरनेशनल		
Workshop Calculation and Science				
40	40	What are fundamental units? इनमे से मूलभूत इकाइयाँ कोन-कोनसी हैं? A1 : Length, Mass, Volume लंबाई, द्रव्यमान, आयतन A2 : Length, Mass, Time लंबाई, द्रव्यमान, समय A3 : Length, Mass, Area लंबाई, द्रव्यमान, क्षेत्रफल A4 : Length, Pressure, Volume लंबाई, दाब , आयतन	2.0	0.00
Workshop Calculation and Science				
41	41	What denotes letter 'M' in MKS system? MKS प्रणाली में 'M' अक्षर क्या दर्शाता है? A1 : Mile Mile A2 : Meter Meter A3 : Millimeter Millimeter A4 : Micron Micron	2.0	0.00
Workshop Calculation and Science				
42	42	What is the square root of 529? 529 का वर्गमूल क्या है? A1 : 13 13 A2 : 23 23 A3 : 33 33 A4 : 43 43	2.0	0.00
Workshop Calculation and Science				
43	43	What percentage of 80 is 20? 80 का 20 प्रतिशत क्या है? A1 : 80% 80% A2 : 40%	2.0	0.00

SAMPLE QUESTION PAPER SET 1

		40% A3 : 25% 25% A4 : 20% 20%		
		Workshop Calculation and Science		
44	44	Convert 0.456 decimal fraction into percentage? 0.456 दशमलव भिन्न को प्रतिशत में बदलिये? A1 : 45.6% 45.6% A2 : 4.56% 4.56% A3 : 0.456% 0.456% A4 : 0.0456% 0.0456%	2.0	0.00
		Engineering Drawing		
45	45	Identify the conventional symbol of material? चित्र में दिखाए गए सामग्री के पारंपरिक प्रतीक का पता लगाएं? 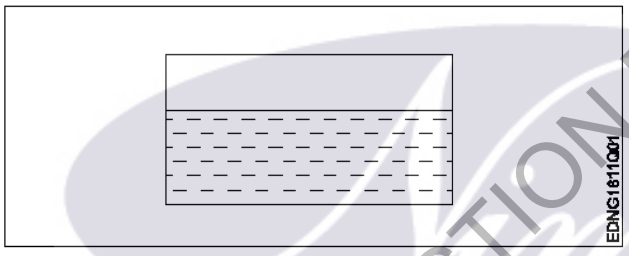 A1 : Water पानी A2 : Concrete ठोस A3 : Asbestos ऐस्बेटस A4 : Glass कांच	2.0	0.00
		Engineering Drawing		
46	46	Identify the conventional symbol of material? चित्र में दिखाए गए सामग्री के पारंपरिक प्रतीक का पता लगाएं? 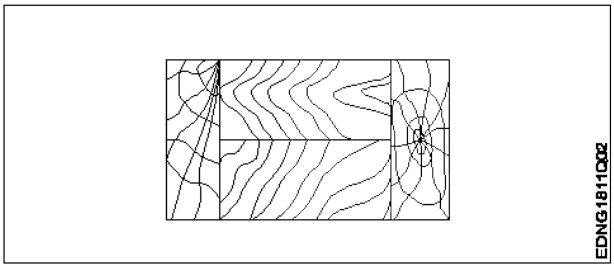 A1 : Lead लेड	2.0	0.00

SAMPLE QUESTION PAPER SET 1

		A2 : Glass कांच A3 : Wood लकड़ी A4 : Paper कागज़		
		Engineering Drawing		
47	47	Identify the name of instrument? चित्र में दिखाए गए उपकरणों के नाम की पहचान करें? 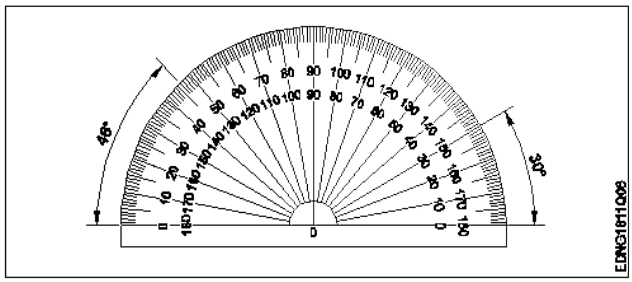 A1 : Set square गुनिया A2 : Protractor चांदा A3 : French curve फ़्रांसीसी वक्र A4 : ' T ' square टी स्क्वायर	2.0	0.00
		Engineering Drawing		
48	48	Identify the name of set square? सेट स्क्वायर का नाम खोजें? 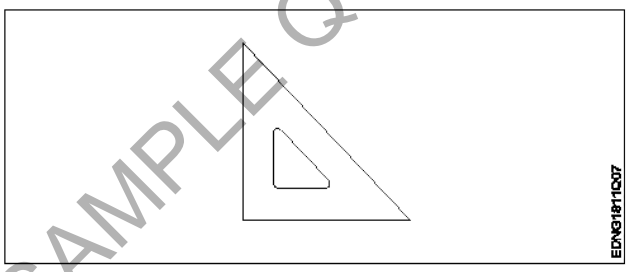 A1 : 15° set square 15° सेट स्क्वायर A2 : 60° set square 60° सेट स्क्वायर A3 : 30° set square 30°सेट स्क्वायर A4 : 45° set square 45° सेट स्क्वायर	2.0	0.00
		Engineering Drawing		
49	49	Compass used to draw for___. कम्पास का उपयोग ___ को ड्रा करने के लिए किया जाता है.	2.0	0.00

SAMPLE QUESTION PAPER SET 1

		A1 : rectangle आयत A2 : square वर्ग A3 : circle वृत्त A4 : triangle त्रिकोण		
		Engineering Drawing		
50	50	Which title block position is correct as standard practice? एक मानक अभ्यास के रूप में कौन सी शीर्षक ब्लॉक स्थिति सही है? A1 : 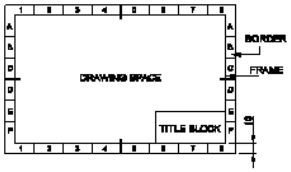 A2 : 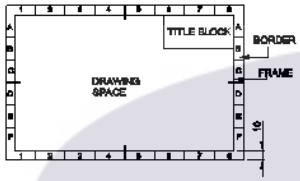 A3 : 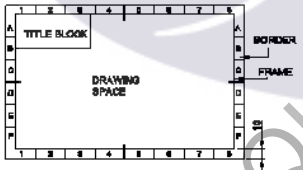 A4 : 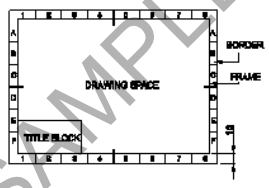 	2.0	0.00
		Employability Skills		
51	51	To be in a job or work is _____ नौकरी या काम में होना है …… A1 : Employ रोजगार A2 : Skill कौशल A3 : Knowledge ज्ञान A4 : Aptitude योग्यता	2.0	0.00

SAMPLE QUESTION PAPER SET 1

		Employability Skills		
52	52	Information like date of birth, permanent address form a part of one's _____ in the resume. जन्म तिथि, स्थायी पता जैसी जानकारी रिज्यूमे में किसी के _____ का हिस्सा होती है। A1 : Career objectives कैरियर के उद्देश्यों A2 : Personal details व्यक्तिगत विवरण A3 : Achievements उपलब्धियों A4 : Qualifications योग्यता	2.0	0.00
		Employability Skills		
53	53	A person with a growth mindset is always willing to _____ एक विकास मानसिकता वाला व्यक्ति हमेशा ..... तैयार रहता है। A1 : relax आराम करने में A2 : grow, change, learn बढ़ो, बदलो, सीखो A3 : keep quiet चुप रहने में A4 : become rich अमीर बनने	2.0	0.00
		Employability Skills		
54	54	Jobs that have become outdated in the past 5 years _____ ..... नौकरियां जो पिछले 5 वर्षों में पुरानी हो गई हैं। A1 : STD booth STD बूथ A2 : ola ओला A3 : uber उबेर A4 : swiggy Swiggy	2.0	0.00
		Employability Skills		
55	55	Ethics means _____ नैतिकता का अर्थ है....। A1 : decide what is right and wrong for a human conduct तय करें कि मानव आचरण के लिए क्या सही है और क्या गलत A2 : name of a city एक शहर का नाम A3 : employability skills रोज़गार कौशल A4 : not relevant to society समाज से संबंधित नहीं है	2.0	0.00
		Employability Skills		

SAMPLE QUESTION PAPER SET 1

56	56	Values are _____ मान हैं ……। A1 : not punctual समयनिष्ठ नहीं A2 : Motivates our attitude and action हमारे दृष्टिकोण और कार्रवाई को प्रेरित करता है A3 : very costly बहुत क़ीमती A4 : all have same value सभी का मूल्य समान है	2.0	0.00
		Employability Skills		
57	57	_____ is a brief statement about purpose and principles of the Constitution. .....संविधान के उद्देश्य और सिद्धांतों के बारे में संक्षिप्त विवरण है। A1 : Syllabus पाठ्यक्रम A2 : Module मापांक A3 : The Preamble प्रस्तावना A4 : Unit इकाई	2.0	0.00
		Employability Skills		
58	58	Identify the improper term _____ अनुचित पद को पहचानिए …….। A1 : green pollution हरित प्रदूषण A2 : water pollution जल प्रदूषण A3 : air pollution वायु प्रदूषण A4 : sound pollution ध्वनि प्रदूषण	2.0	0.00
		Employability Skills		
59	59	NAPS Stands for _____ NAPS का मतलब _____ A1 : National Apprenticeship Promotion Scheme National Apprenticeship Promotion Scheme A2 : National Appointment Promoting Scheme National Appointment Promoting Scheme A3 : Non Apprenticeship Promotion Scheme Non Apprenticeship Promotion Scheme A4 : National Advertising Promotion Scheme National Advertising Promotion Scheme	2.0	0.00
		Employability Skills		
60	60	_____ is major changes takes place in manufacturing.	2.0	0.00

SAMPLE QUESTION PAPER SET 1

		..... मैन्युफैक्चरिंग में प्रमुख परिवर्तन होते हैं। A1 : Green revolution हरित क्रांति A2 : Industry revolution उद्योग क्रांति A3 : Water revolution जल क्रांति A4 : Food revolution खाद्य क्रांति		
Employability Skills				
61	61	1st industrial revolution started in _____ पहली औद्योगिक क्रांति की शुरुआत .....। A1 : 18th century 18 वीं सदी A2 : 19th century 19 वीं सदी A3 : 20th century 20 वीं सदी A4 : 21st century 21 वीं सदी	2.0	0.00
Employability Skills				
62	62	Hard Skill _____ कठिन कौशल.....। A1 : quick learner त्वरित शिक्षार्थी A2 : time management समय प्रबंधन A3 : 60 WPM typing speed 60 WPM टाइपिंग स्पीड A4 : spoken English मौखिक अंग्रेजी	2.0	0.00
Employability Skills				
63	63	To grow yourself you must _____ अपने आप को विकसित करने के लिए आपको चाहिए .....। A1 : know your office अपने कार्यालय को जानें A2 : know yourself खुद को जानें A3 : know your institute अपने संस्थान को जानें A4 : know your country अपने देश को जानो	2.0	0.00
Employability Skills				
64	64	Time management _____	2.0	0.00

SAMPLE QUESTION PAPER SET 1

		समय प्रबंधन.....। A1 : complete your task on time अपना कार्य समय पर पूरा करें A2 : managing time प्रबंधन समय A3 : hard skill कठिन कौशल A4 : problem solving समस्या को सुलझाना		
		Employability Skills		
65	65	A resume should be _____. एक रिज्यूम _____ होना चाहिए A1 : short and precise छोटा और सटीक A2 : fancy and colourful फैंसी और रंगीन A3 : having long and detailed information लंबी और विस्तृत जानकारी होना A4 : having acronyms and abbreviation समरूप और संक्षिप्त नाम होना	2.0	0.00
		Employability Skills		
66	66	A written description of duties and responsibilities to be carried out in a job is called _____. किसी कार्य में किए जाने वाले कर्तव्यों और जिम्मेदारियों का लिखित विवरण _____ कहा जाता है A1 : CV CV A2 : job description job description A3 : resume resume A4 : job application job application	2.0	0.00
		Employability Skills		
67	67	After receiving interview call, what is the next step? साक्षात्कार कॉल प्राप्त करने के बाद, अगला कदम क्या है? A1 : Send application letter आवेदन पत्र भेजें A2 : Prepare the resume रिज्यूम तैयार करें A3 : Appear at interview साक्षात्कार में में जाये A4 : Send resume रिज्यूम भेजे	2.0	0.00
		Employability Skills		
68	68	Choose suitable “wh” word for the given sentence. “_____ animal do you like?” दिए गए वाक्य के लिए उपयुक्त “wh” शब्द चुनें। “_____ animal do you like?”	2.0	0.00

SAMPLE QUESTION PAPER SET 1

		A1 : Which Which A2 : Why Why A3 : Where Where A4 : When When		
		Employability Skills		
69	69	Choose the correct punctuation mark after the word “Rohan” in the given sentence. “Rohan David and Ram are playing hide and seek” दिए गए वाक्य में शब्द "रोहन" के बाद सही विराम चिह्न चुनें।“Rohan David and Ram are playing hide and seek” A1 : Comma (,) अल्पविराम (,) A2 : Period (_) अवधि (_) A3 : Slash (/) स्लैश (/) A4 : Hyphen (-) हाइफ़न (-)	2.0	0.00
		Employability Skills		
70	70	Choose the correct response for the given question. “How have you been”? दिए गए प्रश्न के लिए सही उत्तर चुनिए। “How have you been”? A1 : Very well, And you? Very well, And you? A2 : Thank you_ And you? Thank you_ And you? A3 : Same to you Same to you A4 : On vacation_ And you? On vacation_ And you?	2.0	0.00
		Employability Skills		
71	71	Choose the correct response of the given question. “When did the accident happen”? दिए गए प्रश्न की सही प्रतिक्रिया चुनें। “When did the accident happen”? A1 : in the hotel in the hotel A2 : during travelling during travelling A3 : At 10:30 last night At 10:30 last night A4 : On the table On the table	2.0	0.00
		Employability Skills		
72	72	Choose the correct tense of the verb. “I _____ music when I was child” क्रिया का सही काल चुनें। “I _____music when I was child”	2.0	0.00

SAMPLE QUESTION PAPER SET 1

		A1: learn learn A2: am learning am learning A3: will learn will learn A4: had learnt had learnt		
		Employability Skills		
73	73	Curriculum vitae is also known as _____ . Curriculum vitae को _____ के रूप में भी जाना जाता है। A1: circular परिपत्र A2: resume रिज्यूम A3: job application form नौकरी के लिए आवेदन पत्र A4: leave application छुट्टी की अर्जी	2.0	0.00
		Employability Skills		
74	74	Fill in the blank with comparative adjective. “Your pencil is _____ than mine” तुलनात्मक विशेषण के साथ रिक्त स्थान भरें। “Your pencil is_____ than mine” A1: sharp sharp A2: sharper sharper A3: blunt blunt A4: thick thick	2.0	0.00
		Employability Skills		
75	75	Fill in the blank with correct future tense of verb. “We _____ to the zoo after Breakfast “ क्रिया के सही भविष्य काल के साथ रिक्त स्थान भरें। “We_____to the zoo after Breakfast “ A1: went went A2: are going are going A3: had gone had gone A4: will go will go	2.0	0.00

SAMPLE QUESTION PAPER SET 1

Plastic Processing Operator - 1 Year - Set 1

S.No.	Correct Answer Key
1	A2
2	A1
3	A3
4	A2
5	A1
6	A3
7	A4
8	A1
9	A1
10	A2
11	A1
12	A4
13	A1
14	A2
15	A1
16	A2
17	A4
18	A2
19	A1
20	A4
21	A1
22	A2
23	A1
24	A3
25	A3
26	A2
27	A2
28	A3
29	A4
30	A3
31	A1
32	A1
33	A3
34	A2
35	A1
36	A2
37	A3
38	A4

S.No.	Correct Answer Key
39	A3
40	A2
41	A2
42	A2
43	A3
44	A1
45	A1
46	A3
47	A2
48	A4
49	A3
50	A1
51	A1
52	A2
53	A2
54	A1
55	A1
56	A2
57	A3
58	A1
59	A1
60	A2
61	A1
62	A3
63	A2
64	A1
65	A1
66	A2
67	A3
68	A1
69	A1
70	A1
71	A3
72	A4
73	A2
74	A2
75	A4

KEY ANSWER SET 1

Note:
"In case answers found to be inaccurate due to typographical error or any other reason please sent mail to **qbnimigrievance@gmail.com**"