Max Marks : 150

All India Trade Test - 2024 for Crafstmen Training Scheme (CTS)
Trade Name: Electrician Power Distribution
Year: 1st Year

Exam Date :
Exam Time :

Note:
1. Tick the correct option out of four alternatives provided
2. All questions carry equal marks (2 Marks each)
3. There is no negative marking

SAMPLE QUESTION PAPER SET 2

Sr. No.	Q ID	Question Body and Alternatives	Marks	Negative Marks
		Trade Theory		
1	1	According to NE code - 2011 which section covers definition of items with references? NE कोड - 2011 के अनुसार कौन सी धारा संदर्भों के साथ वस्तुओं की परिभाषा को कवर करती है? A1 : Section 1 सेक्शन 1 A2 : Section 2 सेक्शन 2 A3 : Section 3 सेक्शन 3 A4 : Section 4 सेक्शन 4	2.0	0.00
		Trade Theory		
2	2	As per the NE code - 2011 which section covers units and systems of measurement in electro technology? NE कोड - 2011 के अनुसार कौन सी धारा इलेक्ट्रो प्रौद्योगिकी में माप की इकाइयों और प्रणालियों को कवर करती है? A1 : Section 3 सेक्शन 3 A2 : Section 4 सेक्शन 4 A3 : Section 5 सेक्शन 5 A4 : Section 6 सेक्शन 6	2.0	0.00
		Trade Theory		
3	3	As per the NE code - 2011 section 16 covers _____ NE कोड - 2011 के अनुसार धारा 16 में _____ शामिल है A1 : The protection requirement in low voltage electrical installation of buildings इमारतों की कम वोल्टेज विद्युत स्थापना में सुरक्षा की आवश्यकता A2 : General criteria for selection of equipment उपकरण के चयन के लिए सामान्य मानदंड	2.0	0.00

		A3 : Code describes the scope of the NEC कोड NEC के कार्यक्षेत्र का वर्णन करता है A4 : Frequently referred tables in electrical engineering work इलेक्ट्रिकल इंजीनियरिंग कार्य में अक्सर संदर्भित टेबल		
		Trade Theory		
4	4	Safety shoes with steel toe cap will protect _____ स्टील टो कैप वाले सुरक्षा जूते _____ की रक्षा करेंगे A1 : The knee घुटने A2 : The calf बछड़ा A3 : The thigh जांघ A4 : The feet पैर	2.0	0.00
		Trade Theory		
5	5	Which one of the method for moving heavy equipments in industry? उद्योग में भारी उपकरणों को ले जाने की कौन सी विधि है? A1 : Manual lifting मैनुअल लिफ्टिंग A2 : Crane and slings क्रेन और स्लिंग A3 : Roller wheels रोलर पहिए A4 : Pushing/Pulling by hand हाथ से धक्का देना/खींचना	2.0	0.00
		Trade Theory		
6	6	What is the name of the drill bit? ड्रिल बिट का नाम क्या है? 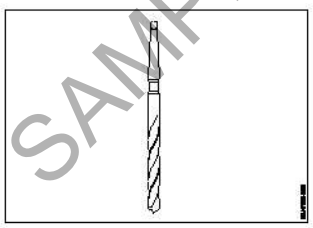 A1 : Flat drill bit फ्लैट ड्रिल बिट A2 : Taper shank bit टेपर शैंक बिट A3 : Countersink bit काउंटर सिंक बिट A4 : Straight shank bit	2.0	0.00

SAMPLE QUESTION PAPER SET 2

		सीधे शैंक बिट		
		Trade Theory		
7	7	Name the part marked 'X' of the file. फ़ाइल के 'X' चिन्हित भाग का नाम बताइए। 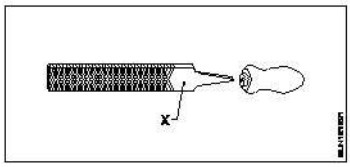 A1 : Edge एज A2 : Heel हील A3 : Tang टैंग A4 : Shoulder शोल्डर	2.0	0.00
		Trade Theory		
8	8	What is the name of the stake used for general purpose in sheet metal work? शीट मेटल कार्य में सामान्य प्रयोजन के लिए उपयोग किये जाने वाले स्टेक का नाम क्या है? A1 : Square stake वर्ग स्टेक A2 : Hatchet stake हैचेट स्टेक A3 : Blow horn square stake ब्लो हॉर्न वर्ग स्टेक A4 : Bevel edge square stake बेवेल एज वर्ग स्टेक	2.0	0.00
		Trade Theory		
9	9	Which material is used for making rivets? रिवेट्स बनाने के लिए किस सामग्री का उपयोग किया जाता है? A1 : Cast Iron कच्चा लोहा A2 : Mild steel नरम इस्पात A3 : Stainless steel स्टेनलेस स्टील A4 : Low carbon steel कार्बन की कम मात्रा वाला इस्पात	2.0	0.00
		Trade Theory		
10	10	What is the purpose of cross cut cold chisel? क्रॉस कट कोल्ड छेनी का उद्देश्य क्या है?	2.0	0.00

SAMPLE QUESTION PAPER SET 2

		A1 : Cutting keyways की वेज़ काटना A2 : Cutting curved grooves घुमावदार ग्रूव्ज़ को काटना A3 : Squaring materials at corners कोनों पर सामग्री को वर्गाकार बनाना A4 : Removing metal from large flat surface बड़ी फ्लैट सरफेस से धातु हटाना		
		Trade Theory		
11	11	Which file is used for good finishing purpose? अच्छी फिनिशिंग के लिए किस फाइल का इस्तेमाल किया जाता है? A1 : Rough file रफ फाइल A2 : Second cut file दूसरा कट फाइल A3 : Smooth file स्मूथ फाइल A4 : Bastard file बास्टर्ड फाइल	2.0	0.00
		Trade Theory		
12	12	Which part of the hammer is used for striking? हथौड़े के किस हिस्से का इस्तेमाल स्ट्राइकिंग के लिए किया जाता है? A1 : Cheek गाल A2 : Eye hole आई होल A3 : Peen पीन A4 : Face फेस	2.0	0.00
		Trade Theory		
13	13	What is the shape of rasp cut file? रास्प कट फाइल का आकार कैसा होता है? A1 : Round गोल A2 : Half round हाफ राउंड A3 : Flat फ्लैट A4 : Square	2.0	0.00

SAMPLE QUESTION PAPER SET 2

		स्कायर		
		Trade Theory		
14	14	Which part marked as 'X'? 'X' से चिह्नित कौन सा हिस्सा? 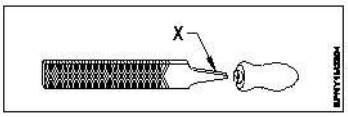 A1 : Edge एज A2 : Handle हैंडल A3 : Tang टैंग A4 : Heel हील	2.0	0.00
		Trade Theory		
15	15	Which material is used for the marking of hammer head? हैमर हेड के मार्किंग के लिए किस सामग्री का इस्तेमाल किया जाता है? A1 : Soft steel नरम स्टील A2 : Cast Iron कास्ट आयरन A3 : Drop forged carbon steel ड्रॉप फोर्ज्ड कार्बन स्टील A4 : Wood लकड़ी	2.0	0.00
		Trade Theory		
16	16	Which part of the hammer is used for shaping and forming work? हथौड़े के किस हिस्से का इस्तेमाल आकार देने और काम बनाने के लिए किया जाता है? A1 : Peen पीन A2 : Wedge वेज A3 : Face फेस A4 : Cheek गाल	2.0	0.00
		Trade Theory		
17	17	What is the name of the peen in a hammer marked as 'X'? X' से चिह्नित हथौड़े में पीन का नाम क्या है?	2.0	0.00

SAMPLE QUESTION PAPER SET 2

		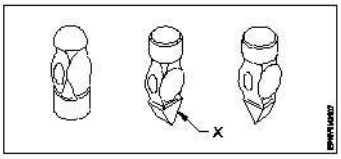 A1 : Ball peen बॉल पीन A2 : Cross peen क्रॉस पीन A3 : Straight peen स्ट्रेट पीन A4 : Wedge वेज		
		Trade Theory		
18	18	What is the weight of the engineers hammer used for marking purposes? मार्किंग के लिए इस्तेमाल किए जाने वाले इंजीनियर के हथौड़े का वजन कितना होता है? A1 : 250 gm 250 ग्राम A2 : 500 gm 500 ग्राम A3 : 1 kg 1 किग्रा A4 : 1.5 kg 1.5 किग्रा	2.0	0.00
		Trade Theory		
19	19	What is the weight of the head in engineers hammer? इंजीनियर के हैमर हेड का वजन कितना होता है? A1 : 100 gm to 1 kg 100 ग्राम से 1 किलोग्राम A2 : 125 gm to 1.5 kg 125 ग्राम से 1.5 किलोग्राम A3 : 200 gm to 1.5 kg 200 ग्राम से 1.5 किग्रा A4 : 200 gm to 2 kg 200 ग्राम से 2 किग्रा	2.0	0.00
		Trade Theory		
20	20	What is the name of the part marked 'X'? 'X' से चिह्नित हिस्से का नाम क्या है? 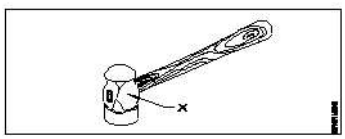	2.0	0.00

SAMPLE QUESTION PAPER SET 2

		A1 : Wedge वेज A2 : Eye hole आई होल A3 : Face फेस A4 : Cheek गाल		
		Trade Theory		
21	21	Which material is used for the making of chisel? छेनी के निर्माण में किस पदार्थ का प्रयोग किया जाता है? A1 : Cast Iron कास्ट आयरन A2 : Soft steel सॉफ्ट स्टील A3 : High carbon steel हाई कार्बन स्टील A4 : Aluminium cast एल्युमिनियम कास्ट	2.0	0.00
		Trade Theory		
22	22	What is the length of chisels? छेनी की लंबाई कितनी होती है? A1 : 50 mm to 100 mm 50 मिमी से 100 मिमी A2 : 100 mm to 300 mm 100 मिमी से 300 मिमी A3 : 150 mm to 400 mm 150 मिमी से 400 मिमी A4 : 200 mm to 400 mm 200 मिमी से 400 मिमी	2.0	0.00
		Trade Theory		
23	23	What is the name of the part marked as 'X'? 'X' से चिह्नित हिस्से का नाम क्या है? 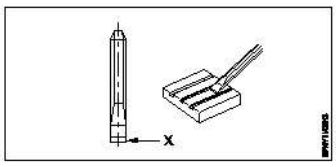 A1 : Hardened cutting edge कठोर कटिंग एज A2 : Flat chisel फ्लैट छेनी	2.0	0.00

SAMPLE QUESTION PAPER SET 2

		A3 : Cross section of the body बॉडी का क्रॉस सेक्शन A4 : Length of the chisel छेनी की लंबाई		
Trade Theory				
24	24	In wave set of saw the pitch is _____ आरी के वेव सेट में पिच _____ होती है A1 : 0.5 mm 0.5 मिमी A2 : 0.8 mm 0.8 मिमी A3 : 1.0 mm 1.0 मिमी A4 : 1.5 mm 1.5 मिमी	2.0	0.00
Trade Theory				
25	25	What is pitch of the blade? ब्लेड की पिच क्या होती है? A1 : The distance between first to test teeth पहले टेस्ट करने वाले दांतों के बीच की दूरी A2 : The distance between two adjacent teeth दो आसन्न दांतों के बीच की दूरी A3 : Total length of the blade in mm/2 ब्लेड की कुल लंबाई मिमी/2 में A4 : Total length of the blade in mm x 2 ब्लेड की कुल लंबाई मिमी x 2 में	2.0	0.00
Trade Theory				
26	26	What is the name of the part marked as 'X'? 'X' से चिह्नित हिस्से का नाम क्या है? 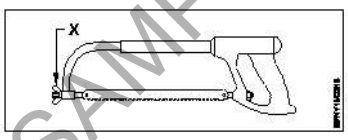 A1 : Fixed blade holden फिक्स्ड ब्लेड होल्डन A2 : Retaining pin रिटेनिंग पिन A3 : Frame फ्रेम A4 : Wing nut विंग नट	2.0	0.00

SAMPLE QUESTION PAPER SET 2

		Trade Theory		
27	27	What is the name of the part? भाग का नाम क्या है? 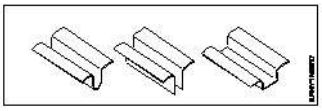 A1 : Fixed jaw फिक्स्ड जॉ A2 : Vice clamps वाइस क्लैंप A3 : Movable jaw मूवेबल जॉ A4 : Spindle स्पिंडल	2.0	0.00
		Trade Theory		
28	28	Which material is used for the making of bench vice? बेंच वाइस बनाने के लिए किस सामग्री का इस्तेमाल किया जाता है? A1 : Cast steel कास्ट स्टील A2 : Aluminium cast एल्यूमीनियम कास्ट A3 : High carbon steel हाई कार्बन स्टील A4 : Vanadium steel वैनेडियम स्टील	2.0	0.00
		Trade Theory		
29	29	What is the name of the part marked 'X'? 'X' से चिह्नित हिस्से का नाम क्या है? 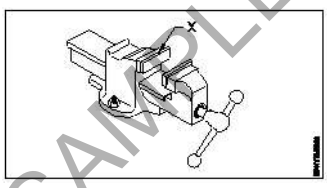 A1 : Fixed jaw फिक्स्ड जॉ A2 : Hard jaw हार्ड जॉ A3 : Spindle स्पिंडल A4 : Width of the jaws जॉ की चौड़ाई	2.0	0.00
		Trade Theory		

SAMPLE QUESTION PAPER SET 2

30	30	What is the purpose of rough file? रफ फाइल का उद्देश्य क्या है? A1 : Ordinary filing purposes साधारण फाइलिंग उद्देश्य A2 : Removing less metal and For giving good surface finish कम धातु निकालना और अच्छी सतह खत्म करने के लिए A3 : Removing more quantity of metal quickly अधिक मात्रा में धातु को जल्दी से हटाना A4 : Good finishing purposes अच्छी फिनिशिंग के उद्देश्य	2.0	0.00
		Trade Theory		
31	31	Which one is the use of jenny callipers? जेनी कैलिपर्स का उपयोग किसमें किया जाता है? A1 : Measure the lengths of steel bar स्टील बार की लंबाई मापें A2 : To locate the centre of round bars गोल बार के केंद्र का पता लगाने के लिए A3 : For marking the points of an object किसी वस्तु के बिंदुओं को चिह्नित करने के लिए A4 : For marking the metals an designed shape धातुओं को चिह्नित करने के लिए एक डिज़ाइन किया गया आकार	2.0	0.00
		Trade Theory		
32	32	The size of the calliper specified by _____ कैलिपर का आकार _____ द्वारा निर्दिष्ट किया जाता है A1 : Length लंबाई A2 : Width चौड़ाई A3 : Surface area सतह क्षेत्र A4 : Volume वॉल्यूम	2.0	0.00
		Trade Theory		
33	33	What is called the distance between the pivot centre and the tip of the leg of a caliper? कैलिपर के लेग की टिप और धुरी केंद्र के बीच की दूरी को क्या कहते हैं? A1 : Length लंबाई A2 : Width चौड़ाई A3 : Height ऊंचाई	2.0	0.00

SAMPLE QUESTION PAPER SET 2

		A4 : Volume वॉल्यूम		
		Trade Theory		
34	34	Why the vee groove at the bottom of a universal surface gauge made as? यूनिवर्सल सरफेस गेज के निचले भाग में वी ग्रूव क्यों बनाया जाता है? A1 : To helps to seats on the square work स्क्वायर वर्क पर सीटों की सहायता के लिए A2 : To helps to seats on the triangular work त्रिकोणीय वर्क पर सीटों की सहायता के लिए A3 : To helps to seats on the rectangular work आयताकार वर्क पर सीटों की सहायता के लिए A4 : To helps to seats on the circular work गोलाकार वर्क पर सीटों की सहायता के लिए	2.0	0.00
		Trade Theory		
35	35	What is the name of the part marked 'X'? X' से चिह्नित भाग का नाम क्या है? 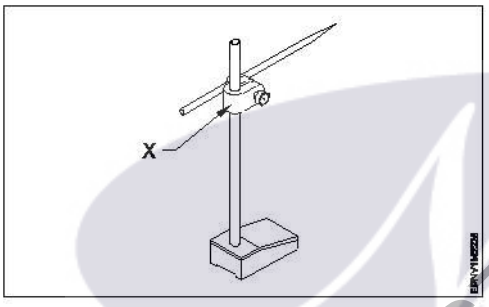 A1 : NUT नट A2 : SCRIBER स्क्राइबर A3 : SNUG स्नग A4 : SPINDLE स्पिंडल	2.0	0.00
		Trade Theory		
36	36	What is the name of the part marked as 'X'? X' से चिह्नित भाग का नाम क्या है? 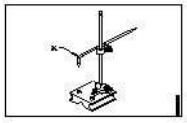 A1 : Snug स्नग A2 : Scriber स्क्राइबर	2.0	0.00

SAMPLE QUESTION PAPER SET 2

		A3 : Spindle स्पिंडल A4 : Vee grove वी ग्रोव		
		Trade Theory		
37	37	What is the angle of the center punch? सेंटर पंच का कोण क्या है? A1 : 30° 30° A2 : 45° 45° A3 : 60° 60° A4 : 90° 90°	2.0	0.00
		Trade Theory		
38	38	Which type punch is used for marking light punch marks needed to position dividers? डिवाइडर की स्थिति के लिए आवश्यक हल्के पंच चिह्नों को चिह्नित करने के लिए किस प्रकार के पंच का उपयोग किया जाता है? A1 : 30° point punch 30° पॉइंट पंच A2 : 45° point punch 45° पॉइंट पंच A3 : 60° point punch 60° पॉइंट पंच A4 : 90° point punch 90° पॉइंट पंच	2.0	0.00
		Workshop Calculation Science		
39	39	Which metal contains iron as a major content? इनमे से किस धातु में प्रमुख सामग्री के रूप में लोहा होता है? A1 : Brass metal पीतल धातु A2 : Bronze metal ब्रोंज धातु A3 : Zinc ज़िंक A4 : Ferrous metal लोह धातु	2.0	0.00
		Workshop Calculation Science		
40	40	Which alloy used in electric lamp as filament? इनमे से किस मिश्र धातु का उपयोग विद्धुत बल्ब के फिलमेंट मे किया जाता है? A1 : Cobalt	2.0	0.00

SAMPLE QUESTION PAPER SET 2

		कोबाल्ट A2 : Vanadium वैनेडियम A3 : Tungsten टंगस्टन A4 : Silicon सिलिकॉन		
		Workshop Calculation Science		
41	41	What is termed as the quantity of matter contained in a body? वस्तु में निहित पदार्थ की मात्रा को क्या कहा जाता है? A1 : Density घनत्व A2 : Volume आयतन A3 : Mass द्रव्यमान A4 : Specific gravity विशिष्ट गुरुत्व	2.0	0.00
		Workshop Calculation Science		
42	42	What is called mass per unit volume of a substances? किसी पदार्थ के द्रव्यमान प्रति इकाई आयतन को क्या कहते हैं? A1 : Mass द्रव्यमान A2 : Weight भार A3 : Density घनत्व A4 : Volume आयतन	2.0	0.00
		Workshop Calculation Science		
43	43	What is the work done in unit time? एक इकाई समय में किया गया कार्य क्या होता है? A1 : Energy ऊर्जा A2 : Power शक्ति A3 : Force बल A4 : Acceleration त्वरण	2.0	0.00
		Workshop Calculation Science		

SAMPLE QUESTION PAPER SET 2

44	44	What is the ratio of power output to power input? शक्ति आउटपुट और शक्ति इनपुट का अनुपात क्या होता है? A1 : Work कार्य A2 : Energy ऊर्जा A3 : Efficiency दक्षता A4 : Acceleration त्वरण	2.0	0.00
		Engineering Drawing		
45	45	Identify the conventional symbol of material? सामग्री के पारंपरिक प्रतीक को पहचानें? 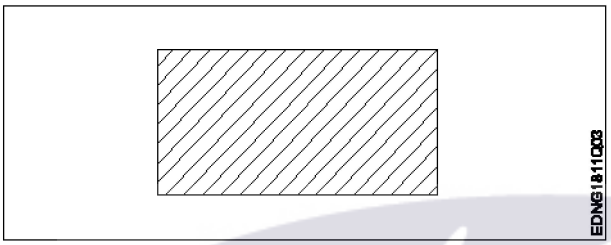 A1 : Lead लेड A2 : Steel इस्पात A3 : Glass कांच A4 : Porcelain चीनी मिटटी	2.0	0.00
		Engineering Drawing		
46	46	Identify the conventional symbol of material? सामग्री के पारंपरिक प्रतीक को पहचानें? 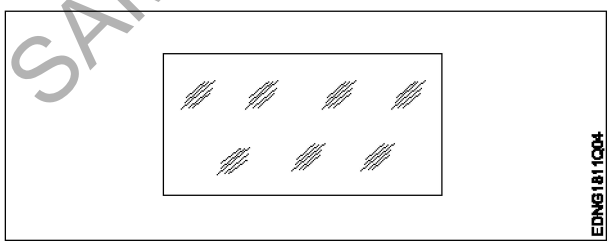 A1 : Concrete संगीत कार्यक्रम A2 : Steel इस्पात	2.0	0.00

SAMPLE QUESTION PAPER SET 2

		A3 : Wood लकड़ी A4 : Glass कांच		
		Engineering Drawing		
47	47	Identify the conventional symbol of material? सामग्री के पारंपरिक प्रतीक को पहचानें? 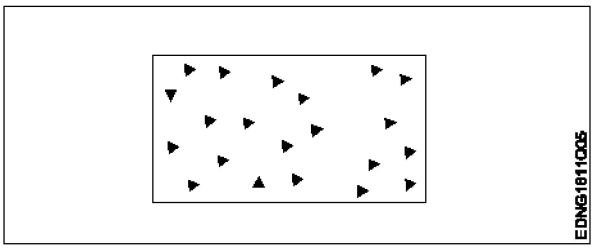 A1 : Steel इस्पात A2 : Wood लकड़ी A3 : Glass कांच A4 : Concrete ठोस	2.0	0.00
		Engineering Drawing		
48	48	What is the trimmed size of A4 sheet? A4 शीट का ट्रिम किया हुआ आकार क्या है? A1 : 841 x 1189 841 x 1189 A2 : 594 x 841 594 x 841 A3 : 210 x 297 210 x 297 A4 : 148 x 210 148 x 210	2.0	0.00
		Engineering Drawing		
49	49	Which drawing dimension is correct as per IS standard? IS मानक के अनुसार कौन सा ड्राइंग आयाम सही है? A1 :	2.0	0.00

SAMPLE QUESTION PAPER SET 2

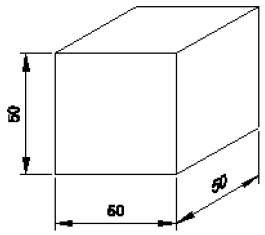

A2
:

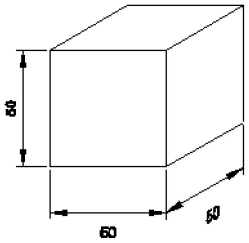

A3
:

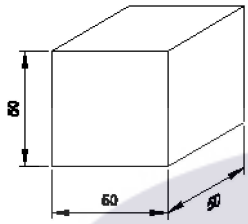

A4
:

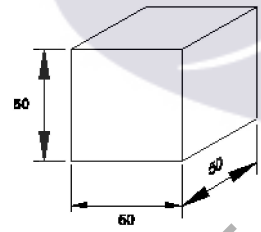

Engineering Drawing

50	50	Identify the name of prism? चित्र में दिखाए गए प्रिज्म का नाम क्या है? 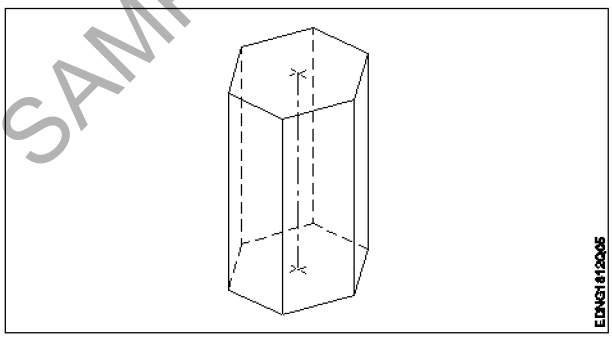 A1 : Square prism स्कायर प्रिज्म A2 : Pentagonal prism पंचकोणीय प्रिज्म	2.0	0.00

SAMPLE QUESTION PAPER SET 2

		A3 : Triangular prism त्रिकोणीय प्रिज्म A4 : Hexagonal prism हेक्सागोनल प्रिज्म		
		Employability Skills		
51	51	Fill in the blank with correct word. “They _____ good friends” रिक्त में सही शब्द भरें। “They_____good friends” A1 : is is A2 : am am A3 : are are A4 : was was	2.0	0.00
		Employability Skills		
52	52	Fill in the blank with present progressive tense of the verb. “The train _____ through the tunnel” क्रिया के वर्तमान प्रगतिशील काल के साथ रिक्त स्थान भरें। “The train _____ through the tunnel” A1 : passed passed A2 : is passing is passing A3 : had passed had passed A4 : was passing was passing	2.0	0.00
		Employability Skills		
53	53	Fill in the blank with proper interrogative adjective. _____ are you going? उचित ईंटोरोगेटिव विशेषण के साथ रिक्त स्थान भरें। _____ are you going? A1 : Who Who A2 : Where Where A3 : Which Which A4 : What What	2.0	0.00
		Employability Skills		
54	54	Fill in the blank with proper pronoun. “I made this cake _____” रिक्त स्थान में उचित सर्वनाम के साथ भरें। “I made this cake _____” A1 : myself myself	2.0	0.00

SAMPLE QUESTION PAPER SET 2

		A2 : yourself yourself A3 : himself himself A4 : itself itself		
		Employability Skills		
55	55	Fill in the blank with proper pronoun. “She made this cake _____” रिक्त स्थान में उचित सर्वनाम के साथ भरें। “She made this cake _____” A1 : itself itself A2 : myself myself A3 : herself herself A4 : himself himself	2.0	0.00
		Employability Skills		
56	56	Fill in the blank with proper reflexive pronoun. “She has hurt_____” रिक्त स्थान में उचित प्रतिवर्ती सर्वनाम के साथ भरें। “She has hurt_____” A1 : myself myself A2 : herself herself A3 : himself himself A4 : itself itself	2.0	0.00
		Employability Skills		
57	57	Fill in the blank with suitable adjective for the given sentence “The little girl’s…… eyes revealed her mischief” दिए गए वाक्य के लिए उपयुक्त विशेषण के साथ रिक्त स्थान भरें “The little girl’s…… eyes revealed her mischief” A1 : chubby chubby A2 : weak weak A3 : short sighted short sighted A4 : twinkling twinkling	2.0	0.00
		Employability Skills		
58	58	Fill in the blank with suitable place preposition. “My house is _____ the third floor” उपयुक्त स्थान पूर्वसर्ग के साथ रिक्त स्थान भरें। “My house is _____the third floor”	2.0	0.00

SAMPLE QUESTION PAPER SET 2

		A1 : at at A2 : in in A3 : on on A4 : under under		
		Employability Skills		
59	59	Fill in the correct question word. "_____ is the speaker at the function?" सही प्रश्न शब्द भरें। "_____is the speaker at the function?" A1 : What What A2 : When When A3 : Why Why A4 : Who Who	2.0	0.00
		Employability Skills		
60	60	Low level language is also called _____. निम्न स्तर की भाषा को _____ भी कहा जाता है A1 : source code सोर्स कोड A2 : middle ware मध्यस्थ A3 : machine language मशीन भाषा A4 : assembly language असेंबली भाषा	2.0	0.00
		Employability Skills		
61	61	Pronunciation refers to_____. उच्चारण _____ को संदर्भित करता है A1 : diphthong संयुक्त स्वर A2 : consonant व्यंजन A3 : punctuation विराम चिह्न A4 : production of sound ध्वनि का उत्पादन	2.0	0.00
		Employability Skills		

SAMPLE QUESTION PAPER SET 2

62	62	Re-arrange the following set of words into meaningful sentence. “teacher / school / worked / she / a / as”. शब्दों के निम्नलिखित सेट को सार्थक वाक्य में फिर से व्यवस्थित करें। “teacher / school / worked / she / a / as” A1 : School worked as a she teacher School worked as a she teacher A2 : She worked as a school teacher She worked as a school teacher A3 : She teacher worked as a school She teacher worked as a school A4 : Worked she as a school teacher Worked she as a school teacher	2.0	0.00
		Employability Skills		
63	63	Rise and fall of pitch of voice is called _____. आवाज की पिच का उठना और गिरना _____ कहलाता है A1 : vowel स्वर A2 : intonation आवाज़ का उतार-चढ़ाव A3 : consonant व्यंजन A4 : pronunciation उच्चारण	2.0	0.00
		Employability Skills		
64	64	The word that expresses a sudden and strong feeling is called _____. वह शब्द जो अचानक और मजबूत भावना व्यक्त करता है उसे _____ कहा जाता है A1 : punctuation विराम चिह्न A2 : interjection विस्मयादिबोधक A3 : conjunction संयोजन के रूप A4 : apostrophe एपोसट्रॉफी	2.0	0.00
		Employability Skills		
65	65	When you greet higher official’s such as Teacher, Instructor or Supervisor, you should use _____. जब आप शिक्षक, प्रशिक्षक या पर्यवेक्षक जैसे उच्च अधिकारियों का अभिवादन करते हैं, तो आपको _____ का उपयोग करना चाहिए A1 : Good morning Good morning A2 : Hello Hello A3 : Hey Hey	2.0	0.00

SAMPLE QUESTION PAPER SET 2

		A4 : Hi Hi		
		Employability Skills		
66	66	Which is a silent letter in the word “ANSWER”? “ANSWER” शब्द में कौन सा मूक अक्षर है? A1 : R R A2 : E E A3 : S S A4 : W W	2.0	0.00
		Employability Skills		
67	67	Which one is a “Do’s” of discussion etiquettes? चर्चा के शिष्टाचारों में से कौन सा “Do’s” है? A1 : Loose your temper अपना आपा खोएं A2 : Listen to others दूसरों की सुनें A3 : Talk about irrelevant details अप्रासंगिक विवरण के बारे में बात करें A4 : Use impolite or rude language अभद्र या अशिष्ट भाषा का उपयोग करें	2.0	0.00
		Employability Skills		
68	68	Which one is a “Don’t” of discussion etiquette? चर्चा शिष्टाचार का “Don’t” है? A1 : Be open minded दिमाग खुला रखना A2 : Use moderate tone मध्यम स्वर का प्रयोग करें A3 : Listen to others दूसरों की सुनें A4 : Argue unnecessary अनावश्यक बहस करें	2.0	0.00
		Employability Skills		
69	69	Which one is a brain of computer? कंप्यूटर का मस्तिष्क कौन सा है? A1 : Keyboard कीबोर्ड A2 : CPU	2.0	0.00

SAMPLE QUESTION PAPER SET 2

		सी पी यू A3 : Monitor मॉनिटर A4 : Hard disk हार्ड डिस्क		
		Employability Skills		
70	70	Which one is an exclamatory sentence? कौन सा विस्मयादिबोधक वाक्य है? A1 : What a beautiful house it is! What a beautiful house it is! A2 : It is a beautiful house. It is a beautiful house. A3 : Is it a beautiful house? Is it a beautiful house? A4 : Your house is beautiful. Your house is beautiful.	2.0	0.00
		Employability Skills		
71	71	Which one is in active voice? सक्रिय आवाज में कौन सा है? A1 : Ram has passed the exam. Ram has passed the exam. A2 : The ball was caught by him. The ball was caught by him. A3 : The book was being read by her. The book was being read by her. A4 : We were driven home by dad. We were driven home by dad.	2.0	0.00
		Employability Skills		
72	72	Which one is in passive voice? निष्क्रिय आवाज में कौन सा है? A1 : Mohan is painting a house. Mohan is painting a house. A2 : She was reading a book. She was reading a book. A3 : Her birthday was celebrated by us. Her birthday was celebrated by us. A4 : I have seen that movie. I have seen that movie.	2.0	0.00
		Employability Skills		
73	73	Which one is NOT a conjunction? कौन सा एक संयोजन नहीं है? A1 : And	2.0	0.00

SAMPLE QUESTION PAPER SET 2

		And A2 : Or Or A3 : But But A4 : On On		
		Employability Skills		
74	74	Which one is NOT a benefit of the role playing? भूमिका निभाने का कौन सा लाभ नहीं है? A1 : Builds confidence आत्मविश्वास पैदा करता है A2 : Develops listening skill सुनने का कौशल विकसित करता है A3 : Develops creative problem-solving skill रचनात्मक समस्या-समाधान कौशल विकसित करता है A4 : Develops boredom बोरियत पैदा करता है	2.0	0.00
		Employability Skills		
75	75	Which one is NOT a vowel? कौन सा स्वर नहीं है? A1 : a a A2 : e e A3 : f f A4 : i i	2.0	0.00

SAMPLE QUESTION PAPER SET 2

Electrician Power Distribution - 1st Year - Set 2

S.No.	Correct Answer Key
1	A2
2	A3
3	A1
4	A4
5	A2
6	A2
7	A2
8	A1
9	A4
10	A1
11	A2
12	A4
13	A2
14	A3
15	A3
16	A1
17	A2
18	A1
19	A2
20	A4
21	A3
22	A3
23	A1
24	A2
25	A2
26	A4
27	A2
28	A1
29	A1
30	A3
31	A2
32	A1
33	A1
34	A4
35	A3
36	A2
37	A4
38	A1

S.No.	Correct Answer Key
39	A4
40	A3
41	A3
42	A3
43	A2
44	A3
45	A2
46	A4
47	A4
48	A3
49	A1
50	A4
51	A3
52	A2
53	A2
54	A1
55	A3
56	A2
57	A4
58	A3
59	A4
60	A3
61	A4
62	A2
63	A2
64	A2
65	A1
66	A4
67	A2
68	A4
69	A2
70	A1
71	A1
72	A3
73	A4
74	A4
75	A3

KEY ANSWER SET 2

Note:
"In case answers found to be inaccurate due to typographical error or any other reason please sent mail to **qbnimigrievance@gmail.com**"