Max Marks : 150

All India Trade Test - 2024 for Crafstmen Training Scheme (CTS)
Trade Name: Electrician Power Distribution
Year: 1st Year

Exam Date :
Exam Time :

Note:
1. Tick the correct option out of four alternatives provided
2. All questions carry equal marks (2 Marks each)
3. There is no negative marking

SAMPLE QUESTION PAPER SET 3

Sr. No.	Q ID	Question Body and Alternatives	Marks	Negative Marks
		Trade Theory		
1	1	What is the name of the figure marked 'X'? X' से चिह्नित आकृति का नाम क्या है? 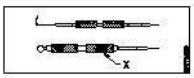 A1 : Plain scriber प्लेन स्क्राइबर A2 : Prick punch प्रिक पंच A3 : Double end scriber डबल एंड स्क्राइबर A4 : Centre punch सेंटर पंच	2.0	0.00
		Trade Theory		
2	2	What is plates? प्लेट्स क्या हैं? A1 : Sheets over 5 mm thick 5 मिमी से अधिक मोटी शीट A2 : Sheet over 10 mm thick 10 मिमी से अधिक मोटी शीट A3 : Sheet over 12 mm thick 12 मिमी से अधिक मोटी शीट A4 : Sheet up to 20 mm thick 20 मिमी मोटी तक की शीट	2.0	0.00
		Trade Theory		
3	3	Which tool is used for cutting thin sheets of metal? धातु की पतली चादरों को काटने के लिए किस उपकरण का उपयोग किया जाता है? A1 : Cutting pliers कटिंग प्लायर्स	2.0	0.00

		A2 : Combination pliers कॉम्बिनेशन प्लायर्स A3 : Snips स्निप्स A4 : scissors कैंची		
		Trade Theory		
4	4	Which tool is used for cutting internal curves? आंतरिक वक्रों को काटने के लिए किस उपकरण का उपयोग किया जाता है? A1 : Scissors कैंची A2 : Bent snip बेंट स्निप A3 : Side cutter साइड कटर A4 : Combination pliers कॉम्बिनेशन प्लायर्स	2.0	0.00
		Trade Theory		
5	5	Which tool is used to form corners and edges? कोनों और किनारों को बनाने के लिए किस उपकरण का उपयोग किया जाता है? A1 : Hatchet stake हैचेट स्टेक A2 : Square stake स्क्वायर स्टेक A3 : Blow horn square stake ब्लो हॉर्न स्क्वायर स्टेक A4 : Bevel edge square stake बेवल एज स्क्वायर स्टेक	2.0	0.00
		Trade Theory		
6	6	What is the name of the part marked 'X'? X' से चिह्नित भाग का नाम क्या है? 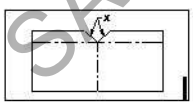 A1 : V' notch V' नॉच A2 : Bending line बेंडिंग लाइन A3 : Single hem सिंगल हेम A4 : Double hem	2.0	0.00

SAMPLE QUESTION PAPER SET 3

		डबल हेम		
		Trade Theory		
7	7	What is the 'Lap' distance of a rivet? रिवेट की 'लैप' दूरी क्या है? A1: 1D 1D A2: 2D 2D A3: 3D 3D A4: 4D 4D	2.0	0.00
		Trade Theory		
8	8	What is the formula for calculating the shank length of a rivet? रिवेट की शैंक लंबाई की गणना करने का सूत्र क्या है? A1: L = (2-½ D) X T L = (2-½ D) X T A2: D = (2-½ to 3) X T D = (2-½ से 3) X T A3: L = 2T + (1 ½ D) L = 2T + (1 ½ D) A4: D = 2T + (1½ D D = 2T + (1½ D	2.0	0.00
		Trade Theory		
9	9	What is 12 represents in 150 metric thread M12? 150 मीट्रिक थ्रेड M12 में 12 क्या दर्शाता है? A1: I so metric thread आइसो मीट्रिक थ्रेड A2: Diametric of the thread थ्रेड का व्यास A3: Pitch of the thread थ्रेड की पिच A4: Depth of the thread थ्रेड की गहराई	2.0	0.00
		Trade Theory		
10	10	The expansion of BSW is _____ BSW का विस्तार _____ है। A1: British Standard Wood British Standard Wood A2: British Standard Whitworth British Standard Whitworth A3: British School of World	2.0	0.00

SAMPLE QUESTION PAPER SET 3

		British School of World A4 : British Standard for Workers British Standard for Workers		
		Trade Theory		
11	11	Which one is used to check the accuracy of an external thread? बाहरी थ्रेड की सटीकता की जाँच के लिए किसका उपयोग किया जाता है? A1 : Thread ring gauge थ्रेड रिंग गेज A2 : Thread plug gauge थ्रेड प्लग गेज A3 : Surface gauge सतह गेज A4 : Surface plate सरफेस प्लेट	2.0	0.00
		Trade Theory		
12	12	How many electrons are there in the valence shell of a copper atom? कॉपर एटम के संयोजन कक्षा में कितने इलेक्ट्रॉन होते हैं? A1 : 1 1 A2 : 2 2 A3 : 8 8 A4 : 18 18	2.0	0.00
		Trade Theory		
13	13	What is the name of the wire joint? वायर संयोजन का नाम क्या है?  A1 : Aerial tap joint एरियल टैप जॉइंट A2 : Knotted tap joint नॉटेड टैप जॉइंट A3 : Duplex cross tap joint डुप्लेक्स क्रॉस टैप ज्वाइंट A4 : Double cross tap joint डबल क्रॉस टैप ज्वाइंट	2.0	0.00
		Trade Theory		
14	14	What is the name of the soldering method? सोल्डरिंग (टांका) लगाने की विधि का नाम क्या है?	2.0	0.00

SAMPLE QUESTION PAPER SET 3

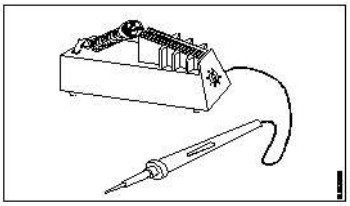

A1 : Dip soldering

डिप सोल्डरिंग

A2 : Soldering with blow lamp

ब्लो लैंप के साथ सोल्डरिंग

A3 : Soldering with soldering gun

सोल्डरिंग गन के द्वारा सोल्डरिंग

A4 : Temperature controlled soldering

तापमान नियंत्रित सोल्डरिंग

		Trade Theory		
15	15	Which type of soldering flux is used for soldering galvanised iron? सोल्डरिंग जस्ती लोहे के लिए किस प्रकार के सोल्डरिंग फ्लक्स का उपयोग किया जाता है? A1 : Rosin रोजिन A2 : Zinc chloride जिंक क्लोराइड A3 : Sal ammonia साल अमोनिया A4 : Hydrochloric acid हाइड्रोक्लोरिक अम्ल	2.0	0.00
		Trade Theory		
16	16	What is the possible range to measure the size of the wire in a Standard Wire Gauge (SWG)? मानक वायर गेज (SWG) में वायर के आकार को मापने के लिए संभावित सीमा क्या है? A1 : 0-44 0-44 A2 : 0-42 0-42 A3 : 0-38 0-38 A4 : 0-36 0-36	2.0	0.00
		Trade Theory		
17	17	In an atom, what is the charge of neutron _____ एक परमाणु में, न्यूट्रॉन का आवेश क्या होता है _____ A1 : Positive पॉजिटिव A2 : Negative	2.0	0.00

SAMPLE QUESTION PAPER SET 3

		नेगेटिव A3 : Phase फेज A4 : Neutral न्यूट्रल		
		Trade Theory		
18	18	What is the maximum number of electrons provided in M shell of a copper atom? कॉपर एटम के M शेल में उपलब्ध इलेक्ट्रॉनों की अधिकतम संख्या क्या है? A1 : 2 2 A2 : 4 4 A3 : 6 6 A4 : 8 8	2.0	0.00
		Trade Theory		
19	19	What is the name of the electron which present the outer most shell of an atom? परमाणु के सबसे बाहरी शेल में मौजूद इलेक्ट्रॉन का नाम क्या है? A1 : Ions आयन A2 : Valence electron संयोजी इलेक्ट्रॉन A3 : Proton प्रोटॉन A4 : Orbit ऑर्बिट	2.0	0.00
		Trade Theory		
20	20	How many electrons are possible to provide in 'L' shell of aluminium atom? एल्यूमीनियम परमाणु के 'L' शेल में कितने इलेक्ट्रॉन उपलब्ध हो सकते हैं? A1 : 1 1 A2 : 2 2 A3 : 4 4 A4 : 8 8	2.0	0.00
		Trade Theory		
21	21	What is the unit of current? करंट की इकाई क्या है? A1 : Emf	2.0	0.00

SAMPLE QUESTION PAPER SET 3

		Emf A2 : Volt Volt A3 : Ampere Ampere A4 : Ohm Ohm		
		Trade Theory		
22	22	Which is a semiconductor? सेमीकंडक्टर कौन सा है? A1 : Aluminium एल्युमिनियम A2 : Germanium जर्मेनियम A3 : Rubber रबर A4 : Paper पेपर	2.0	0.00
		Trade Theory		
23	23	The numbers of valence shell electrons are present in a material is 1,2 or 3 they are called _____ किसी पदार्थ में उपस्थित संयोजकता शेल इलेक्ट्रॉनों की संख्या 1,2 या 3 होती है, उन्हें _____ कहा जाता है A1 : Insulator इन्सुलेटर A2 : Semi अर्ध A3 : Conductor कंडक्टर A4 : Resistor रेज़िस्टर	2.0	0.00
		Trade Theory		
24	24	Atoms that have the outer shell exactly filled are chemically inactive What are they say _____ जिन परमाणुओं का बाहरी शेल पूरी तरह भरा होता है, वे रासायनिक रूप से निष्क्रिय होते हैं, उन्हें क्या कहते हैं _____ A1 : Active elements सक्रिय तत्व A2 : Reactive elements प्रतिक्रियाशील तत्व A3 : Inert elements निष्क्रिय तत्व A4 : Positive elements पॉज़िटिव एलिमेंट	2.0	0.00
		Trade Theory		
25	25	What is the direction of electrons flow in a circuit?	2.0	0.00

SAMPLE QUESTION PAPER SET 3

		किसी परिपथ में इलेक्ट्रॉनों के प्रवाह की दिशा क्या होती है? A1 : Positive terminal to negative terminal पॉजिटिव टर्मिनल से नेगेटिव टर्मिनल A2 : Negative terminal to positive terminal नेगेटिव टर्मिनल से पॉजिटिव टर्मिनल A3 : Positive terminal to ground ग्राउंड से पॉजिटिव टर्मिनल A4 : Negative terminal to ground ग्राउंड के लिए नेगेटिव टर्मिनल		
		Trade Theory		
26	26	How much valence shell electrons present in an insulators? एक इन्सुलेटर में कितने संयोजकता शेल इलेक्ट्रॉन मौजूद होते हैं? A1 : 1, 2, 3 1, 2, 3 A2 : 3, 4, 5 3, 4, 5 A3 : 5, 6, 7 5, 6, 7 A4 : 2, 4, 8 2, 4, 8	2.0	0.00
		Trade Theory		
27	27	What is the melting point of aluminium? एल्यूमीनियम का गलनांक क्या है? A1 : 600°C 600°C A2 : 660°C 660°C A3 : 1000°C 1000°C A4 : 1060°C 1060°C	2.0	0.00
		Trade Theory		
28	28	What is the advantage of copper? तांबे का क्या फायदा है? A1 : Cost is high लागत अधिक है A2 : Low scrap value कम स्क्रैप मूल्य A3 : Can be drawn into thin wires sheets पतली तारों की शीटों में खींचा जा सकता है	2.0	0.00

SAMPLE QUESTION PAPER SET 3

		A4 : Impure metal अशुद्ध धातु		
		Trade Theory		
29	29	Why the volume of copper required to carry a given current is in less for a given length? किसी दी गई लंबाई के लिए किसी विद्युत धारा को प्रवाहित करने के लिए आवश्यक तांबे की मात्रा कम क्यों होती है? A1 : Lowest current density per unit area प्रति इकाई क्षेत्र में सबसे कम वर्तमान घनत्व A2 : Largest current density per unit area प्रति इकाई क्षेत्र में सबसे बड़ा वर्तमान घनत्व A3 : Large area per unit volume प्रति इकाई आयतन बड़ा क्षेत्र A4 : Large diameter per unit length प्रति इकाई लंबाई बड़ा व्यास	2.0	0.00
		Trade Theory		
30	30	Name of the joint is used in place, where appreciable electrical conductivity is required. जॉइंट का नाम उस स्थान पर प्रयोग किया जाता है, जहां पर्याप्त विद्युत चालकता की आवश्यकता होती है। A1 : Plain tap joint प्लेन टैप जॉइंट A2 : Aerial tap joint एरियल टैप जॉइंट A3 : Married joint मैरीड जॉइंट A4 : Duplex cross tap joint डुप्लेक्स क्रॉस टैप जॉइंट	2.0	0.00
		Trade Theory		
31	31	Name the joint it has good appearance and compactness. उस जॉइंट का नाम बताइए जिसका स्वरूप और सघनता अच्छी है।। A1 : Western union joint वेस्टर्न यूनियन जॉइंट A2 : Knotted joint गाँठदार जॉइंट A3 : Britannia joint ब्रिटानिया जॉइंट A4 : Scarfed joint स्काफ़र्ड जॉइंट	2.0	0.00
		Trade Theory		
32	32	Which joint is used in over head line for extending the length of wire? वायर की लंबाई बढ़ाने के लिए ओवर हेड लाइन में किस जॉइंट का इस्तेमाल किया जाता है? A1 : Western union joint वेस्टर्न यूनियन जॉइंट A2 : Britannia joint	2.0	0.00

SAMPLE QUESTION PAPER SET 3

		ब्रिटानिया जॉइंट A3 : Scarfed joint स्कार्फ जॉइंट A4 : Plain tap joint प्लेन टैप जॉइंट		
		Trade Theory		
33	33	Which joint used for tapping on overhead lines? ओवरहेड लाइनों पर टैपिंग के लिए किस जॉइंट का इस्तेमाल किया जाता है?	2.0	0.00
		A1 : Tee joint टी जॉइंट A2 : Britannia tee joint ब्रिटानिया टी जॉइंट A3 : Western union joint वेस्टर्न यूनियन जॉइंट A4 : Knotted tap joint नॉटेड टैप जॉइंट		
		Trade Theory		
34	34	What is the disadvantage of soldering with a soldering gun? सोल्डरिंग गन से सोल्डरिंग करने का क्या नुकसान है?	2.0	0.00
		A1 : Temperature is difficult to check तापमान जाँचना मुश्किल है A2 : Low temperature obtained कम तापमान प्राप्त A3 : Over heating अधिक गर्म होना A4 : Temperature is difficult to check and overheating तापमान की जांच करना कठिन है और अधिक गर्मी हो सकती है		
		Trade Theory		
35	35	Why the hits of soldering iron made of copper? सोल्डरिंग आयरन के हिट कापर से क्यों बने होते हैं?	2.0	0.00
		A1 : Good conductor of electricity विद्युत का सुचालक A2 : Good conductor of heat ताप का अच्छा संवाहक A3 : Good mechanical strength अच्छी यांत्रिक शक्ति A4 : High cost उच्च लागत		
		Trade Theory		
36	36	What is the name of suitable flux for joining electrical conductors? विद्युत कंडक्टरों को जोड़ने के लिए उपयुक्त फ्लक्स का नाम क्या है?	2.0	0.00

SAMPLE QUESTION PAPER SET 3

		A1 : Zinc chloride जिंक क्लोराइड A2 : Tallow टैलो A3 : Rosin रोसिन A4 : Hydrochloric acid हाइड्रोक्लोरिक एसिड		
		Trade Theory		
37	37	What electrical quantities are related in Ohm's law? ओम के नियम से कौन सी विद्युत मात्राएँ संबंधित हैं? A1 : Current, resistance and power धारा, प्रतिरोध और शक्ति A2 : Current, voltage and resistivity धारा, वोल्टेज और प्रतिरोधकता A3 : Current, voltage and resistance धारा, वोल्टेज, और और प्रतिरोध A4 : Voltage, resistance and current density वोल्टेज, प्रतिरोध और धारा घनत्व	2.0	0.00
		Trade Theory		
38	38	What is the formula for the equivalent resistance (R_T) if the three resistors R_1 , R_2 & R_3 are connected in parallel circuit? समतुल्य प्रतिरोध (R_T) का सूत्र क्या है यदि तीन प्रतिरोधों R_1, R_2 और R_3 समानांतर परिपथ में जुड़े हैं? A1 : $RT = R_1 + R_2 + R_3$ $R_T = R_1 + R_2 + R_T$ A2 : $R_T = \frac{1}{R_1} + \frac{1}{R_2} + \frac{1}{R_3}$ A3 : $R_T = \frac{1}{R_1 + R_2 + R_3}$ A4 : $R_T = \frac{1}{\frac{1}{R_1} + \frac{1}{R_2} + \frac{1}{R_3}}$	2.0	0.00
		Workshop Calculation Science		
39	39	What is the S.I unit of heat? ऊष्मा की एस.आई. इकाई क्या है? A1 : Calorie	2.0	0.00

SAMPLE QUESTION PAPER SET 3

		Calorie A2 : Joule Joule A3 : Centigrade heat unit Centigrade heat unit A4 : British thermal unit British thermal unit		
		Workshop Calculation Science		
40	40	What is the value for specific heat of water? पानी की विशिष्ट ऊष्मा का मान क्या है? A1 : 4 4 A2 : 3 3 A3 : 2 2 A4 : 1 1	2.0	0.00
		Workshop Calculation Science		
41	41	What is the boiling point of water? पानी का क्वथनांक क्या होता है? A1 : 0^oC 0^oC A2 : 32^oC 32^oC A3 : 100^oC 100^oC A4 : 212^oC 212^oC	2.0	0.00
		Workshop Calculation Science		
42	42	Which is the unit of current? धारा की इकाई क्या है? A1 : Ampere एम्पियर A2 : Volt वोल्ट A3 : Ohm ओम A4 : Watt वाट	2.0	0.00
		Workshop Calculation Science		
43	43	What is the flow of electrons in any conductor?	2.0	0.00

SAMPLE QUESTION PAPER SET 3

		किसी कंडक्टर में इलेक्ट्रॉन का प्रवाह क्या होता है? A1 : Voltage वोल्टेज A2 : Current धारा A3 : Resistance प्रतिरोध A4 : Power शक्ति		
		Workshop Calculation Science		
44	44	Which is very good conductor? कौन-सा बहुत अच्छा कंडक्टर है? A1 : Copper तांबा A2 : Cast iron कास्ट आयरन A3 : Wrought iron रॉट आयरन A4 : Steel स्टील	2.0	0.00
		Engineering Drawing		
45	45	Identify the name of tool? उपकरण का नाम पहचानें? 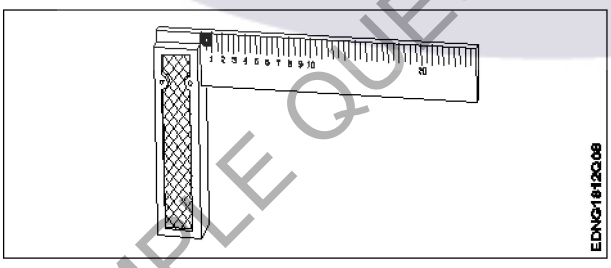 A1 : Try square बढ़ई की गुनिया A2 : Surface gauge सतह नापने का यंत्र A3 : Steel rule स्टील रूल A4 : Feeler gauge फ़ीलर गौज़	2.0	0.00
		Engineering Drawing		
46	46	Identify the name of tool? उपकरण का नाम पहचानें?	2.0	0.00

SAMPLE QUESTION PAPER SET 3



A1 : Ball pein hammer

बॉल पीन हैमर

A2 : Cross pein hammer

क्रॉस पीन हैमर

A3 : Straight pein hammer

सीधे पीन हथौड़ा

A4 : Sledge hammer

स्लेज हैमर

		Engineering Drawing		
47	47	Identify the name of tool? उपकरण का नाम पहचानें?	2.0	0.00

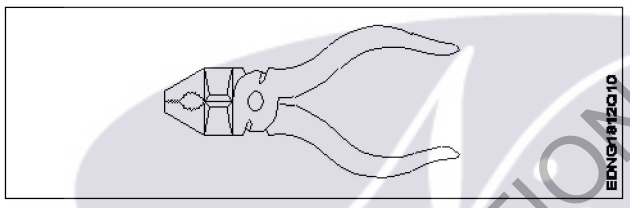

A1 : Hawk-billed shear

हॉक-बिल शीयर

A2 : Aviation shear

उड्डयन कतरनी

A3 : Cutting plier

काटने वाला सरौता

A4 : Double cutting shear

डबल काटने कतरनी

		Engineering Drawing		
48	48	Identify the name of tool? उपकरण का नाम पहचानें?	2.0	0.00

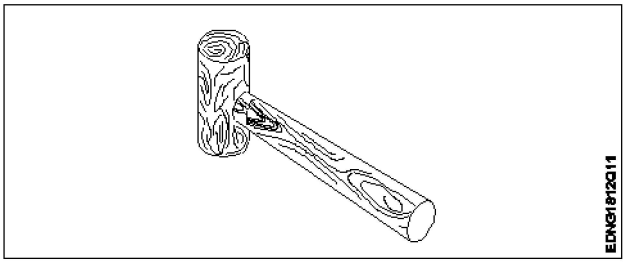

A1 : Ball pein hammer

SAMPLE QUESTION PAPER SET 3

बॉल पीन हैमर

A2 : Mallet

लकड़ी का हथौड़ा

A3 : Cross pein hammer

क्रॉस पीन हैमर

A4 : Staright pein hammer

स्ट्रेट पीन हैमर

		Engineering Drawing		
49	49	Identify the name of tool? उपकरण का नाम पहचानें? 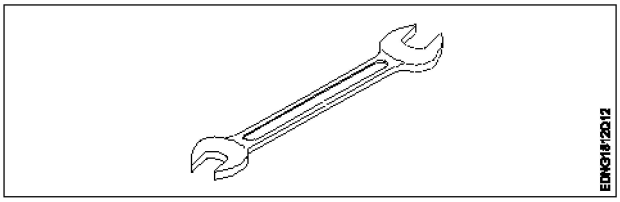 A1 : Open end spanner ओपन एंड स्पैनर A2 : Ring spanner गोल पाना A3 : Combination spanner संयोजन स्पैनर A4 : Adjustable spanner समायोज्य औजार	2.0	0.00
		Engineering Drawing		
50	50	Which dimension correctly marked in the circle as per standard? मानक के अनुसार सर्कल में कौन सा आयाम सही ढंग से चिह्नित है? A1 : 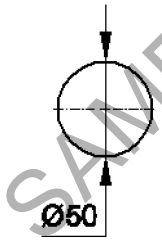 A2 : 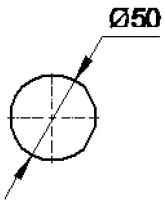 A3 :	2.0	0.00

SAMPLE QUESTION PAPER SET 3

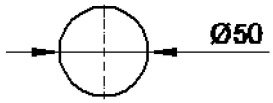

A4 :

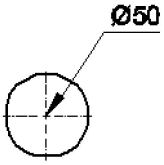

		Employability Skills		
51	51	Which one of the following is a good office etiquette? निम्नलिखित में से कौन सा एक अच्छा कार्यालय शिष्टाचार है? A1 : One should dress formally एक को औपचारिक रूप से पोशाक पहननी चाहिए A2 : One should not be punctual to work काम के लिए समय का पाबंद नहीं होना चाहिए A3 : One should have fancy mobile ring tone एक के पास फैंसी मोबाइल रिंग टोन होना चाहिए A4 : One should litter one's work place व्यक्ति को अपने काम के स्थान पर कूड़ा डालना चाहिए	2.0	0.00
		Employability Skills		
52	52	Word that is pronounced the same as another word but differs in meaning is called _____ वह शब्द जो किसी दूसरे शब्द के समान होता है, लेकिन अर्थ में भिन्न होता है, जिसे _____ कहा जाता है A1 : homophone होमोफ़ोन A2 : homograph होमोग्रफ़ A3 : diphthong संयुक्त स्वर A4 : syllable शब्दांश	2.0	0.00
		Employability Skills		
53	53	_____ can help me learn English. _____ मुझे अंग्रेजी सीखने में मदद कर सकता है। A1 : dedication निष्ठा A2 : fear डर A3 : anger क्रोध	2.0	0.00

SAMPLE QUESTION PAPER SET 3

		A4 : shyness शर्म		
		Employability Skills		
54	54	Which punctuation mark should be used in the following sentence? Is there any site engineer here निम्नलिखित वाक्य में किस विराम चिह्न का प्रयोग किया जाना चाहिए? Is there any site engineer here A1 : ? (question mark) ? (question mark) A2 : , (comma) , (comma) A3 : . (full stop) . (full stop) A4 : ! (exclamation) ! (exclamation)	2.0	0.00
		Employability Skills		
55	55	When is capital letter used? बड़े अक्षर का प्रयोग कब किया जाता है? A1 : Beginning of a sentence एक वाक्य की शुरुआत A2 : Names of persons व्यक्तियों के नाम A3 : Names of places स्थानों के नाम A4 : All the above सब से ऊपर	2.0	0.00
		Employability Skills		
56	56	Which one of the following is a describing word? निम्नलिखित में से कौन-सा एक वर्णनात्मक शब्द है? A1 : eat खाना खा लो A2 : repair मरम्मत A3 : hot गरम A4 : soup शोरबा	2.0	0.00
		Employability Skills		
57	57	When someone says 'Thank you' we should reply and say _____. जब कोई 'Thank you (धन्यवाद)' कहता है तो हमें जवाब देना चाहिए और _____ कहना चाहिए। A1 : Thank you. शुक्रिया A2 : You're welcome.	2.0	0.00

SAMPLE QUESTION PAPER SET 3

		आपका स्वागत है A3 : Bye-bye बाई-बाई A4 : How are you? आप कैसे हैं?		
		Employability Skills		
58	58	Choose the odd word. odd (विषम) शब्द चुनें। A1 : please please A2 : sorry sorry A3 : paper paper A4 : thanks thanks	2.0	0.00
		Employability Skills		
59	59	I am a welder. I work with _____ मैं एक वेल्डर हूँ। मैं _____ साथ कार्य करता हूँ । A1 : nail polish नेल पॉलिश A2 : robots रोबोटों A3 : welding tools वेल्डिंग उपकरण A4 : laptops लैपटॉप	2.0	0.00
		Employability Skills		
60	60	Today's weather is going to be_____. आज का मौसम _____ होने जा रहा है। A1 : Hopeful आशापूर्ण A2 : Warm गरम A3 : Blue नीला A4 : Urgent बहुत ज़रूरी	2.0	0.00
		Employability Skills		
61	61	The word 'when' denotes _____ शब्द 'when (जब)' _____ को दर्शाता है	2.0	0.00

SAMPLE QUESTION PAPER SET 3

		A1 : place स्थान A2 : thing चीज़ A3 : person व्यक्ति A4 : time समय		
		Employability Skills		
62	62	Rahul enjoys _____ with his pet dog. राहुल को अपने पालतू कुत्ते के साथ _____ में मजा आता है। A1 : playing खेलने A2 : writing लिखने A3 : doing करने A4 : washing धुलाने	2.0	0.00
		Employability Skills		
63	63	Having a clear idea of our personality including strengths, weaknesses, thoughts, beliefs, motivation, values etc is called _____. हमारे व्यक्तित्व का स्पष्ट विचार रखने को ताकत, कमजोरियों, विचारों, विश्वासों, प्रेरणा, मूल्यों आदि सहित को _____ कहा जाता है। A1 : Belief विश्वास A2 : Self Awareness आत्म जागरूकता A3 : Myth मिथ A4 : Threat धमकी	2.0	0.00
		Employability Skills		
64	64	_____ are the abilities and qualities you have as a person that helps you grow well in life and career. _____ एक व्यक्ति के रूप में आपके पास मौजूद क्षमताएं और गुण हैं जो आपको जीवन और करियर में अच्छी तरह से बढ़ने में मदद करते हैं। A1 : Personal Strengths व्यक्तिगत ताक़त A2 : Personal weaknesses व्यक्तिगत कमजोरियां A3 : Opportunities मौके A4 Threats	2.0	0.00

SAMPLE QUESTION PAPER SET 3

		: धमकी		
		Employability Skills		
65	65	_____ are the qualities that are considered negative, and need to be worked on. _____ ऐसे गुण हैं जिन्हें नकारात्मक माना जाता है और जिन पर काम करने की आवश्यकता है। A1 : Personal Strengths व्यक्तिगत ताक़त A2 : Personal weaknesses व्यक्तिगत कमजोरियां A3 : Opportunities मौके A4 : Threats धमकी	2.0	0.00
		Employability Skills		
66	66	Which of the following is an example of personal weakness? व्यक्तिगत कमजोरी का उदाहरण निम्नलिखित में से कौन सी है? A1 : Confidence आत्मविश्वास A2 : Being lazy आलसी होना A3 : Hard working मेहनती A4 : Active सक्रिय	2.0	0.00
		Employability Skills		
67	67	Goals are of 2 types _____ लक्ष्य 2 प्रकार के होते हैं: A1 : Good and bad goals अच्छे और बुरे लक्ष्य A2 : Long-term and short-term goals दीर्घकालिक और अल्पकालिक लक्ष्य A3 : Rich and poor goals अमीर और गरीब लक्ष्य A4 : Fixed-term and non-fixed term goals निश्चित अवधि और गैर-निश्चित अवधि के लक्ष्य	2.0	0.00
		Employability Skills		
68	68	What is stress? तनाव क्या है? A1 : Feeling of joy आनंद की अनुभूति A2 : Feeling of surprise आश्चर्य की अनुभूति	2.0	0.00

SAMPLE QUESTION PAPER SET 3

		A3: Feeling of delight आनंद की अनुभूति A4: Feeling of frustration / disappointment निराशा / निराशा की भावना		
		Employability Skills		
69	69	Which of these is a sign of good stress? अच्छे तनाव का संकेत इनमें से कौन सा है? A1: It prevents you from pursuing your goals. यह आपको अपने लक्ष्यों का पीछा करने से रोकता है। A2: It makes you doubt yourself. यह आपको खुद पर शक करता है। A3: Does not lead to long-term tension, loss of sleep. लंबे समय तक तनाव, नींद की कमी नहीं होती है। A4: Makes you physically ill or causes pain. आपको शारीरिक रूप से बीमार बनाता है या दर्द का कारण बनता है।	2.0	0.00
		Employability Skills		
70	70	An activity that stops or reduces stress is called a stress buster. Which of the following according to you is not a stress buster? एक गतिविधि जो तनाव को रोकती है या कम करती है उसे स्ट्रेस बस्टर कहा जाता है। आपके अनुसार निम्नलिखित में से कौन एक स्ट्रेस बस्टर नहीं है? A1: Spending long hours thinking about the problem. लंबे समय तक समस्या के बारे में सोचते रहना। A2: Going to bed on time. समय पर बिस्तर जाना A3: Listening to music. संगीत सुनना A4: Gardening बागवानी	2.0	0.00
		Employability Skills		
71	71	What is mindfulness? माइंडफुलनेस क्या है? A1: It is the technique of not minding anything. यह किसी भी चीज पर ध्यान न देने की तकनीक है। A2: It is about sharpening your brain. यह आपके दिमाग को तेज करने के बारे में है। A3: It is the ability to be fully present in a moment. यह एक पल में पूरी तरह से उपस्थित होने की क्षमता है। A4: It is the word used to describe people who are full of thoughts. यह उन लोगों का वर्णन करने के लिए इस्तेमाल किया जाने वाला शब्द है जो विचारों से भरे हुए हैं।	2.0	0.00
		Employability Skills		
72	72	Which of the following is true about stress? तनाव के बारे में सही निम्नलिखित में से कौन सी है?	2.0	0.00

SAMPLE QUESTION PAPER SET 3

		A1: Stress can be managed तनाव को प्रबंधित किया जा सकता है A2: Stress cannot be controlled तनाव को नियंत्रित नहीं किया जा सकता A3: Stress can not be decreased तनाव कम नहीं हो सकता A4: All of the above ऊपर के सभी		
		Employability Skills		
73	73	Which of the following statements is true? निम्नलिखित में से कौन से वतव्य विवरण सत्य हैं? A1: Only experts can solve any problem किसी भी समस्या का समाधान केवल विशेषज्ञ ही कर सकते हैं A2: The more problems you solve, the better you will get at problem solving! आप जितनी अधिक समस्याओं का समाधान करेंगे, समस्या को सुलझाने में आप उतने ही बेहतर होंगे! A3: We need to pursue a course to even solve a simple problem हमें एक साधारण समस्या को हल करने के लिए भी एक कोर्स करने की आवश्यकता है A4: It is not important to solve any problem किसी भी समस्या का समाधान जरूरी नहीं है	2.0	0.00
		Employability Skills		
74	74	Which of these should be considered while making decisions? निर्णय लेते समय इनमें से किस पर विचार किया जाना चाहिए? A1: Your mood तुम्हारा मिज़ाज A2: The choices of your friends आपके दोस्तों की पसंद A3: The rules of your community आपके समुदाय के नियम A4: Your personal priorities. आपकी व्यक्तिगत प्राथमिकताएं।	2.0	0.00
		Employability Skills		
75	75	Which of these is the full form of SWOT? इनमें से कौन SWOT का पूर्ण रूप है? A1: Special Wellness Organization Theme Special Wellness Organization Theme A2: Speak Work Openly Together Speak Work Openly Together A3: Strong World Olympic Team Strong World Olympic Team A4: Strength Weakness Opportunity Threat Strength Weakness Opportunity Threat	2.0	0.00

SAMPLE QUESTION PAPER SET 3

Electrician Power Distribution - 1st Year - Set 3

S.No.	Correct Answer Key
1	A1
2	A1
3	A3
4	A2
5	A4
6	A1
7	A4
8	A3
9	A2
10	A2
11	A1
12	A1
13	A2
14	A4
15	A4
16	A4
17	A4
18	A4
19	A2
20	A4
21	A3
22	A2
23	A3
24	A3
25	A2
26	A3
27	A2
28	A3
29	A2
30	A3
31	A4
32	A1
33	A2
34	A4
35	A2
36	A3
37	A3
38	A4

S.No.	Correct Answer Key
39	A2
40	A4
41	A3
42	A1
43	A2
44	A1
45	A1
46	A1
47	A3
48	A2
49	A1
50	A2
51	A1
52	A1
53	A1
54	A1
55	A4
56	A3
57	A2
58	A3
59	A3
60	A2
61	A4
62	A1
63	A2
64	A1
65	A2
66	A2
67	A2
68	A4
69	A3
70	A1
71	A3
72	A1
73	A2
74	A4
75	A4

KEY ANSWER SET 3

Note:
"In case answers found to be inaccurate due to typographical error or any other reason please sent mail to **qbnimigrievance@gmail.com**"