Max Marks : 150

All India Trade Test - 2024 for Craftsmen Training Scheme (CTS)
Trade Name: Instrument Mechanic
Year: 1st Year

Exam Date :
Exam Time :

Note:
1. Tick the correct option out of four alternatives provided
2. All questions carry equal marks (2 Marks each)
3. There is no negative marking

SAMPLE QUESTION PAPER SET 3

Sr. No.	Q ID	Question Body and Alternatives	Marks	Negative Marks
		Trade Theory		
1	1	What is the SI unit of flux density? फ्लक्स घनत्व की SI इकाई क्या है? A1 : Farad Farad A2 : Weber Weber A3 : Tesla Tesla A4 : Maxwell Maxwell	2.0	0.00
		Trade Theory		
2	2	What is the unit of susceptance? सकसपटेनस की इकाई क्या है? A1 : Siemens Siemens A2 : Ohm Ohm A3 : Henry Henry A4 : Farad Farad	2.0	0.00
		Trade Theory		
3	3	What is the reciprocal of inductance in AC parallel circuit? एसी समानांतर सर्किट में प्रेरक्त्व का प्रत्यागामी क्या होगी? A1 : Reactance रीएक्टेनस A2 : Admittance एडमीटेंस	2.0	0.00

		A3 : Conductance प्रवाहकत्त्व A4 : Susceptance सक्सपटेन्स		
		Trade Theory		
4	4	The formula used to calculate the power of a DC circuit is…. DC सर्किट की शक्ति की गणना करने के लिए उपयोग किया जाने वाला सूत्र है…… A1 : Voltage x time Voltage x time A2 : Current x voltage Current x voltage A3 : Current x resistance Current x resistance A4 : Voltage x resistance Voltage x resistance	2.0	0.00
		Trade Theory		
5	5	What is the power factor of purely resistive AC circuit? विशुद्ध रूप से प्रतिरोधक AC सर्किट का पावर फेक्टर क्या है? A1 : Zero शून्य A2 : Unity यूनिट A3 : Leading अग्रणी A4 : Lagging पिछडेगा	2.0	0.00
		Trade Theory		
6	6	Which bonding material is used for soldering a joint? किसी जॉइंट को टांका लगाने के लिए किस संबंध सामग्री का उपयोग किया जाता है? A1 : Oil तेल A2 : Flux फ्लक्स A3 : Acid अम्ल A4 : Grease ग्रीज़	2.0	0.00
		Trade Theory		
7	7	How is the soldering method used for joining large metal called? टांका लगाने की विधि का उपयोग बड़े धातु में शामिल होने के लिए कैसे किया जाता है? A1 : Welding	2.0	0.00

SAMPLE QUESTION PAPER SET 3

		वेल्डिंग A2 : Brazing टांकना A3 : Hot soldering गर्म टांका A4 : Soft soldering नरम टांका		
		Trade Theory		
8	8	What is the name of the type of resistor? रजिस्टर के प्रकार का नाम क्या है? 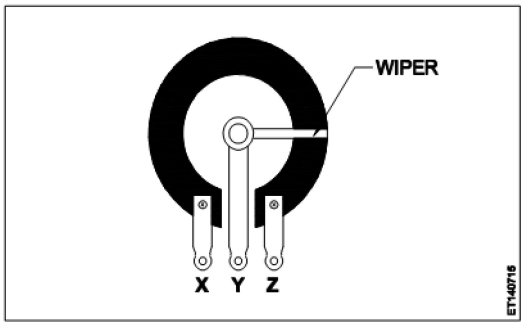 A1 : Carbon type variable कार्बन प्रकार चर A2 : Fixed low wattage type फिक्स्ड लो वॉटेज टाइप A3 : High wattage fixed type उच्च वाट क्षमता निश्चित प्रकार A4 : Wire wound type variable वायर घाव प्रकार चर	2.0	0.00
		Trade Theory		
9	9	What is the colour code for 100Ω resistor? 100Ω रजिस्टर के लिए रंग कोड क्या है? A1 : Brown, black, red भूरा, काला, लाल A2 : Black, brown, black काला, भूरा, काला A3 : Brown, black, brown भूरा, काला, भूरा A4 : Brown, brown, brown भूरा, भूरा, भूरा	2.0	0.00
		Trade Theory		
10	10	What is the result of hysteresis loss in magnetic material? चुंबकीय सामग्री में हिस्टैरिसीस हानि का परिणाम क्या है? A1 : Back emf increases बैक ईएमएफ बढ़ता है	2.0	0.00

SAMPLE QUESTION PAPER SET 3

		A2 : Eddy current decreases एड़ी करंट कम हो जाता है A3 : Magnetic flux increases चुंबकीय प्रवाह बढ़ जाता है A4 : Energy loss takes place ऊर्जा की हानि होती है		
		Trade Theory		
11	11	What is the purpose of trimmer capacitor? ट्रिमर कैपासिटर का उद्देश्य क्या है? A1 : Coupling कपलिंग A2 : Filtering फ़िल्टरिंग A3 : Decoupling दीकाप्लिंग A4 : Fine tuning फ़ाइन ट्यूनिंग	2.0	0.00
		Trade Theory		
12	12	Find the total inductance value of two inductors 10H and 15H of connected in series. श्रृंखला में जुड़े दो प्रेरक 10H और 15H के कुल अधिष्ठापन मूल्य का पता लगाएं। A1 : 05 H 05 H A2 : 10 H 10 H A3 : 15 H 15 H A4 : 25 H 25 H	2.0	0.00
		Trade Theory		
13	13	Which is the name of movement of electrons through a conductor? एक चालक के माध्यम से इलेक्ट्रॉनों के संचलन का नाम क्या है? A1 : Resistance प्रतिरोध A2 : Inductance प्रेक्रत्व A3 : Conductance प्रवाहकत्त्व A4 : Electric current विद्युत करंट	2.0	0.00
		Trade Theory		
14	14	Which battery is used for cellular phones? सेलुलर फोन के लिए किस बैटरी का उपयोग किया जाता है?	2.0	0.00

SAMPLE QUESTION PAPER SET 3

		A1 : Nickel ion निकल आयन A2 : Lithium ion लिथियम आयन A3 : Zinc chloride जिंक क्लोराइड A4 : Sodium sulphur सोडियम सल्फर		
Trade Theory				
15	15	Which material is used for negative terminal of alkaline manganese dioxide batteries? क्षारीय मैंगनीज डाइऑक्साइड बैटरी के नकारात्मक टर्मिनल के लिए किस सामग्री का उपयोग किया जाता है? A1 : Zinc जस्ता A2 : Lithium लिथियम A3 : Cadmium कैडमियम A4 : Nickel hydroxide निकल हाइड्रॉक्साइड	2.0	0.00
Trade Theory				
16	16	What is the total voltage of six 1.5 V cells, connected in series? श्रृंखला में जुड़े छह 1.5 V सेल का कुल वोल्टेज क्या है? A1 : 3 V DC 3 V DC A2 : 6 V DC 6 V DC A3 : 9 V DC 9 V DC A4 : 12 V DC 12 V DC	2.0	0.00
Trade Theory				
17	17	Which component stores electric energy in the form of magnetic field? कौन सा घटक चुंबकीय क्षेत्र के रूप में विद्युत ऊर्जा संग्रहीत करता है? A1 : Diode डायोड A2 : Resistor प्रतिरोध A3 : Inductor प्रेरक A4 : Capacitor	2.0	0.00

SAMPLE QUESTION PAPER SET 3

		संधारित्र		
		Trade Theory		
18	18	The total value of inductors 20H and 35H are connected in series is… श्रेणी में जुडे 20 H और 35 H के प्रेरकों का कुल मूल्य होगा ….. A1 : 45 H 45 H A2 : 55 H 55 H A3 : 65 H 65 H A4 : 75 H 75 H	2.0	0.00
		Trade Theory		
19	19	What is the form factor (K_f) for sinusoidal AC? साइनसोइडल एसी के लिए फॉर्म फैक्टर (K_f) क्या है? A1 : 1.00 1.00 A2 : 1.11 1.11 A3 : 2.22 2.22 A4 : 4.44 4.44	2.0	0.00
		Trade Theory		
20	20	At which temperature the 60:40 solder start melting? किस तापमान पर 60:40 सोल्डरिंग मिलना शुरू होता है? A1 : 100°C 100°C A2 : 200°C 200°C A3 : 300°C 300°C A4 : 380°C 380°C	2.0	0.00
		Trade Theory		
21	21	Which step is important for soldering a joint? एक जॉइंट टांका लगाने के लिए कौन सा कदम महत्वपूर्ण है? A1 : Heating the joint जोड़ को गर्म करना A2 : Cooling the joint जोड़ को ठंडा करना	2.0	0.00

SAMPLE QUESTION PAPER SET 3

		A3 : Pasting the joint जॉइंट को चिपकाना A4 : Cleaning the joint जॉइंट सफाई		
		Trade Theory		
22	22	How much time is required to make a quality soldered joint using soldering iron? टांका लगाने वाले लोहे का उपयोग करके एक गुणवत्ता वाले सोल्डर जॉइंट बनाने के लिए कितना समय आवश्यक है? A1 : 3 - 7 seconds 3 - 7 सेकंड्स A2 : 7 - 10 seconds 7 - 10 सेकंड्स A3 : 10 - 15 seconds 10 - 15 सेकंड्स A4 : 15 - 20 seconds 15 - 20 सेकंड्स	2.0	0.00
		Trade Theory		
23	23	What is the name of effect of changing current in one coil, induces EMF in nearby coil? एक कॉइल में करंट बदलने के प्रभाव का क्या नाम है, पास के कॉइल में EMF को प्रेरित करता है? A1 : Coupling कपलिंग A2 : Induction इंडक्शन A3 : Self induction सेल्फ इंडक्शन A4 : Mutual induction म्यूच्यूअल इंडक्शन	2.0	0.00
		Trade Theory		
24	24	What is the value of electric current flow when 6 coulomb of charge flow rate for 2 second time duration? जब 2 सेकंड की अवधि के लिए 6 कूलम्ब आवेश प्रवाह दर होती है तो विद्युत धारा प्रवाह का मान क्या होता है? A1 : 3 Ampere 3 एम्पेयर A2 : 3 Volts 3 वोल्टस A3 : 2 Amperes 2 एम्पेयर A4 : 2 Volts 2 वोल्टस	2.0	0.00
		Trade Theory		
25	25	What is the inverse of resistance called? रेजिस्टेंस का व्युत्क्रम क्या कहलाता है? A1 : Inductance	2.0	0.00

SAMPLE QUESTION PAPER SET 3

		इन्डक्टन्स A2 : Conductance कंडक्टेन्स A3 : Resistivity रेसिस्टिविटी A4 : Permittivity परमिटिविटी		
		Trade Theory		
26	26	Which type of material have maximum energy gap? किस प्रकार की सामग्री में अधिकतम ऊर्जा अंतराल होता है? A1 : Conductors कंडक्टर A2 : Semiconductors सेमिकंडक्टर्स A3 : Insulators इन्सुलेटर्स A4 : Superconductors सुपरकंडक्टर्स	2.0	0.00
		Trade Theory		
27	27	What is the fundamental property of an insulating material? किसी विद्युतरोधी सामग्री का मूलभूत गुण क्या है? A1 : Low breakdown voltage लो ब्रेकडाउन वोल्टेज A2 : High dielectric strength हाई डिएलेक्ट्रिक स्ट्रेंथ A3 : Less flexibility लेस्स फ्लेक्सिबिलिटी A4 : Hydroscopic हाइड्रोस्कोपिक	2.0	0.00
		Trade Theory		
28	28	When two resistances of 8Ω are joined in parallel find the equivalent resistance of the setup? जब 8Ω के दो प्रतिरोध समानांतर में जुड़े होते हैं तो सेटअप का समतुल्य प्रतिरोध ज्ञात करें? A1 : 8Ω 8Ω A2 : 16Ω 16Ω A3 : 4Ω 4Ω A4 : 12Ω 12Ω	2.0	0.00
		Trade Theory		
29	29	What is the algebraic sum of voltages around any closed path in a network is equal to?	2.0	0.00

SAMPLE QUESTION PAPER SET 3

		किसी नेटवर्क में किसी बंद पथ के चारों ओर वोल्टेज का बीजगणितीय योग किसके बराबर होता है? A1: Infinity इंफिनिटी A2: 1 1 A3: 0 0 A4: Negative polarity नेगेटिव पोलेरिटी		
		Trade Theory		
30	30	Which one of the following statement is based on the Kirchhoff's Current Law? निम्नलिखित में से कौन सा कथन किरचॉफ के करंट लॉ पर आधारित है? A1: The charge can be accumulated at the node चार्ज को नोड पर जमा किया जा सकता है A2: Charge cannot be accumulated at the node नोड पर चार्ज जमा नहीं किया जा सकता A3: Energy is stored at the node ऊर्जा नोड पर संग्रहित होती है A4: Depending on the circuit charge can be accumulated at the circuit सर्किट के आधार पर सर्किट पर चार्ज जमा किया जा सकता है	2.0	0.00
		Trade Theory		
31	31	Which of the following is most conductive metal of electricity? निम्नलिखित में से कौन सी विद्युत की सर्वाधिक सुचालक धातु है? A1: Steel स्टील A2: Iron आयरन A3: Copper कॉपर A4: Silver सिल्वर	2.0	0.00
		Trade Theory		
32	32	Which among these is not an insulator? इनमें से कौन सा इन्सुलेटर नहीं है? A1: Silver सिल्वर A2: Wool वूल A3: Wood वुड	2.0	0.00

SAMPLE QUESTION PAPER SET 3

		A4 : Paper पेपर		
		Trade Theory		
33	33	What is the first two colours In resistor colour coding? रेसिस्टर कलर कोडिंग में पहले दो रंग कौन से हैं? A1 : First two digits of value मान के पहले दो अंक A2 : Tolerance and multiplier टॉलरेंस और गुणक A3 : Multiplier and temperature co-efficient गुणक और तापमान गुणांक A4 : Tolerance and temperature co-efficient टॉलरेंस और तापमान गुणांक	2.0	0.00
		Trade Theory		
34	34	Which electrical quantities a multimeter measures? मल्टीमीटर कौन सी विद्युत मात्रा मापता है? A1 : DC/ AC Voltage and DC/ AC current DC/ AC वोल्टेज और DC/ AC करंट A2 : DC/ AC Voltage and resistance DC/ AC वोल्टेज और प्रतिरोध A3 : DC/ AC Voltage and Power DC/ AC वोल्टेज और पावर A4 : DC/ AC Voltage and DC/ AC current and resistance values DC/ AC वोल्टेज और DC/ AC करंट और प्रतिरोध मान	2.0	0.00
		Trade Theory		
35	35	How many LCD segments are there in a digital multimeter displays device? डिजिटल मल्टीमीटर डिस्प्ले डिवाइस में कितने LCD सेगमेंट होते हैं? A1 : 5 5 A2 : 6 6 A3 : 7 7 A4 : 8 8	2.0	0.00
		Trade Theory		
36	36	Which metal alloy is used for soldering? सोल्डरिंग के लिए किस धातु मिश्र धातु का उपयोग किया जाता है? A1 : Tin and silver टिन और सिल्वर A2 : Tin and copper	2.0	0.00

SAMPLE QUESTION PAPER SET 3

		टिन और कॉपर A3 : Tin with lead लेड के साथ टिन A4 : Tin with zinc जिंक के साथ टिन		
		Trade Theory		
37	37	What is the metal used for soldering iron bit? सोल्डरिंग आयरन बिट के लिए किस धातु का उपयोग किया जाता है? A1 : Brass ब्रास A2 : Tin टिन A3 : Steel स्टील A4 : Copper कॉपर	2.0	0.00
		Trade Theory		
38	38	What is the purpose of flux in soldering? सोल्डरिंग में फ्लक्स का उद्देश्य क्या है? A1 : Wash surplus solder अधिशेष सोल्डर धो लें A2 : Prevent oxide forming ऑक्साइड बनने से रोकें A3 : Increase fluidity of solder सोल्डर की तरलता बढ़ाएँ A4 : Fill gap formed while soldering सोल्डरिंग लगाने के दौरान बने गैप को भरें	2.0	0.00
		Workshop Calculation Science		
39	39	How many watts for 1 horse power in British system? ब्रिटिश सिस्टम में, 1 हॉर्स पावर में कितने वाट्स होते हैं? A1 : 726 watts 726 watts A2 : 736 watts 736 watts A3 : 746 watts 746 watts A4 : 756 watts 756 watts	2.0	0.00
		Workshop Calculation Science		
40	40	What is the S.I unit of heat? ऊष्मा की एस.आई. इकाई क्या है?	2.0	0.00

SAMPLE QUESTION PAPER SET 3

		A1 : Calorie Calorie A2 : Joule Joule A3 : Centigrade heat unit Centigrade heat unit A4 : British thermal unit British thermal unit		
Workshop Calculation Science				
41	41	What is the boiling point of water? पानी का क्वथनांक क्या होता है? A1 : 0^oC 0^oC A2 : 32^oC 32^oC A3 : 100^oC 100^oC A4 : 212^oC 212^oC	2.0	0.00
Workshop Calculation Science				
42	42	Which is the unit of current? धारा की इकाई क्या है? A1 : Ampere एम्पियर A2 : Volt वोल्ट A3 : Ohm ओम A4 : Watt वाट	2.0	0.00
Workshop Calculation Science				
43	43	What is the flow of electrons in any conductor? किसी कंडक्टर में इलेक्ट्रॉन का प्रवाह क्या होता है? A1 : Voltage वोल्टेज A2 : Current धारा A3 : Resistance प्रतिरोध A4 : Power शक्ति	2.0	0.00

SAMPLE QUESTION PAPER SET 3

Workshop Calculation Science				
44	44	Which is very good conductor? कौन-सा बहुत अच्छा कंडक्टर है? A1 : Copper तांबा A2 : Cast iron कास्ट आयरन A3 : Wrought iron रॉट आयरन A4 : Steel स्टील	2.0	0.00
Engineering Drawing				
45	45	Identify the name of tool? उपकरण का नाम पहचानें। 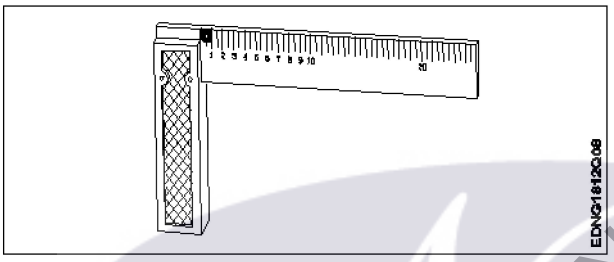 A1 : Try square बढ़ई की गुनिया A2 : Surface gauge सतह नापने का यंत्र A3 : Steel rule स्टील रूल A4 : Feeler gauge फ़ीलर गौज़	2.0	0.00
Engineering Drawing				
46	46	Identify the name of tool? उपकरण का नाम पहचानें। 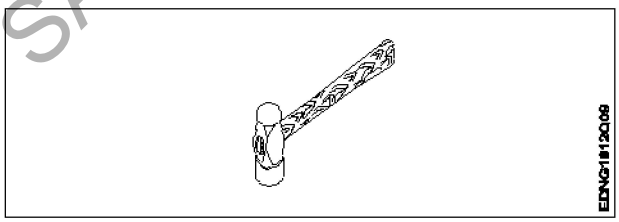 A1 : Ball pein hammer बॉल पीन हैमर A2 : Cross pein hammer क्रॉस पीन हैमर	2.0	0.00

SAMPLE QUESTION PAPER SET 3

		A3 : Straight pein hammer सीधे पीन हथौड़ा A4 : Sledge hammer स्लेज हैमर		
		Engineering Drawing		
47	47	Identify the name of tool? उपकरण का नाम पहचानें। 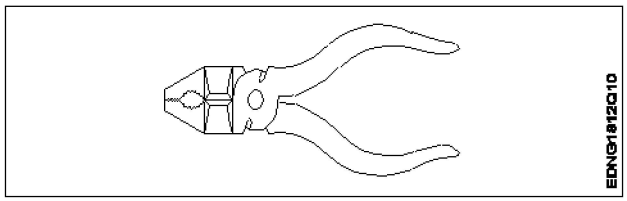 A1 : Hawk-billed shear हॉक-बिल शीयर A2 : Aviation shear उड्डयन कतरनी A3 : Cutting plier काटने वाला सरौता A4 : Double cutting shear डबल काटने कतरनी	2.0	0.00
		Engineering Drawing		
48	48	Identify the name of tool? उपकरण का नाम पहचानें। 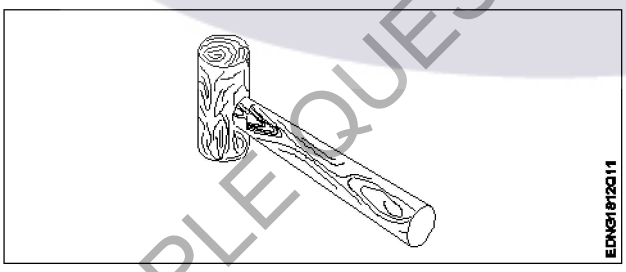 A1 : Ball pein hammer बॉल पीन हैमर A2 : Mallet लकड़ी का हथौड़ा A3 : Cross pein hammer क्रॉस पीन हैमर A4 : Staright pein hammer स्ट्रेट पीन हैमर	2.0	0.00
		Engineering Drawing		
49	49	Identify the name of tool? उपकरण का नाम पहचानें।	2.0	0.00

SAMPLE QUESTION PAPER SET 3

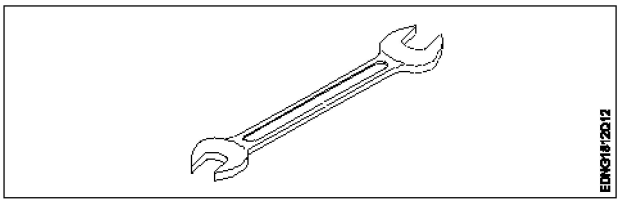

A1 : Open end spanner

ओपन एंड स्पैनर

A2 : Ring spanner

गोल पाना

A3 : Combination spanner

संयोजन स्पैनर

A4 : Adjustable spanner

समायोज्य औजार

Engineering Drawing

50	50	Which dimension correctly marked in the circle as per standard? मानक के अनुसार सर्कल में कौन सा आयाम सही ढंग से चिह्नित है?	2.0	0.00

A1 :

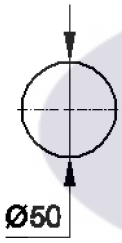

A2 :

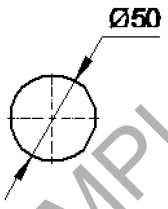

A3 :

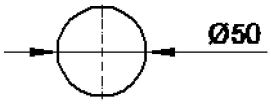

A4 :

SAMPLE QUESTION PAPER SET 3

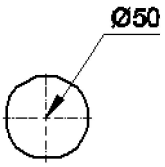

		Employability Skills		
51	51	Which one of the following is a good office etiquette? निम्नलिखित में से कौन सा एक अच्छा कार्यालय शिष्टाचार है? A1 : One should dress formally एक को औपचारिक रूप से पोशाक पहननी चाहिए A2 : One should not be punctual to work काम के लिए समय का पाबंद नहीं होना चाहिए A3 : One should have fancy mobile ring tone एक के पास फैंसी मोबाइल रिंग टोन होना चाहिए A4 : One should litter one's work place व्यक्ति को अपने काम के स्थान पर कूड़ा डालना चाहिए	2.0	0.00
		Employability Skills		
52	52	Word that is pronounced the same as another word but differs in meaning is called _____ वह शब्द जो किसी दूसरे शब्द के समान होता है, लेकिन अर्थ में भिन्न होता है, जिसे _____ कहा जाता है A1 : homophone होमोफ़ोन A2 : homograph होमोग्रफ़ A3 : diphthong संयुक्त स्वर A4 : syllable शब्दांश	2.0	0.00
		Employability Skills		
53	53	_____ can help me learn English. _____ मुझे अंग्रेजी सीखने में मदद कर सकता है। A1 : dedication निष्ठा A2 : fear डर A3 : anger क्रोध A4 : shyness शर्म	2.0	0.00
		Employability Skills		
54	54	Which punctuation mark should be used in the following sentence? Is there any site engineer here निम्नलिखित वाक्य में किस विराम चिह्न का प्रयोग किया जाना चाहिए? Is there any site engineer here	2.0	0.00

SAMPLE QUESTION PAPER SET 3

		A1 : ? (question mark) ? (question mark) A2 : , (comma) , (comma) A3 : . (full stop) . (full stop) A4 : ! (exclamation) ! (exclamation)		
		Employability Skills		
55	55	When is capital letter used? बड़े अक्षर का प्रयोग कब किया जाता है? A1 : Beginning of a sentence एक वाक्य की शुरुआत A2 : Names of persons व्यक्तियों के नाम A3 : Names of places स्थानों के नाम A4 : All the above सब से ऊपर	2.0	0.00
		Employability Skills		
56	56	Which one of the following is a describing word? निम्नलिखित में से कौन-सा एक वर्णनात्मक शब्द है? A1 : eat खाना खा लो A2 : repair मरम्मत A3 : hot गरम A4 : soup शोरबा	2.0	0.00
		Employability Skills		
57	57	When someone says 'Thank you' we should reply and say _____. जब कोई 'Thank you (धन्यवाद)' कहता है तो हमें जवाब देना चाहिए और _____ कहना चाहिए। A1 : Thank you. शुक्रिया A2 : You're welcome. आपका स्वागत है A3 : Bye-bye बाई-बाई A4 : How are you? आप कैसे हैं?	2.0	0.00

SAMPLE QUESTION PAPER SET 3

		Employability Skills		
58	58	Choose the odd word. odd (विषम) शब्द चुनें। A1 : please please A2 : sorry sorry A3 : paper paper A4 : thanks thanks	2.0	0.00
		Employability Skills		
59	59	I am a welder. I work with _____ मैं एक वेल्डर हूँ। मैं _____ साथ कार्य करता हूँ । A1 : nail polish नेल पॉलिश A2 : robots रोबोटों A3 : welding tools वेल्डिंग उपकरण A4 : laptops लैपटॉप	2.0	0.00
		Employability Skills		
60	60	Today's weather is going to be _____. आज का मौसम _____ होने जा रहा है। A1 : Hopeful आशापूर्ण A2 : Warm गरम A3 : Blue नीला A4 : Urgent बहुत ज़रूरी	2.0	0.00
		Employability Skills		
61	61	The word 'when' denotes _____ शब्द 'when (जब)' _____ को दर्शाता है A1 : place स्थान A2 : thing चीज़ A3 : person	2.0	0.00

SAMPLE QUESTION PAPER SET 3

		व्यक्ति A4 : time समय		
		Employability Skills		
62	62	Rahul enjoys _____ with his pet dog. राहुल को अपने पालतू कुत्ते के साथ _____ में मजा आता है। A1 : playing खेलने A2 : writing लिखने A3 : doing करने A4 : washing धुलाने	2.0	0.00
		Employability Skills		
63	63	Having a clear idea of our personality including strengths, weaknesses, thoughts, beliefs, motivation, values etc is called _____. हमारे व्यक्तित्व का स्पष्ट विचार रखने को ताकत, कमजोरियों, विचारों, विश्वासों, प्रेरणा, मूल्यों आदि सहित को _____ कहा जाता है। A1 : Belief विश्वास A2 : Self Awareness आत्म जागरूकता A3 : Myth मिथ A4 : Threat धमकी	2.0	0.00
		Employability Skills		
64	64	_____ are the abilities and qualities you have as a person that helps you grow well in life and career. _____ एक व्यक्ति के रूप में आपके पास मौजूद क्षमताएं और गुण हैं जो आपको जीवन और करियर में अच्छी तरह से बढ़ने में मदद करते हैं। A1 : Personal Strengths व्यक्तिगत ताक़त A2 : Personal weaknesses व्यक्तिगत कमजोरियां A3 : Opportunities मौके A4 : Threats धमकी	2.0	0.00
		Employability Skills		
65	65	_____ are the qualities that are considered negative, and need to be worked on. _____ ऐसे गुण हैं जिन्हें नकारात्मक माना जाता है और जिन पर काम करने की आवश्यकता है। A1 : Personal Strengths	2.0	0.00

SAMPLE QUESTION PAPER SET 3

		व्यक्तिगत ताक़त A2 : Personal weaknesses व्यक्तिगत कमजोरियां A3 : Opportunities मौके A4 : Threats धमकी		
		Employability Skills		
66	66	Which of the following is an example of personal weakness? व्यक्तिगत कमजोरी का उदाहरण निम्नलिखित में से कौन सी है? A1 : Confidence आत्मविश्वास A2 : Being lazy आलसी होना A3 : Hard working मेहनती A4 : Active सक्रिय	2.0	0.00
		Employability Skills		
67	67	Goals are of 2 types _____ लक्ष्य 2 प्रकार के होते हैं: A1 : Good and bad goals अच्छे और बुरे लक्ष्य A2 : Long-term and short-term goals दीर्घकालिक और अल्पकालिक लक्ष्य A3 : Rich and poor goals अमीर और गरीब लक्ष्य A4 : Fixed-term and non-fixed term goals निश्चित अवधि और गैर-निश्चित अवधि के लक्ष्य	2.0	0.00
		Employability Skills		
68	68	What is stress? तनाव क्या है? A1 : Feeling of joy आनंद की अनुभूति A2 : Feeling of surprise आश्चर्य की अनुभूति A3 : Feeling of delight आनंद की अनुभूति A4 : Feeling of frustration / disappointment निराशा / निराशा की भावना	2.0	0.00
		Employability Skills		

SAMPLE QUESTION PAPER SET 3

69	69	Which of these is a sign of good stress? अच्छे तनाव का संकेत इनमें से कौन सा है? A1: It prevents you from pursuing your goals. यह आपको अपने लक्ष्यों का पीछा करने से रोकता है। A2: It makes you doubt yourself. यह आपको खुद पर शक करता है। A3: Does not lead to long-term tension, loss of sleep. लंबे समय तक तनाव, नींद की कमी नहीं होती है। A4: Makes you physically ill or causes pain. आपको शारीरिक रूप से बीमार बनाता है या दर्द का कारण बनता है।	2.0	0.00
		Employability Skills		
70	70	An activity that stops or reduces stress is called a stress buster. Which of the following according to you is not a stress buster? एक गतिविधि जो तनाव को रोकती है या कम करती है उसे स्ट्रेस बस्टर कहा जाता है। आपके अनुसार निम्नलिखित में से कौन एक स्ट्रेस बस्टर नहीं है? A1: Spending long hours thinking about the problem. लंबे समय तक समस्या के बारे में सोचते रहना। A2: Going to bed on time. समय पर बिस्तर जाना A3: Listening to music. संगीत सुनना A4: Gardening बागवानी	2.0	0.00
		Employability Skills		
71	71	What is mindfulness? माइंडफुलनेस क्या है? A1: It is the technique of not minding anything. यह किसी भी चीज पर ध्यान न देने की तकनीक है। A2: It is about sharpening your brain. यह आपके दिमाग को तेज करने के बारे में है। A3: It is the ability to be fully present in a moment. यह एक पल में पूरी तरह से उपस्थित होने की क्षमता है। A4: It is the word used to describe people who are full of thoughts. यह उन लोगों का वर्णन करने के लिए इस्तेमाल किया जाने वाला शब्द है जो विचारों से भरे हुए हैं।	2.0	0.00
		Employability Skills		
72	72	Which of the following is true about stress? तनाव के बारे में सही निम्नलिखित में से कौन सी है? A1: Stress can be managed तनाव को प्रबंधित किया जा सकता है A2: Stress cannot be controlled तनाव को नियंत्रित नहीं किया जा सकता A3: Stress can not be decreased	2.0	0.00

SAMPLE QUESTION PAPER SET 3

		तनाव कम नहीं हो सकता A4 : All of the above ऊपर के सभी		
		Employability Skills		
73	73	Which of the following statements is true? निम्नलिखित में से कौन से वतव्य विवरण सत्य हैं? A1 : Only experts can solve any problem किसी भी समस्या का समाधान केवल विशेषज्ञ ही कर सकते हैं A2 : The more problems you solve, the better you will get at problem solving! आप जितनी अधिक समस्याओं का समाधान करेंगे, समस्या को सुलझाने में आप उतने ही बेहतर होंगे! A3 : We need to pursue a course to even solve a simple problem हमें एक साधारण समस्या को हल करने के लिए भी एक कोर्स करने की आवश्यकता है A4 : It is not important to solve any problem किसी भी समस्या का समाधान जरूरी नहीं है	2.0	0.00
		Employability Skills		
74	74	Which of these should be considered while making decisions? निर्णय लेते समय इनमें से किस पर विचार किया जाना चाहिए? A1 : Your mood तुम्हारा मिज़ाज A2 : The choices of your friends आपके दोस्तों की पसंद A3 : The rules of your community आपके समुदाय के नियम A4 : Your personal priorities. आपकी व्यक्तिगत प्राथमिकताएं।	2.0	0.00
		Employability Skills		
75	75	Which of these is the full form of SWOT? इनमें से कौन SWOT का पूर्ण रूप है? A1 : Special Wellness Organization Theme Special Wellness Organization Theme A2 : Speak Work Openly Together Speak Work Openly Together A3 : Strong World Olympic Team Strong World Olympic Team A4 : Strength Weakness Opportunity Threat Strength Weakness Opportunity Threat	2.0	0.00

SAMPLE QUESTION PAPER SET 3

Instrument Mechanic - 1st Year - Set 3

S.No.	Correct Answer Key
1	A3
2	A1
3	A4
4	A2
5	A2
6	A2
7	A2
8	A1
9	A3
10	A4
11	A4
12	A4
13	A4
14	A2
15	A1
16	A3
17	A3
18	A2
19	A2
20	A2
21	A1
22	A1
23	A4
24	A1
25	A2
26	A3
27	A2
28	A3
29	A3
30	A2
31	A4
32	A1
33	A1
34	A4
35	A3
36	A3
37	A4
38	A2

S.No.	Correct Answer Key
39	A3
40	A2
41	A3
42	A1
43	A2
44	A1
45	A1
46	A1
47	A3
48	A2
49	A1
50	A2
51	A1
52	A1
53	A1
54	A1
55	A4
56	A3
57	A2
58	A3
59	A3
60	A2
61	A4
62	A1
63	A2
64	A1
65	A2
66	A2
67	A2
68	A4
69	A3
70	A1
71	A3
72	A1
73	A2
74	A4
75	A4

KEY ANSWER SET 3

Note:
"In case answers found to be inaccurate due to typographical error or any other reason please sent mail to **qbnimigrievance@gmail.com**"