Max Marks : 150

ALL INDIA TRADE TEST - 2024 FOR CRAFSTMEN
TRAINING SCHEME (CTS)
Trade Name: Technician Mechatronics
Year: 1st Year

Exam Date :
Exam Time :

Note:
1. Tick the correct option out of four alternatives provided
2. All questions carry equal marks (2 Marks each)
3. There is no negative marking

SAMPLE QUESTION PAPER SET 1

Sr. No.	Q ID	Question Body and Alternatives	Marks	Negative Marks
		Trade Theory		
1	1	How can avoid accidents in workshop? कार्यशाला में दुर्घटनाओं से कैसे बचा जा सकता है? A1 : By using risky precautions जोखिम भरी सावधानियों का उपयोग करके A2 : By using unsafe precautions असुरक्षित सावधानियों का उपयोग करके A3 : By using safety precautions सुरक्षा सावधानियों का उपयोग करके A4 : By using own precautions खुद की सावधानियां बरत कर	2.0	0.00
		Trade Theory		
2	2	Which skill denotes the exchanging of information? कौन सा कौशल सूचना के आदान-प्रदान को दर्शाता है? A1 : Listening skill सुनने का कौशल A2 : Communication skill संचार कौशल A3 : Educational skill शैक्षिक कौशल A4 : Behavioural skill व्यवहार कौशल	2.0	0.00
		Trade Theory		
3	3	What is the first 30 minutes to the victim for treatment? पीड़ित को इलाज के लिए पहले 30 मिनट क्या है? A1 : Silver hours चांदी के घंटे A2 : Papers hours कागज के घंटे A3 : Golden hours सुनहरे घंटे A4 : Steel hours	2.0	0.00

		स्टील के घंटे		
		Trade Theory		
4	4	What is the use of rack for tools? उपकरण के लिए रैक का उपयोग क्या है? A1 : For material storage सामग्री भंडारण के लिए A2 : For oil storage तेल भंडारण के लिए A3 : For tools storage उपकरण भंडारण के लिए A4 : For component storage घटक भंडारण के लिए	2.0	0.00
		Trade Theory		
5	5	What is the advantage of occupational safety? व्यावसायिक सुरक्षा का लाभ क्या है? A1 : Decrease in accident and Increase working time दुर्घटना में कमी और कार्य समय में वृद्धि A2 : Decrease in accident and Decrease working time दुर्घटना में कमी और काम के समय में कमी A3 : Increase in accident and Increase working time दुर्घटना में वृद्धि और कार्य समय में वृद्धि A4 : Increase in accident and Decrease working time दुर्घटना में वृद्धि और काम के समय में कमी	2.0	0.00
		Trade Theory		
6	6	What is the part marked as 'x'? 'X' के रूप में चिह्नित भाग क्या है? 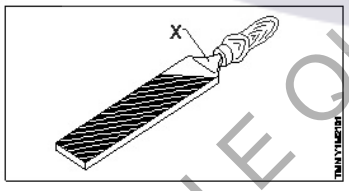 A1 : Ferrule फेरुल A2 : Edge एज A3 : Tang टैंग A4 : Tip टिप	2.0	0.00
		Trade Theory		
7	7	Which fire extinguisher is used to put off class 'C' type of fire? क्लास class C 'प्रकार की आग बुझाने के लिए किस अग्निशामक यंत्र का उपयोग किया जाता है? A1 : Foam type फोम प्रकार A2 : Jet of water	2.0	0.00

SAMPLE QUESTION PAPER SET 1

		पानी की जेट A3 : Dry powdered सूखा चूर्ण A4 : Carbon-di-oxide कार्बन डाइऑक्साइड		
		Trade Theory		
8	8	What is the name of the vice? इस वाइस का नाम क्या है? 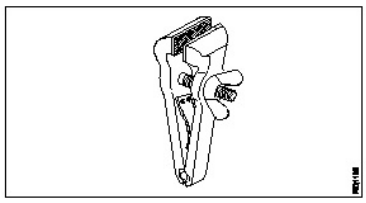 A1 : Pin vice पिन वाइस A2 : Pipe vice पाइप वाइस A3 : Hand vice हैण्ड वाइस A4 : Quick releasing vice क्विक रिलीजिंग वाइस	2.0	0.00
		Trade Theory		
9	9	What is the material to manufacture bench vice? बेंच वाइस को बनाने की सामग्री (मटेरियल) क्या है? A1 : Tool steel टूल स्टील A2 : High carbon steel उच्च कार्बन इस्पात A3 : Medium carbon steel मध्यम कार्बन स्टील A4 : Cast iron कास्ट आयरन	2.0	0.00
		Trade Theory		
10	10	Why slight convexity is given on the face of hammer? क्यों हथौड़ा के चेहरे पर थोड़ी उत्तलता दी जाती है? A1 : To make effective striking प्रभावी चोट बनाने के लिए A2 : To avoid digging of the edge किनारे की खुदाई से बचने के लिए A3 : To allow even load on striking चोट मरते समय एक समान लोड की अनुमति देने के लिए A4 : To prevent damage to work surface काम की सतह को नुकसान को रोकने के लिए	2.0	0.00
		Trade Theory		
11	11	What is the use of fine pitch hacksaw blades?	2.0	0.00

SAMPLE QUESTION PAPER SET 1

		फाइन पिच हैकसॉ ब्लेड का उपयोग क्या है? A1 : To cut soft metal मुलायम धातु को काटने के लिए A2 : To cut high speed steel हाई स्पीड स्टील को काटने के लिए A3 : To cut high carbon steel हाई कार्बन स्टील को काटने के लिए A4 : To cut conduit and other thin tubes कान्डूइट और अन्य पतली ट्यूबों को काटने के लिए		
		Trade Theory		
12	12	What is the use of screw driver? स्क्रू ड्राइवर का उपयोग क्या है? A1 : Hold the screws स्क्रू को पकड़ना A2 : Tighten or loosen screws स्क्रू को कसना या ढीला करना A3 : Tighten or loosen bolts बोल्ट को कसना या ढीला करना A4 : Tighten or loosen rivets रीवेट को कसना या ढीला करना	2.0	0.00
		Trade Theory		
13	13	What is the effect of electric shock at very low voltage levels (Less than 40V)? बहुत कम वोल्टेज स्तर (40V से कम) पर बिजली के झटके का क्या प्रभाव होता है? A1 : Fibrillation फाइब्रिलेशन A2 : Muscles contact मांसपेशियों का संपर्क A3 : Burning of the skin त्वचा का जलना A4 : Unpleasant tingling sensation अप्रिय झुनझुनी अनुभूति	2.0	0.00
		Trade Theory		
14	14	What happen if the clearance angle of chisel is too high? यदि छेनी का क्लीयरेंस कोण बहुत अधिक है तो क्या होगा? A1 : Slipping of chisel चिज़ेल का फिसलना A2 : Digging on the surface सतह पर खुदाई(डिग्गिंग) A3 : Cutting edge will break काटने की धार टूट जाएगी A4 : Heavy metal removal from the surface सतह से भारी धातु हटाना	2.0	0.00
		Trade Theory		
15	15	Which vice is used for holding hollow cylindrical jobs?	2.0	0.00

SAMPLE QUESTION PAPER SET 1

		खोखले बेलनाकार जॉब को पकड़ने के लिए किस वाइस का उपयोग किया जाता है? A1 : Pin vice पिन वाइस A2 : Pipe vice पाइप वाइस A3 : Hand vice हैंड वाईस A4 : Bench vice बेंच वाइस		
Trade Theory				
16	16	What is the reason for scratches produced on filed surface? फाइल की गई सतह पर स्क्रैपर आने का क्या कारण है? A1 : Pinning पिनिंग A2 : Glazing ग्लेज़िंग A3 : File bite फाइल बाईट A4 : Warping वार्पिंग	2.0	0.00
Trade Theory				
17	17	How chipped out scraper can be repaired? चिप आउट स्क्रैपर की मरम्मत कैसे की जा सकती है? A1 : Filing फाइलिंग A2 : Lapping लैपिंग A3 : Chiselling चिज़ेलिंग A4 : Grinding and honing पीसना और सानना	2.0	0.00
Trade Theory				
18	18	What are the contents of check list for job safety analysis (JSA)? जॉब सेफ्टी एनालिसिस (JSA) के लिए चेक लिस्ट की सामग्री क्या है? A1 : Work area, material, machine, tools कार्य क्षेत्र, सामग्री, मशीन, औजार A2 : Men, machine, material, tools पुरुष, मशीन, सामग्री, औजार A3 : Men, machine, work area, tools पुरुष, मशीन, कार्य क्षेत्र, उपकरण A4 : Men, work area. Material, tools पुरुष, कार्य क्षेत्र, सामग्री, औजार	2.0	0.00
Trade Theory				
19	19	Identity one activity which decodes and attaches some meaning to a message?	2.0	0.00

SAMPLE QUESTION PAPER SET 1

		एक ऐसी गतिविधि की पहचान करें जो किसी संदेश को डिकोड करती है और उसे कुछ अर्थ देती है? A1 : Receiving रिसीविंग A2 : Driving ड्राइविंग A3 : Sending सेंडिंग A4 : Cleaning क्लीनिंग		
		Trade Theory		
20	20	How long would you check to see if an unconscious casualty is breathing normally? आप यह देखने के लिए कितनी देर तक जाँच करेंगे कि कोई बेहोश व्यक्ति सामान्य रूप से साँस ले रहा है या नहीं? A1 : Not more than 10 seconds 10 सेकंड से अधिक नहीं A2 : Approximately 10 seconds लगभग 10 सेकंड A3 : Exactly 10 seconds ठीक 10 सेकंड A4 : At least 10 seconds कम से कम 10 सेकंड	2.0	0.00
		Trade Theory		
21	21	Which of the following are kept in heavy equipment store? निम्नलिखित में से कौन सी भारी उपकरण स्टोर में रखी जाती हैं? A1 : Water tanks पानी की टंकियाँ A2 : Files & forms of front office department फ्रंट ऑफिस डिपार्टमेंट की फाइलें और फॉर्म A3 : Bulky items used by House keeping staff हाउस कीपिंग स्टाफ द्वारा इस्तेमाल की जाने वाली भारी वस्तुएँ A4 : Laundry लॉन्ड्री	2.0	0.00
		Trade Theory		
22	22	Basic cleaning supplies for a house keeping department include _____. हाउस कीपिंग विभाग के लिए बुनियादी सफाई आपूर्ति में _____ शामिल हैं। A1 : Germicides रोगाणुनाशक A2 : Window & bowl cleaners विंडो और बाउल क्लीनर A3 : Furniture & floor polish फर्नीचर और फर्श पॉलिश A4 : All the above उपर्युक्त सभी	2.0	0.00
		Trade Theory		
23	23	What is the name of hammer?	2.0	0.00

SAMPLE QUESTION PAPER SET 1

		हैमर का नाम क्या है? 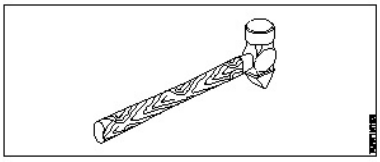 A1 : Ball- pin hammer बॉल-पिन हथौड़ा A2 : Cross-pin hammer क्रॉस-पिन हथौड़ा A3 : Sledge hammer स्लेज हैमर A4 : Mallet मैलेट		
		Trade Theory		
24	24	Which one among the following scrapers is used for scraping on bearing bush? निम्नलिखित में से कौन सा स्क्रैपर बियरिंग बुश पर स्क्रैपिंग के लिए उपयोग किया जाता है? A1 : Flat scraper फ्लैट स्क्रैपर A2 : Triangular scraper ट्राईएंगुलर स्क्रैपर A3 : Half round scraper हाफ राउंड स्क्रैपर A4 : Round scraper राउंड स्क्रैपर	2.0	0.00
		Trade Theory		
25	25	What is the S.I. unit of length? लंबाई की S.I इकाई क्या है? A1 : Metre Metre A2 : Centimetre Centimetre A3 : Millimetre Millimetre A4 : Micrometre Micrometre	2.0	0.00
		Trade Theory		
26	26	What is the angle of dot punch? डॉट पंच का कोण क्या है? A1 : 45° 45° A2 : 90° 90° A3 : 60° 60°	2.0	0.00

SAMPLE QUESTION PAPER SET 1

		A4 : 30° 30°		
		Trade Theory		
27	27	What is the part marked as 'X' in the surface gauge? सतह गेज में 'X' के रूप में चिह्नित हिस्सा क्या है? 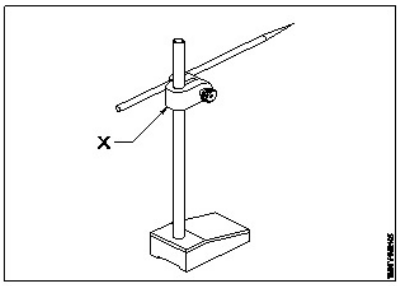 A1 : Nut नट A2 : Snug गरम A3 : Spindle धुरा A4 : Scriber खुरचने का औजर	2.0	0.00
		Trade Theory		
28	28	What is the part marked as 'X' in combination set? संयोजन सेट में 'X' के रूप में चिह्नित भाग क्या है? 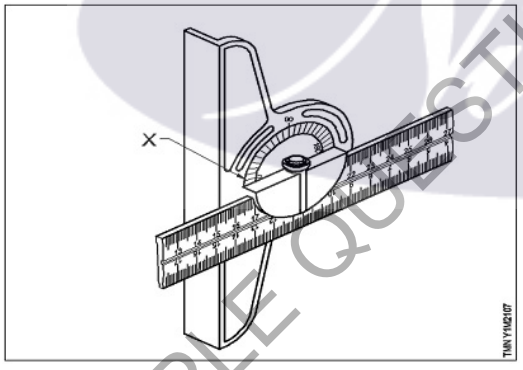 A1 : Bevel head बेवल हेड A2 : Centre head सेंटर हेड A3 : Square head वर्ग हेड A4 : Protractor head प्रोटेक्टर हेड	2.0	0.00
		Trade Theory		
29	29	What is the angle marked as 'X' in drill? ड्रिल में 'X' के रूप में चिह्नित कोण क्या है?	2.0	0.00

SAMPLE QUESTION PAPER SET 1

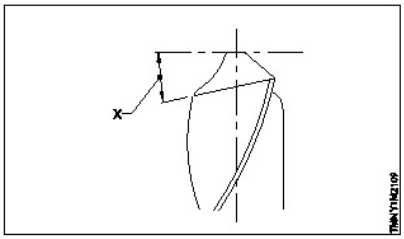

A1 : Helix angle

हेलिक्स कोण

A2 : Point angle

बिंदु कोण

A3 : Lip clearance angle

लिप क्लीयरेंस कोण

A4 : Chisel edge angle

छेनी एज कोण

		Trade Theory		
30	30	Which drilling machine the spindle head is moved towards or away from the column? धुरी के सिर को किस ड्रिलिंग मशीन से स्तंभ की ओर या दूर ले जाया जाता है? A1 : Pillar drilling machine पिलर ड्रिलिंग मशीन A2 : Gang drilling machine गैंग ड्रिलिंग मशीन A3 : Radial drilling machine रेडियल ड्रिलिंग मशीन A4 : Sensitive bench drilling machine संवेदनशील बेंच ड्रिलिंग मशीन	2.0	0.00
		Trade Theory		
31	31	What is the part marked as 'X'? 'X' के रूप में चिह्नित भाग क्या है? 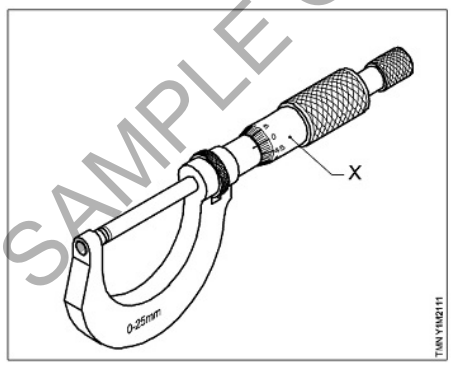 A1 : Spindle धुरा A2 : Sleeve आस्तीन A3 : Thimble थिम्बल A4 : Spindle lock धुरी का ताला	2.0	0.00

SAMPLE QUESTION PAPER SET 1

		Trade Theory		
32	32	Which chisel used for squaring materials at the corners, joints? कार्नर और जॉइंट्स पर मटेरियल को चोखोर करने के लिए किस छेनी का उपयोग किया जाता है? A1 : Flat chisel फ्लैट छेनी A2 : Cross cut chisel क्रॉस कट छेनी A3 : Diamond point chisel डायमंड पॉइंट छेनी A4 : Half round nose chisels हाफ राउंड नोज छेनी	2.0	0.00
		Trade Theory		
33	33	What is the purpose of slots provided in the slotted angle plate? स्लॉटेड एंगल प्लेट में दिए गए स्लॉट का उद्देश्य क्या है? A1 : Job clamping जॉब को पकड़ने के लिए A2 : Easy handling आसान से हैंडल A3 : Reduce weight वजन कम करना A4 : Better appearance बेहतर दिखावट	2.0	0.00
		Trade Theory		
34	34	Which is used for filling narrow grooves and angles above 10°? 10° से ऊपर के संकीर्ण खांचे और कोण को भरने के लिए किसका उपयोग किया जाता है? A1 : Square file स्क्वायर फ़ाइल A2 : Half round file आधी गोल फाइल (हाफ राउंड फाइल) A3 : Triangular file त्रिकोणीय फ़ाइल A4 : Knife edge file नाइफ एज फाइल	2.0	0.00
		Trade Theory		
35	35	Which chisel is used for separating materials after chain drilling? चेन ड्रिलिंग के बाद मटेरियल को अलग करने के लिए किस छेनी का उपयोग किया जाता है? A1 : Web chisel वेब छेनी A2 : Flat chisel फ्लैट छेनी A3 : Cross cut chisel क्रॉस कट छेनी A4 : Diamond point chisel डायमंड पॉइंट छेनी	2.0	0.00

SAMPLE QUESTION PAPER SET 1

		Trade Theory		
36	36	Why the cutting faces of files are slightly bellied on length wise? क्यों फाइलों के कटिंग फेसेस को लंबाई के साइड से थोड़ा बेवल किया जाता है? A1 : Get proper grip over workpiece वर्कपीस पर उचित पकड़ प्राप्त करें A2 : Filing flat surfaces is made easier फ्लैट सतहों की फाइलिंग आसान करने के लिए A3 : Permit clearance between file face and the workpiece फ़ाइल फेस और वर्कपीस के बीच क्लीयरेंस प्रदान करने के लिए A4 : Ensure more pressure on workpiece while filing फाइलिंग करते समय वर्कपीस पर अधिक दबाव सुनिश्चित करें	2.0	0.00
		Trade Theory		
37	37	What is the name of drilling machine? इस ड्रिलिंग मशीन का नाम क्या है? 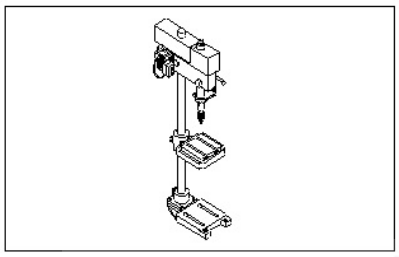 A1 : Pillar drilling machine पिलर ड्रिलिंग मशीन A2 : Gang drilling machine गैंग ड्रिलिंग मशीन A3 : Bench drilling machine बेंच ड्रिलिंग मशीन A4 : Radial drilling machine रेडियल ड्रिलिंग मशीन	2.0	0.00
		Trade Theory		
38	38	How the wide range of depth can be measured by depth micrometer? डेप्थ माइक्रोमीटर द्वारा ज्यादा रेंज की गहराई को कैसे मापा जा सकता है? A1 : Lengthy sleeve लम्बी स्लीव के द्वारा A2 : Lengthy spindle लम्बी स्पिंडल के द्वारा A3 : Adjustable base समायोज्य बेस के द्वारा A4 : Equipped with a set of extension rods एक्सटेंशन रॉड्स के एक सेट के द्वारा	2.0	0.00
		Workshop Calculation Science		
39	39	What are the two classifications of system of units? इकाइयों की प्रणाली के दो प्रकार कोनसे हैं? A1 : British and Metric ब्रिटिश और मीट्रिक	2.0	0.00

SAMPLE QUESTION PAPER SET 1

		A2 : Gravitational and non-gravitational गुरुत्वाकर्षण और गैर-गुरुत्वाकर्षण A3 : Fundamental and derived मौलिक और व्युत्पन्न A4 : Metric and International मैट्रिक और इंटरनेशनल		
		Workshop Calculation Science		
40	40	What are fundamental units? इनमे से मूलभूत इकाइयाँ कोन-कोनसी हैं? A1 : Length, Mass, Volume लंबाई, द्रव्यमान, आयतन A2 : Length, Mass, Time लंबाई, द्रव्यमान, समय A3 : Length, Mass, Area लंबाई, द्रव्यमान, क्षेत्रफल A4 : Length, Pressure, Volume लंबाई, दाब , आयतन	2.0	0.00
		Workshop Calculation Science		
41	41	What denotes letter 'M' in MKS system? MKS प्रणाली में 'M' अक्षर क्या दर्शाता है? A1 : Mile Mile A2 : Meter Meter A3 : Millimeter Millimeter A4 : Micron Micron	2.0	0.00
		Workshop Calculation Science		
42	42	How many millimetres are there in 1 inch? 1 इंच में कितने मिलीमीटर होते हैं? A1 : 2.54 mm 2.54 mm A2 : 25.4 mm 25.4 mm A3 : 24.5 mm 24.5 mm A4 : 2.45 mm 2.45 mm	2.0	0.00
		Workshop Calculation Science		
43	43	What is the square root of 529? 529 का वर्गमूल क्या है? A1 : 13 13 A2 : 23	2.0	0.00

SAMPLE QUESTION PAPER SET 1

		23 A3 : 33 33 A4 : 43 43		
		Workshop Calculation Science		
44	44	Convert 0.456 decimal fraction into percentage? 0.456 दशमलव भिन्न को प्रतिशत में बदलिये? A1 : 45.6% 45.6% A2 : 4.56% 4.56% A3 : 0.456% 0.456% A4 : 0.0456% 0.0456%	2.0	0.00
		Engineering Drawing		
45	45	Identify the conventional symbol of material? चित्र में दिखाए गए सामग्री के पारंपरिक प्रतीक का पता लगाएं? 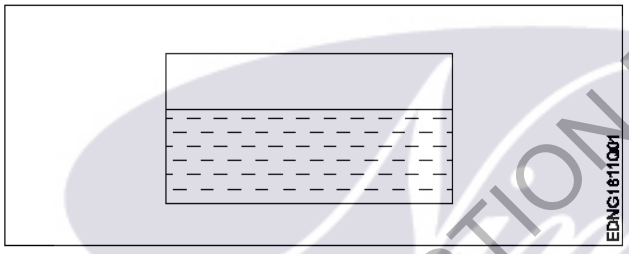 A1 : Water पानी A2 : Concrete ठोस A3 : Asbestos ऐस्बेटस A4 : Glass कांच	2.0	0.00
		Engineering Drawing		
46	46	Identify the conventional symbol of material? चित्र में दिखाए गए सामग्री के पारंपरिक प्रतीक का पता लगाएं? 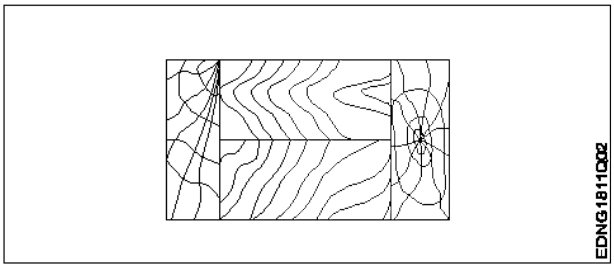 A1 : Lead लेड	2.0	0.00

SAMPLE QUESTION PAPER SET 1

		A2 : Glass कांच A3 : Wood लकड़ी A4 : Paper कागज़		
		Engineering Drawing		
47	47	Identify the name of instrument? चित्र में दिखाए गए उपकरणों के नाम की पहचान करें? 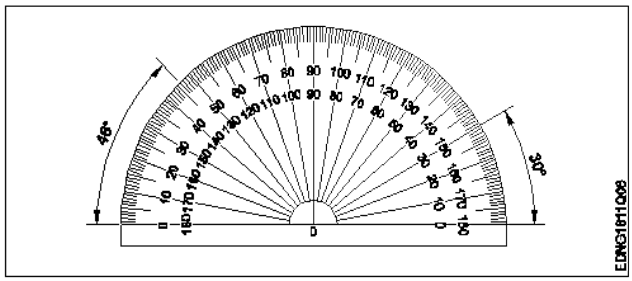 A1 : Set square गुनिया A2 : Protractor चांदा A3 : French curve फ़्रांसीसी वक्र A4 : ' T ' square टी स्क्वायर	2.0	0.00
		Engineering Drawing		
48	48	Identify the name of set square? सेट स्क्वायर का नाम खोजें? 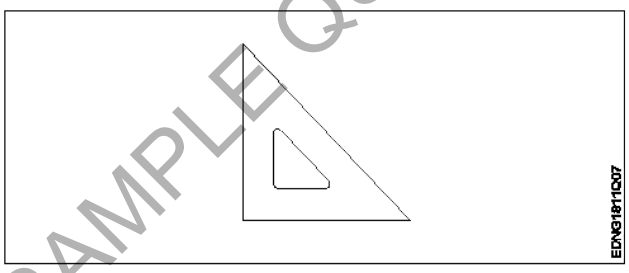 A1 : 15° set square 15° सेट स्क्वायर A2 : 60° set square 60° सेट स्क्वायर A3 : 30° set square 30° सेट स्क्वायर A4 : 45° set square 45° सेट स्क्वायर	2.0	0.00
		Engineering Drawing		
49	49	Compass used to draw for___. कम्पास का उपयोग ___ को ड्रा करने के लिए किया जाता है.	2.0	0.00

SAMPLE QUESTION PAPER SET 1

		A1 : rectangle आयत A2 : square वर्ग A3 : circle वृत्त A4 : triangle त्रिकोण		
		Engineering Drawing		
50	50	Which title block position is correct as standard practice? एक मानक अभ्यास के रूप में कौन सी शीर्षक ब्लॉक स्थिति सही है? A1 : 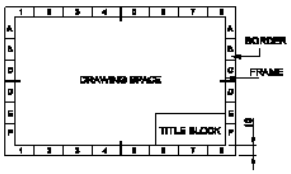 A2 : 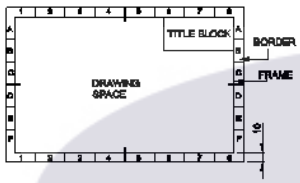 A3 : 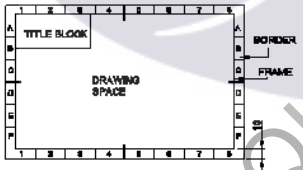 A4 : 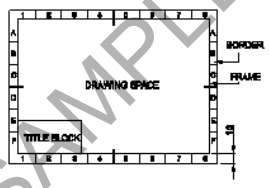 	2.0	0.00
		Employability Skills		
51	51	To be in a job or work is _____ नौकरी या काम में होना है …… A1 : Employ रोजगार A2 : Skill कौशल A3 : Knowledge ज्ञान A4 : Aptitude योग्यता	2.0	0.00

SAMPLE QUESTION PAPER SET 1

		Employability Skills		
52	52	Information like date of birth, permanent address form a part of one's _____ in the resume. जन्म तिथि, स्थायी पता जैसी जानकारी रिज्यूमे में किसी के _____ का हिस्सा होती है। A1 : Career objectives कैरियर के उद्देश्यों A2 : Personal details व्यक्तिगत विवरण A3 : Achievements उपलब्धियों A4 : Qualifications योग्यता	2.0	0.00
		Employability Skills		
53	53	A person with a growth mindset is always willing to _____ एक विकास मानसिकता वाला व्यक्ति हमेशा ..... तैयार रहता है। A1 : relax आराम करने में A2 : grow, change, learn बढ़ो, बदलो, सीखो A3 : keep quiet चुप रहने में A4 : become rich अमीर बनने	2.0	0.00
		Employability Skills		
54	54	Jobs that have become outdated in the past 5 years _____ ..... नौकरियां जो पिछले 5 वर्षों में पुरानी हो गई हैं। A1 : STD booth STD बूथ A2 : ola ओला A3 : uber उबेर A4 : swiggy Swiggy	2.0	0.00
		Employability Skills		
55	55	Ethics means _____ नैतिकता का अर्थ है....। A1 : decide what is right and wrong for a human conduct तय करें कि मानव आचरण के लिए क्या सही है और क्या गलत A2 : name of a city एक शहर का नाम A3 : employability skills रोज़गार कौशल A4 : not relevant to society समाज से संबंधित नहीं है	2.0	0.00
		Employability Skills		

SAMPLE QUESTION PAPER SET 1

56	56	Values are _____ मान हैं ……। A1 : not punctual समयनिष्ठ नहीं A2 : Motivates our attitude and action हमारे दृष्टिकोण और कार्रवाई को प्रेरित करता है A3 : very costly बहुत क़ीमती A4 : all have same value सभी का मूल्य समान है	2.0	0.00
		Employability Skills		
57	57	_____ is a brief statement about purpose and principles of the Constitution. .....संविधान के उद्देश्य और सिद्धांतों के बारे में संक्षिप्त विवरण है। A1 : Syllabus पाठ्यक्रम A2 : Module मापांक A3 : The Preamble प्रस्तावना A4 : Unit इकाई	2.0	0.00
		Employability Skills		
58	58	Identify the improper term _____ अनुचित पद को पहचानिए …….। A1 : green pollution हरित प्रदूषण A2 : water pollution जल प्रदूषण A3 : air pollution वायु प्रदूषण A4 : sound pollution ध्वनि प्रदूषण	2.0	0.00
		Employability Skills		
59	59	NAPS Stands for _____ NAPS का मतलब _____ A1 : National Apprenticeship Promotion Scheme National Apprenticeship Promotion Scheme A2 : National Appointment Promoting Scheme National Appointment Promoting Scheme A3 : Non Apprenticeship Promotion Scheme Non Apprenticeship Promotion Scheme A4 : National Advertising Promotion Scheme National Advertising Promotion Scheme	2.0	0.00
		Employability Skills		
60	60	_____ is major changes takes place in manufacturing.	2.0	0.00

SAMPLE QUESTION PAPER SET 1

		..... मैन्युफैक्चरिंग में प्रमुख परिवर्तन होते हैं। A1 : Green revolution हरित क्रांति A2 : Industry revolution उद्योग क्रांति A3 : Water revolution जल क्रांति A4 : Food revolution खाद्य क्रांति		
		Employability Skills		
61	61	1st industrial revolution started in _____ पहली औद्योगिक क्रांति की शुरुआत .....। A1 : 18th century 18 वीं सदी A2 : 19th century 19 वीं सदी A3 : 20th century 20 वीं सदी A4 : 21st century 21 वीं सदी	2.0	0.00
		Employability Skills		
62	62	Hard Skill _____ कठिन कौशल.....। A1 : quick learner त्वरित शिक्षार्थी A2 : time management समय प्रबंधन A3 : 60 WPM typing speed 60 WPM टाइपिंग स्पीड A4 : spoken English मौखिक अंग्रेजी	2.0	0.00
		Employability Skills		
63	63	To grow yourself you must _____ अपने आप को विकसित करने के लिए आपको चाहिए .....। A1 : know your office अपने कार्यालय को जानें A2 : know yourself खुद को जानें A3 : know your institute अपने संस्थान को जानें A4 : know your country अपने देश को जानो	2.0	0.00
		Employability Skills		
64	64	Time management _____	2.0	0.00

SAMPLE QUESTION PAPER SET 1

		समय प्रबंधन.....। A1 : complete your task on time अपना कार्य समय पर पूरा करें A2 : managing time प्रबंधन समय A3 : hard skill कठिन कौशल A4 : problem solving समस्या को सुलझाना		
		Employability Skills		
65	65	A resume should be _____. एक रिज्यूम _____ होना चाहिए A1 : short and precise छोटा और सटीक A2 : fancy and colourful फैंसी और रंगीन A3 : having long and detailed information लंबी और विस्तृत जानकारी होना A4 : having acronyms and abbreviation समरूप और संक्षिप्त नाम होना	2.0	0.00
		Employability Skills		
66	66	A written description of duties and responsibilities to be carried out in a job is called _____. किसी कार्य में किए जाने वाले कर्तव्यों और जिम्मेदारियों का लिखित विवरण _____ कहा जाता है A1 : CV CV A2 : job description job description A3 : resume resume A4 : job application job application	2.0	0.00
		Employability Skills		
67	67	After receiving interview call, what is the next step? साक्षात्कार कॉल प्राप्त करने के बाद, अगला कदम क्या है? A1 : Send application letter आवेदन पत्र भेजें A2 : Prepare the resume रिज्यूम तैयार करें A3 : Appear at interview साक्षात्कार में में जाये A4 : Send resume रिज्यूम भेजे	2.0	0.00
		Employability Skills		
68	68	Choose suitable “wh” word for the given sentence. “_____ animal do you like?” दिए गए वाक्य के लिए उपयुक्त “wh” शब्द चुनें। “_____ animal do you like?”	2.0	0.00

SAMPLE QUESTION PAPER SET 1

		A1 : Which Which A2 : Why Why A3 : Where Where A4 : When When		
		Employability Skills		
69	69	Choose the correct punctuation mark after the word “Rohan” in the given sentence. “Rohan David and Ram are playing hide and seek” दिए गए वाक्य में शब्द "रोहन" के बाद सही विराम चिह्न चुनें।“Rohan David and Ram are playing hide and seek” A1 : Comma (,) अल्पविराम (,) A2 : Period (_) अवधि (_) A3 : Slash (/) स्लैश (/) A4 : Hyphen (-) हाइफ़न (-)	2.0	0.00
		Employability Skills		
70	70	Choose the correct response for the given question. “How have you been”? दिए गए प्रश्न के लिए सही उत्तर चुनिए। “How have you been”? A1 : Very well, And you? Very well, And you? A2 : Thank you_ And you? Thank you_ And you? A3 : Same to you Same to you A4 : On vacation_ And you? On vacation_ And you?	2.0	0.00
		Employability Skills		
71	71	Choose the correct response of the given question. “When did the accident happen”? दिए गए प्रश्न की सही प्रतिक्रिया चुनें। “When did the accident happen”? A1 : in the hotel in the hotel A2 : during travelling during travelling A3 : At 10:30 last night At 10:30 last night A4 : On the table On the table	2.0	0.00
		Employability Skills		
72	72	Choose the correct tense of the verb. “I _____ music when I was child” क्रिया का सही काल चुनें। “I _____music when I was child”	2.0	0.00

SAMPLE QUESTION PAPER SET 1

		A1: learn learn A2: am learning am learning A3: will learn will learn A4: had learnt had learnt		
		Employability Skills		
73	73	Curriculum vitae is also known as _____ . Curriculum vitae को _____ के रूप में भी जाना जाता है। A1: circular परिपत्र A2: resume रिज्यूम A3: job application form नौकरी के लिए आवेदन पत्र A4: leave application छुट्टी की अर्जी	2.0	0.00
		Employability Skills		
74	74	Fill in the blank with comparative adjective. “Your pencil is _____ than mine” तुलनात्मक विशेषण के साथ रिक्त स्थान भरें। “Your pencil is_____ than mine” A1: sharp sharp A2: sharper sharper A3: blunt blunt A4: thick thick	2.0	0.00
		Employability Skills		
75	75	Fill in the blank with correct future tense of verb. “We _____ to the zoo after Breakfast “ क्रिया के सही भविष्य काल के साथ रिक्त स्थान भरें। “We_____to the zoo after Breakfast “ A1: went went A2: are going are going A3: had gone had gone A4: will go will go	2.0	0.00

SAMPLE QUESTION PAPER SET 1

Technician Mechatronics - 1st Year - Set 1

S.No.	Correct Answer Key
1	A3
2	A2
3	A3
4	A3
5	A1
6	A3
7	A3
8	A3
9	A4
10	A2
11	A4
12	A2
13	A4
14	A2
15	A2
16	A1
17	A4
18	A1
19	A1
20	A1
21	A3
22	A4
23	A2
24	A3
25	A1
26	A3
27	A2
28	A4
29	A3
30	A3
31	A3
32	A3
33	A1
34	A4
35	A1
36	A2
37	A1
38	A4

S.No.	Correct Answer Key
39	A3
40	A2
41	A2
42	A2
43	A2
44	A1
45	A1
46	A3
47	A2
48	A4
49	A3
50	A1
51	A1
52	A2
53	A2
54	A1
55	A1
56	A2
57	A3
58	A1
59	A1
60	A2
61	A1
62	A3
63	A2
64	A1
65	A1
66	A2
67	A3
68	A1
69	A1
70	A1
71	A3
72	A4
73	A2
74	A2
75	A4

KEY ANSWER SET 1

Note:
"In case answers found to be inaccurate due to typographical error or any other reason please sent mail to **qbnimigrievance@gmail.com**"