Max Marks : 150

All India Trade Test - 2024 for Crafstmen Training Scheme (CTS)
Trade Name: Technician Mechatronics
Year: 1st Year

Exam Date :
Exam Time :

Note:
1. Tick the correct option out of four alternatives provided
2. All questions carry equal marks (2 Marks each)
3. There is no negative marking

SAMPLE QUESTION PAPER SET 2

Sr. No.	Q ID	Question Body and Alternatives	Marks	Negative Marks
		Trade Theory		
1	1	Which part in drilling machine is to achieve different speed? ड्रिलिंग मशीन में कौन सा भाग विभिन्न गति प्राप्त करने के लिए है? A1 : Flat pulley फ्लैट पुल्ली A2 : Jockey pulley जॉकी पुल्ली A3 : Stepped pulley स्टेप पुल्ली A4 : Fast and loose pulley फ़ास्ट एंड लूस पुल्ली	2.0	0.00
		Trade Theory		
2	2	What is the maximum size of the hole can be drilled by sensitive drilling machine? संवेदनशील ड्रिलिंग मशीन द्वारा छेद का अधिकतम आकार क्या ड्रिल किया जा सकता है? A1 : 1.25 mm 1.25 mm A2 : 12.5 mm 12.5 mm A3 : 25 mm 25 mm A4 : 12.5 cm 12.5 cm	2.0	0.00
		Trade Theory		
3	3	What is the formula to find tap drill size in general purpose? सामान्य प्रयोजन में टेप ड्रिल आकार को खोजने का सूत्र क्या है? A1 : Major diameter minus pitch मेजर डाया मीटर माइनस पिच A2 : Major diameter minus 3 x pitch मेजर डाया मीटर माइनस 3 x पिच	2.0	0.00

		A3 : Major diameter minus 2 x pitch मेजर डाया मीटर माइनस 2 x पिच A4 : Major diameter minus 1/2 x pitch मेजर डाया मीटर माइनस 1/2 x पिच		
		Trade Theory		
4	4	What is the accuracy of metric outside micrometer? मीट्रिक आउटसाइड माइक्रोमीटर की सटीकता क्या है? A1 : 0.01 mm 0.01 mm A2 : 0.001 mm 0.001 mm A3 : 0.02 mm 0.02 mm A4 : 0.002 mm 0.002 mm	2.0	0.00
		Trade Theory		
5	5	Which marking media provides clear lines on finished surface? कौन सा मार्किंग मीडिया तैयार सतह पर स्पष्ट रेखाएँ प्रदान करता है? A1 : White wash व्हाइट वॉश A2 : Prussian blue प्रशियन ब्लू A3 : Copper sulphate कॉपर सल्फेट A4 : Cellulose lacquer सेलूलोज़ लैकर	2.0	0.00
		Trade Theory		
6	6	What is the reading of outside micrometer 50 to 75 mm? 50 से 75mm के आउटसाइड माइक्रोमीटर की रीडिंग क्या है? 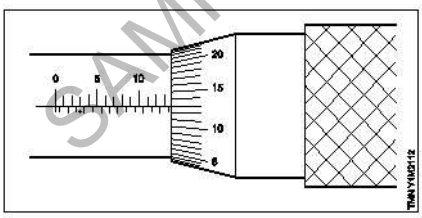 A1 : 63.63 mm 63.63 mm A2 : 63.00 mm 63.00 mm A3 : 63.36 mm 63.36 mm A4 : 63.13 mm	2.0	0.00

SAMPLE QUESTION PAPER SET 2

		63.13 mm		
		Trade Theory		
7	7	What is the spindle movement of one division of thimble with spindle thread of 0.5mm pitch? 0.5mm पिच के स्पिंडल थ्रेड के साथ थिम्बल के एक डिवीजन की स्पिंडल मूवमेंट क्या है? A1 : 0.01 mm 0.01 mm A2 : 0.10 mm 0.10 mm A3 : 1.00 mm 1.00 mm A4 : 10.0 mm 10.0 mm	2.0	0.00
		Trade Theory		
8	8	What is the reading of a vernier caliper? वर्नियर कैलिपर की रीडिंग क्या है? 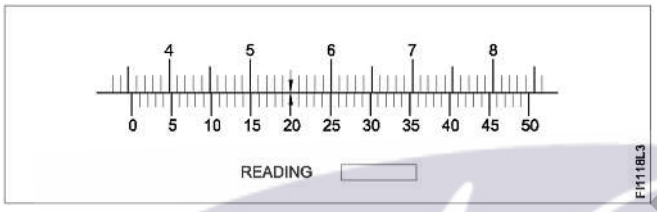 A1 : 35.1 mm 35.1 mm A2 : 35.2 mm 35.2 mm A3 : 35.3 mm 35.3 mm A4 : 35.4 mm 35.4 mm	2.0	0.00
		Trade Theory		
9	9	Which file is used to make the job close to the finishing size? काम को फिनिशिंग साइज़ के करीब लाने के लिए किस फ़ाइल का उपयोग किया जाता है? A1 : Single cut file सिंगल कट फ़ाइल A2 : Curved cut file कर्व्ड कट फ़ाइल A3 : Second cut file सेकेंड कट फाइल A4 : Double cut file डबल कट फ़ाइल	2.0	0.00
		Trade Theory		
10	10	Name the defect that causes the metal chips to clog between the teeth of file. उस दोष का नाम बताइए जिसके कारण फ़ाइल के दांतों के बीच मेटल के चिप्स फंस जाते हैं। A1 File bite	2.0	0.00

SAMPLE QUESTION PAPER SET 2

		: फ़ाइल बाइट A2 : Pinning of file फ़ाइल की पिनिंग A3 : Warping of file फाइल का टेढ़ा-मेढ़ा होना A4 : Glazing of file फ़ाइल की ग्लेज़िंग		
		Trade Theory		
11	11	What is the use of bevel protractor? बेवल प्रोट्रैक्टर का उपयोग क्या है? A1 : Check the length लंबाई की जाँच करें A2 : Set the work piece वर्क पीस सेट करना A3 : Measure the angle कोण मापना A4 : Measure the depth गहराई मापना	2.0	0.00
		Trade Theory		
12	12	Why the hand taps are chamfered at the lead? हैंड टैप्स लीड पर क्यों चम्फर किए जाते हैं? A1 : Aligning संरेखित करना A2 : Finishing फ़िनिशिंग A3 : Strengthening मजबूत बनाना A4 : Gripping ग्रिपिंग	2.0	0.00
		Trade Theory		
13	13	Why marking tables are made up of cast iron? मार्किंग टेबल कास्ट आयरन से क्यों बने होते हैं? A1 : Self lubricating स्व-चिकनाई A2 : Make more rigidity ज़्यादा कठोरता बनाना A3 : Maintain the accuracy सटीकता बनाए रखना A4 : Prevent thermal expansion थर्मल विस्तार को रोकना	2.0	0.00

SAMPLE QUESTION PAPER SET 2

		Trade Theory		
14	14	Which activity causes excessive wear and chattering of drill bit while drilling? ड्रिलिंग करते समय ड्रिल बिट के अत्यधिक घिसने और चटकने का कारण कौन सी गतिविधि है? A1 : Too fast feed rate बहुत तेज़ फ़ीड दर A2 : Too slow feed rate फ़ीड दर बहुत धीमी है A3 : More cutting speed अधिक कटिंग स्पीड A4 : Too slow spindle speed बहुत धीमी स्पिंडल गति	2.0	0.00
		Trade Theory		
15	15	Why ribs are provided in the angle plate? एंगल प्लेट में रिब्स क्यों दी जाती हैं? A1 : Provide flatness समतलता प्रदान करें A2 : Prevent distortion विरूपण को रोकना A3 : Provide squareness चौकोरपन प्रदान करना A4 : Support the machined surface मशीनीकृत सतह का सपोर्ट करना	2.0	0.00
		Trade Theory		
16	16	Which part of the drill carries the coolant to the cutting edge? ड्रिल का कौन सा हिस्सा कूलेंट को कटिंग एज तक ले जाता है? A1 : Lip लिप A2 : Land लैंड A3 : Flute फ्लूट A4 : Point पॉइंट	2.0	0.00
		Trade Theory		
17	17	Why the tap drill size to be calculated? टैप ड्रिल साइज़ की गणना क्यों की जानी चाहिए? A1 : To avoid drill breaking ड्रिल को टूटने से बचाने के लिए A2 : To avoid material wastage सामग्री के अपव्यय से बचने के लिए A3 : To calculate sufficient cutting speed	2.0	0.00

SAMPLE QUESTION PAPER SET 2

		पर्याप्त कटिंग स्पीड की गणना करना A4 : To maintain sufficient material to tap टैप करने के लिए पर्याप्त सामग्री बनाए रखना		
		Trade Theory		
18	18	How many millimeters are equal to 10 inches? कितने मिलीमीटर 10 इंच के बराबर होते हैं? A1 : 25.4 mm 25.4 mm A2 : 254 mm 254 mm A3 : 245 mm 245 mm A4 : 24.5 mm 24.5 mm	2.0	0.00
		Trade Theory		
19	19	Micrometer works on the principle of _____. माइक्रोमीटर _____ के सिद्धांत पर काम करता है। A1 : Screw स्क्रू A2 : Bolt बोल्ट A3 : Stud स्टड A4 : Nut & bolt नट और बोल्ट	2.0	0.00
		Trade Theory		
20	20	What is the part marked as 'X' in vernier caliper? वर्नियर कैलिपर में 'X' के रूप में चिह्नित भाग क्या है? 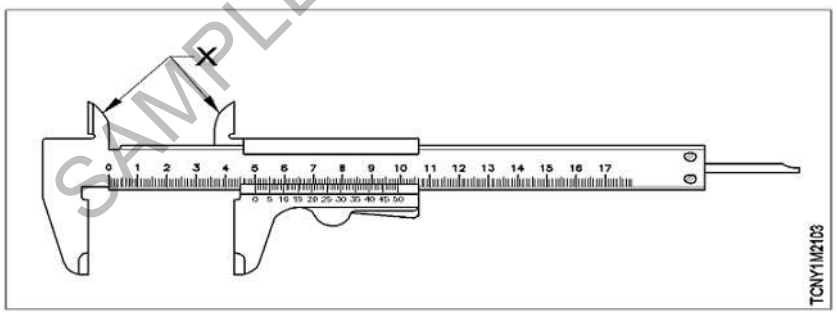 A1 : Internal jaw आंतरिक जबड़ा A2 : Locking screw लॉकिंग स्क्रू A3 : External jaw बाहरी जबड़ा A4 : Main scale	2.0	0.00

SAMPLE QUESTION PAPER SET 2

		मुख्य स्केल		
		Trade Theory		
21	21	A nut is be made for a screw of M10 X 1.5. what should be the size of drilled hole? M10 X 1.5 के स्क्रू के लिए एक नट बनाया जाना है। ड्रिल किए गए छेद का आकार क्या होना चाहिए? A1 : 8.5 mm 8.5 mm A2 : 9.0 mm 9.0 mm A3 : 9.5 mm 9.5 mm A4 : 10.0 mm 10.0 mm	2.0	0.00
		Trade Theory		
22	22	What is the part marked as 'X"? 'X' के रूप में चिह्नित भाग क्या है? 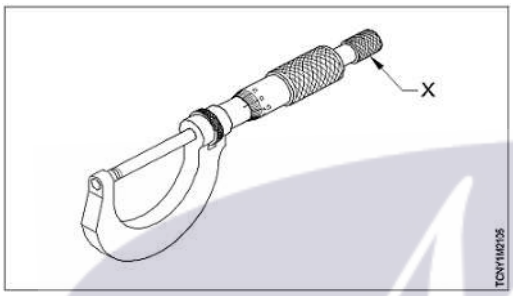 A1 : Frame फ्रेम A2 : Spindle स्पिंडल A3 : Ratchet रैचेट A4 : Spindle lock स्पिंडल लॉक	2.0	0.00
		Trade Theory		
23	23	What is the reading of vernier caliper? वर्नियर कैलिपर की रीडिंग क्या है?	2.0	0.00

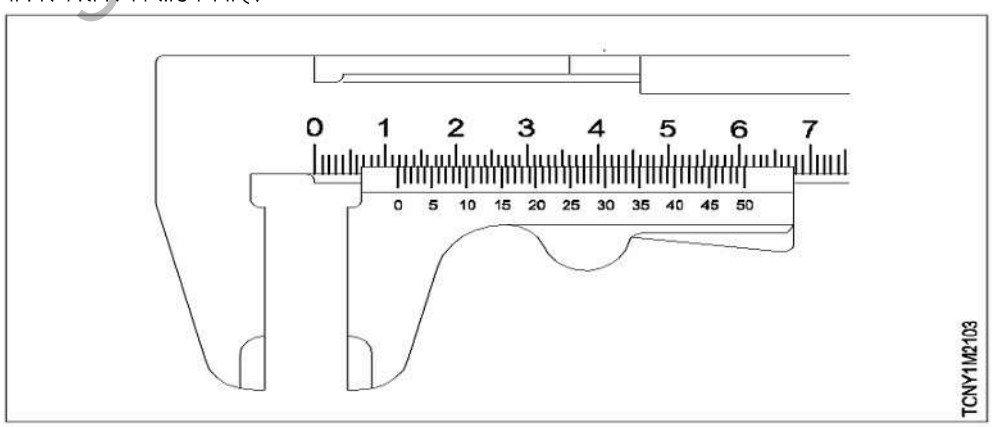

SAMPLE QUESTION PAPER SET 2

		A1 : 9.7 mm 9.7 mm A2 : 11.7 mm 11.7 mm A3 : 12.7 mm 12.7 mm A4 : 10.7 mm 10.7 mm		
Trade Theory				
24	24	Which is an alloy of carbon, iron and silicon? कार्बन, लोहा और सिलिकॉन का मिश्र धातु कौन सा है? A1 : Coke कोक A2 : Flux फ्लक्स A3 : Iron ore कच्चा लोहा A4 : Cast iron ढलवां लोहा	2.0	0.00
Trade Theory				
25	25	Which material is used to manufacture grade 'B' V-blocks? ग्रेड 'बी' वी-ब्लॉक के निर्माण के लिए किस सामग्री का उपयोग किया जाता है? A1 : Tool steel औजारों का स्टील A2 : Carbon steel कार्बन स्टील A3 : High quality steel उच्च गुणवत्ता वाला स्टील A4 : Closed grained steel बंद दानेदार स्टील	2.0	0.00
Trade Theory				
26	26	What is the name of process of reducing Iron ore to pig iron? पिग आयरन से लौह अयस्क को कम करने की प्रक्रिया का क्या नाम है? A1 : Amalgam अमलगम A2 : Smelting स्मेल्टिंग A3 : Blending सम्मिश्रण A4 : Synthesis संश्लेषण	2.0	0.00

SAMPLE QUESTION PAPER SET 2

		Trade Theory		
27	27	What is the melting point of copper? कॉपर का गलनांक कितना होता है? A1 : 880°C 880°C A2 : 930°C 930°C A3 : 1005°C 1005°C A4 : 1083°C 1083°C	2.0	0.00
		Trade Theory		
28	28	Which type of alloy is soft soldering? नरम टांका लगाने वाला मिश्र धातु किस प्रकार का है? A1 : Lead and Tin लीड और टिन A2 : Zinc and Steel जिंक और स्टील A3 : Tin with copper तांबे के साथ टिन A4 : Lead with antimony एंटीमनी के साथ सीसा	2.0	0.00
		Trade Theory		
29	29	What is the definition of 'tolerance' in BIS system? बीआईएस प्रणाली में 'सहिष्णुता' की परिभाषा क्या है? A1 : Difference between basic size & actual size मूल आकार और वास्तविक आकार के बीच अंतर A2 : Algebraic difference between maximum limit & basic size अधिकतम लिमिट और मूल आकार के बीच बीजगणितीय अंतर A3 : Difference between maximum limit & minimum limit अधिकतम लिमिट और न्यूनतम लिमिट के बीच अंतर A4 : Algebraic difference between minimum limit & basic size न्यूनतम लिमिट और मूल आकार के बीच बीजगणितीय अंतर	2.0	0.00
		Trade Theory		
30	30	Which size will represent the zero line in limit terminology? लिमिट शब्दावली में कौन सा आकार शून्य रेखा का प्रतिनिधित्व करेगा? A1 : Basic size मूल आकार A2 : Actual size वास्तविक आकार A3 : Minimum size	2.0	0.00

SAMPLE QUESTION PAPER SET 2

		न्यूनतम आकार A4 : Maximum size अधिकतम आकार		
		Trade Theory		
31	31	Which type of fit is indicated in figure? आकृति में किस प्रकार के फिट को इंगित किया गया है? 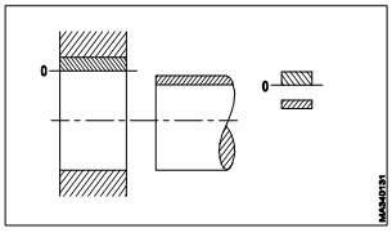 A1 : Tight fit टाइट फिट A2 : Transition fit ट्रांजिशन फिट A3 : Clearance fit क्लीयरेंस फिट A4 : Interference fit इन्टरफेन्स फिट	2.0	0.00
		Trade Theory		
32	32	What is mass production ? बड़े पैमाने पर उत्पादन क्या है? A1 : Producing work in pairs जोड़ियों में काम करना A2 : Producing a work in single piece एकल टुकड़े में एक काम का निर्माण A3 : Producing an work in large numbers बड़ी संख्या में एक काम का उत्पादन A4 : Producing an work in limited numbers सीमित संख्या में काम का उत्पादन करना	2.0	0.00
		Trade Theory		
33	33	Which system of limits and fits are followed in our country? हमारे देश में लिमिट्स और फिट्स की किस प्रणाली का पालन किया जाता है? A1 : BIS system BIS system A2 : DIN system DIN system A3 : BSS system BSS system A4 : FPS system FPS system	2.0	0.00

SAMPLE QUESTION PAPER SET 2

Trade Theory				
34	34	Which term used to indicate external dimension of a component in BIS system of limits & fits? लिमिट और फिट के बीआईएस सिस्टम में एक डेटाकेंड के बाहरी आयाम को इंगित करने के लिए किस शब्द का उपयोग किया जाता है? A1 : Hole होल A2 : Shaft शाफ्ट A3 : Deviation विचलन A4 : Tolerance टॉलरेंस	2.0	0.00
Trade Theory				
35	35	How many grades of tolerances are represented in BIS system? BIS प्रणाली में सहिष्णुता के कितने ग्रेड का प्रतिनिधित्व किया जाता है? A1 : 12 12 A2 : 15 15 A3 : 18 18 A4 : 25 25	2.0	0.00
Trade Theory				
36	36	What is an advantage of mass production? बड़े पैमाने पर उत्पादन का एक फायदा क्या है? A1 : Production rate is increased उत्पादन दर बढ़ जाती है A2 : Measuring time is increased मापने का समय बढ़ाया जाता है A3 : Jigs and fixtures are needed जिग्स और फिक्सचर की जरूरत है A4 : Special purpose machines are needed विशेष प्रयोजन मशीनों की जरूरत है	2.0	0.00
Trade Theory				
37	37	What is the cause of coating(galvanise) on iron and steel by zinc? आयरन और स्टील पर जिंक की कोटिंग (गैल्वनाइज) का क्या कारण है? A1 : Corrosion resistance कोरोजन रेज़िस्टेंस A2 : Soft सॉफ्ट A3 : Colour	2.0	0.00

SAMPLE QUESTION PAPER SET 2

		कलर A4 : Strength सामर्थ्य		
		Trade Theory		
38	38	Which non ferrous metal is extracted from bauxite? बॉक्साइट से कौन सी अलौह धातु निकाली जाती है? A1 : Brass ब्रॉस A2 : Copper कॉपर A3 : Bronze ब्रॉन्ज़ A4 : Aluminium एल्युमीनियम	2.0	0.00
		Workshop Calculation Science		
39	39	Which metal contains iron as a major content? इनमे से किस धातु में प्रमुख सामग्री के रूप में लोहा होता है? A1 : Brass metal पीतल धातु A2 : Bronze metal ब्रोंज धातु A3 : Zinc ज़िंक A4 : Ferrous metal लोह धातु	2.0	0.00
		Workshop Calculation Science		
40	40	What is termed as the quantity of matter contained in a body? वस्तु में निहित पदार्थ की मात्रा को क्या कहा जाता है? A1 : Density घनत्व A2 : Volume आयतन A3 : Mass द्रव्यमान A4 : Specific gravity विशिष्ट गुरुत्व	2.0	0.00
		Workshop Calculation Science		
41	41	What is called mass per unit volume of a substances? किसी पदार्थ के द्रव्यमान प्रति इकाई आयतन को क्या कहते हैं? A1 : Mass द्रव्यमान	2.0	0.00

SAMPLE QUESTION PAPER SET 2

		A2 : Weight भार A3 : Density घनत्व A4 : Volume आयतन		
		Workshop Calculation Science		
42	42	What is the unit of speed? गति की इकाई क्या है? A1 : Metre/second Metre/second A2 : Metre/second^2 Metre/second^2 A3 : Metre/minute Metre/minute A4 : Metre/hour Metre/hour	2.0	0.00
		Workshop Calculation Science		
43	43	What is the work done in unit time? एक इकाई समय में किया गया कार्य क्या होता है? A1 : Energy ऊर्जा A2 : Power शक्ति A3 : Force बल A4 : Acceleration त्वरण	2.0	0.00
		Workshop Calculation Science		
44	44	What is the ratio of power output to power input? शक्ति आउटपुट और शक्ति इनपुट का अनुपात क्या होता है? A1 : Work कार्य A2 : Energy ऊर्जा A3 : Efficiency दक्षता A4 : Acceleration त्वरण	2.0	0.00
		Engineering Drawing		
45	45	Identify the conventional symbol of material? सामग्री के पारंपरिक प्रतीक को पहचानें?	2.0	0.00

SAMPLE QUESTION PAPER SET 2

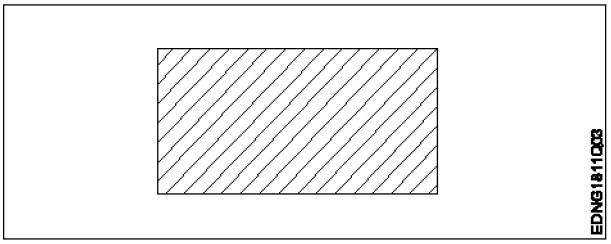

A1 : Lead

लेड

A2 : Steel

इस्पात

A3 : Glass

कांच

A4 : Porcelain

चीनी मिटटी

		Engineering Drawing		
46	46	Identify the conventional symbol of material? सामग्री के पारंपरिक प्रतीक को पहचानें?	2.0	0.00

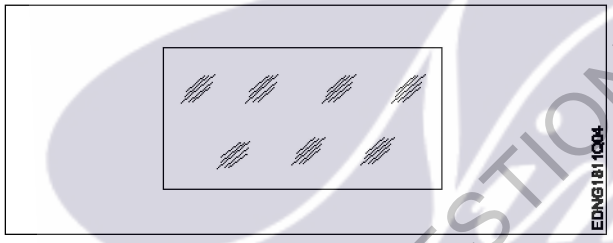

A1 : Concrete

संगीत कार्यक्रम

A2 : Steel

इस्पात

A3 : Wood

लकड़ी

A4 : Glass

कांच

		Engineering Drawing		
47	47	Identify the conventional symbol of material? सामग्री के पारंपरिक प्रतीक को पहचानें?	2.0	0.00

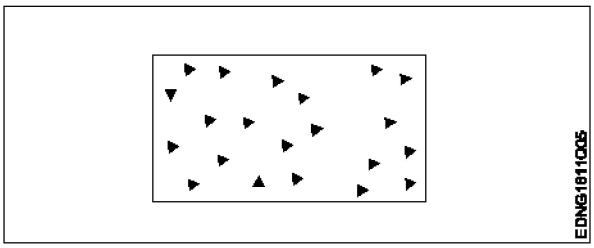

SAMPLE QUESTION PAPER SET 2

		A1 : Steel इस्पात A2 : Wood लकड़ी A3 : Glass कांच A4 : Concrete ठोस		
		Engineering Drawing		
48	48	What is the trimmed size of A4 sheet? A4 शीट का ट्रिम किया हुआ आकार क्या है? A1 : 841 x 1189 841 x 1189 A2 : 594 x 841 594 x 841 A3 : 210 x 297 210 x 297 A4 : 148 x 210 148 x 210	2.0	0.00
		Engineering Drawing		
49	49	Which drawing dimension is correct as per IS standard? IS मानक के अनुसार कौन सा ड्राइंग आयाम सही है? A1 : 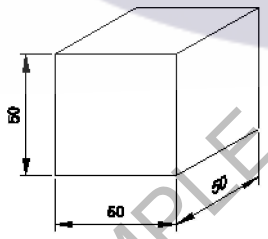 A2 : 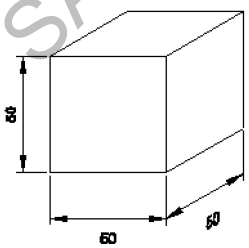 A3 :	2.0	0.00

SAMPLE QUESTION PAPER SET 2

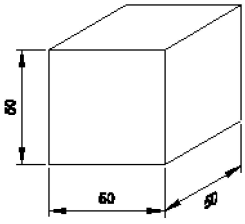

A4
:

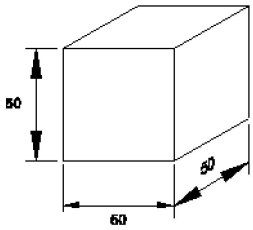

		Engineering Drawing		
50	50	Identify the name of prism? चित्र में दिखाए गए प्रिज्म का नाम क्या है? 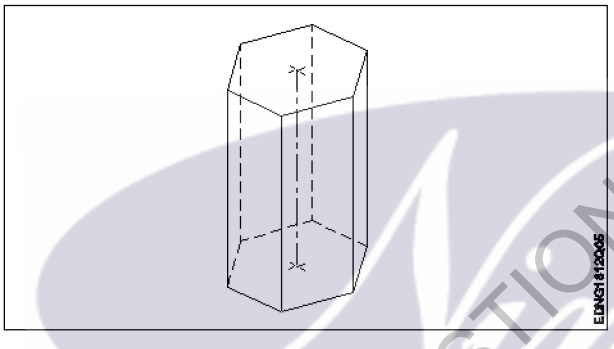 A1 : Square prism स्कायर प्रिज्म A2 : Pentagonal prism पंचकोणीय प्रिज्म A3 : Triangular prism त्रिकोणीय प्रिज्म A4 : Hexagonal prism हेक्सागोनल प्रिज्म	2.0	0.00
		Employability Skills		
51	51	Fill in the blank with correct word. “They _____ good friends” रिक्त में सही शब्द भरें। “They_____good friends” A1 : is is A2 : am am A3 : are are A4 : was	2.0	0.00

SAMPLE QUESTION PAPER SET 2

		was		
		Employability Skills		
52	52	Fill in the blank with present progressive tense of the verb. “The train _____ through the tunnel” क्रिया के वर्तमान प्रगतिशील काल के साथ रिक्त स्थान भरें। “The train _____ through the tunnel” A1: passed passed A2: is passing is passing A3: had passed had passed A4: was passing was passing	2.0	0.00
		Employability Skills		
53	53	Fill in the blank with proper interrogative adjective. _____ are you going? उचित ईंटोरोगेटिव विशेषण के साथ रिक्त स्थान भरें। _____ are you going? A1: Who Who A2: Where Where A3: Which Which A4: What What	2.0	0.00
		Employability Skills		
54	54	Fill in the blank with proper pronoun. “I made this cake _____” रिक्त स्थान में उचित सर्वनाम के साथ भरें। “I made this cake _____” A1: myself myself A2: yourself yourself A3: himself himself A4: itself itself	2.0	0.00
		Employability Skills		
55	55	Fill in the blank with proper pronoun. “She made this cake _____” रिक्त स्थान में उचित सर्वनाम के साथ भरें। “She made this cake _____” A1: itself itself A2: myself myself A3: herself	2.0	0.00

SAMPLE QUESTION PAPER SET 2

		herself A4 : himself himself		
		Employability Skills		
56	56	Fill in the blank with proper reflexive pronoun. “She has hurt_____” रिक्त स्थान में उचित प्रतिवर्ती सर्वनाम के साथ भरें। “She has hurt_____” A1 : myself myself A2 : herself herself A3 : himself himself A4 : itself itself	2.0	0.00
		Employability Skills		
57	57	Fill in the blank with suitable adjective for the given sentence “The little girl’s…… eyes revealed her mischief” दिए गए वाक्य के लिए उपयुक्त विशेषण के साथ रिक्त स्थान भरें “The little girl’s…… eyes revealed her mischief” A1 : chubby chubby A2 : weak weak A3 : short sighted short sighted A4 : twinkling twinkling	2.0	0.00
		Employability Skills		
58	58	Fill in the blank with suitable place preposition. “My house is _____ the third floor” उपयुक्त स्थान पूर्वसर्ग के साथ रिक्त स्थान भरें। “My house is _____the third floor” A1 : at at A2 : in in A3 : on on A4 : under under	2.0	0.00
		Employability Skills		
59	59	Fill in the correct question word. “_____ is the speaker at the function?” सही प्रश्न शब्द भरें। “_____is the speaker at the function?” A1 : What What A2 : When	2.0	0.00

SAMPLE QUESTION PAPER SET 2

		When A3 : Why Why A4 : Who Who		
		Employability Skills		
60	60	Low level language is also called _____. निम्न स्तर की भाषा को _____ भी कहा जाता है A1 : source code सोर्स कोड A2 : middle ware मध्यस्थ A3 : machine language मशीन भाषा A4 : assembly language असेंबली भाषा	2.0	0.00
		Employability Skills		
61	61	Pronunciation refers to_____. उच्चारण _____ को संदर्भित करता है A1 : diphthong संयुक्त स्वर A2 : consonant व्यंजन A3 : punctuation विराम चिह्न A4 : production of sound ध्वनि का उत्पादन	2.0	0.00
		Employability Skills		
62	62	Re-arrange the following set of words into meaningful sentence. “teacher / school / worked / she / a / as”. शब्दों के निम्नलिखित सेट को सार्थक वाक्य में फिर से व्यवस्थित करें। “teacher / school / worked / she / a / as” A1 : School worked as a she teacher School worked as a she teacher A2 : She worked as a school teacher She worked as a school teacher A3 : She teacher worked as a school She teacher worked as a school A4 : Worked she as a school teacher Worked she as a school teacher	2.0	0.00
		Employability Skills		
63	63	Rise and fall of pitch of voice is called _____. आवाज की पिच का उठना और गिरना _____ कहलाता है A1 : vowel	2.0	0.00

SAMPLE QUESTION PAPER SET 2

		स्वर A2 : intonation आवाज़ का उतार-चढ़ाव A3 : consonant व्यंजन A4 : pronunciation उच्चारण		
Employability Skills				
64	64	The word that expresses a sudden and strong feeling is called _____. वह शब्द जो अचानक और मजबूत भावना व्यक्त करता है उसे _____ कहा जाता है A1 : punctuation विराम चिह्न A2 : interjection विस्मयादिबोधक A3 : conjunction संयोजन के रूप A4 : apostrophe एपोसट्राफी	2.0	0.00
Employability Skills				
65	65	When you greet higher official's such as Teacher, Instructor or Supervisor, you should use _____. जब आप शिक्षक, प्रशिक्षक या पर्यवेक्षक जैसे उच्च अधिकारियों का अभिवादन करते हैं, तो आपको _____ का उपयोग करना चाहिए A1 : Good morning Good morning A2 : Hello Hello A3 : Hey Hey A4 : Hi Hi	2.0	0.00
Employability Skills				
66	66	Which is a silent letter in the word "ANSWER"? "ANSWER" शब्द में कौन सा मूक अक्षर है? A1 : R R A2 : E E A3 : S S A4 : W W	2.0	0.00
Employability Skills				
67	67	Which one is a "Do's" of discussion etiquettes?	2.0	0.00

SAMPLE QUESTION PAPER SET 2

		चर्चा के शिष्टाचारों में से कौन सा “Do’s” है? A1 : Loose your temper अपना आपा खोएं A2 : Listen to others दूसरों की सुनें A3 : Talk about irrelevant details अप्रासंगिक विवरण के बारे में बात करें A4 : Use impolite or rude language अभद्र या अशिष्ट भाषा का उपयोग करें		
		Employability Skills		
68	68	Which one is a “Don’t” of discussion etiquette? चर्चा शिष्टाचार का “Don’t” है? A1 : Be open minded दिमाग खुला रखना A2 : Use moderate tone मध्यम स्वर का प्रयोग करें A3 : Listen to others दूसरों की सुनें A4 : Argue unnecessary अनावश्यक बहस करें	2.0	0.00
		Employability Skills		
69	69	Which one is a brain of computer? कंप्यूटर का मस्तिष्क कौन सा है? A1 : Keyboard कीबोर्ड A2 : CPU सी पी यू A3 : Monitor मॉनिटर A4 : Hard disk हार्ड डिस्क	2.0	0.00
		Employability Skills		
70	70	Which one is an exclamatory sentence? कौन सा विस्मयादिबोधक वाक्य है? A1 : What a beautiful house it is! What a beautiful house it is! A2 : It is a beautiful house. It is a beautiful house. A3 : Is it a beautiful house? Is it a beautiful house?	2.0	0.00

SAMPLE QUESTION PAPER SET 2

		A4 : Your house is beautiful. Your house is beautiful.		
		Employability Skills		
71	71	Which one is in active voice? सक्रिय आवाज में कौन सा है? A1 : Ram has passed the exam. Ram has passed the exam. A2 : The ball was caught by him. The ball was caught by him. A3 : The book was being read by her. The book was being read by her. A4 : We were driven home by dad. We were driven home by dad.	2.0	0.00
		Employability Skills		
72	72	Which one is in passive voice? निष्क्रिय आवाज में कौन सा है? A1 : Mohan is painting a house. Mohan is painting a house. A2 : She was reading a book. She was reading a book. A3 : Her birthday was celebrated by us. Her birthday was celebrated by us. A4 : I have seen that movie. I have seen that movie.	2.0	0.00
		Employability Skills		
73	73	Which one is NOT a conjunction? कौन सा एक संयोजन नहीं है? A1 : And And A2 : Or Or A3 : But But A4 : On On	2.0	0.00
		Employability Skills		
74	74	Which one is NOT a benefit of the role playing? भूमिका निभाने का कौन सा लाभ नहीं है? A1 : Builds confidence आत्मविश्वास पैदा करता है A2 : Develops listening skill सुनने का कौशल विकसित करता है	2.0	0.00

SAMPLE QUESTION PAPER SET 2

		A3 : Develops creative problem-solving skill रचनात्मक समस्या-समाधान कौशल विकसित करता है A4 : Develops boredom बोरियत पैदा करता है		
Employability Skills				
75	75	Which one is NOT a vowel? कौन सा स्वर नहीं है? A1 : a a A2 : e e A3 : f f A4 : i i	2.0	0.00

SAMPLE QUESTION PAPER SET 2

Technician Mechatronics - 1st Year - Set 2

S.No.	Correct Answer Key
1	A3
2	A2
3	A1
4	A1
5	A2
6	A1
7	A1
8	A4
9	A3
10	A2
11	A3
12	A1
13	A1
14	A2
15	A2
16	A3
17	A4
18	A2
19	A4
20	A1
21	A1
22	A3
23	A2
24	A4
25	A4
26	A2
27	A1
28	A1
29	A3
30	A1
31	A3
32	A3
33	A1
34	A2
35	A3
36	A1
37	A1
38	A4

S.No.	Correct Answer Key
39	A4
40	A3
41	A3
42	A1
43	A2
44	A3
45	A2
46	A4
47	A4
48	A3
49	A1
50	A4
51	A3
52	A2
53	A2
54	A1
55	A3
56	A2
57	A4
58	A3
59	A4
60	A3
61	A4
62	A2
63	A2
64	A2
65	A1
66	A4
67	A2
68	A4
69	A2
70	A1
71	A1
72	A3
73	A4
74	A4
75	A3

KEY ANSWER SET 2

Note:
"In case answers found to be inaccurate due to typographical error or any other reason please sent mail to **qbnimigrievance@gmail.com**"