Max Marks : 150

ALL INDIA TRADE TEST - 2024 FOR CRAFSTMEN TRAINING SCHEME (CTS)
Trade Name: Solar Technician (Electrical)
Year: 1st Year

Exam Date :
Exam Time :

Note:
1. Tick the correct option out of four alternatives provided
2. All questions carry equal marks (2 Marks each)
3. There is no negative marking

SAMPLE QUESTION PAPER SET 1

Sr. No.	Q ID	Question Body and Alternatives	Marks	Negative Marks
		Trade Theory		
1	1	How many types of professional classification of solar technician-electrical based on national code of occupation? राष्ट्रीय व्यवसाय संहिता के आधार पर सोलर टेकनीशियन-इलेक्ट्रिकल का व्यावसायिक वर्गीकरण कितने प्रकार का होता है? A1 : Two दो A2 : Three तीन A3 : Four चार A4 : Five पाँच	2.0	0.00
		Trade Theory		
2	2	Which is the key skill of solar technician? सोलर टेकनीशियन का मुख्य कौशल कौन सा है? A1 : Heat energy calculation ऊष्मा ऊर्जा गणना A2 : Electric energy calculation विद्युत ऊर्जा गणना A3 : Mechanical energy calculation यांत्रिक ऊर्जा गणना A4 : Pneumatic energy calculation वायवीय ऊर्जा गणना	2.0	0.00
		Trade Theory		
3	3	What is the name of safety sign shown in figure? चित्र में दिखाए गए सुरक्षा चिह्न का नाम क्या है?  A1 : Prohibition signs निषेध संकेत A2 : Mandatory signs अनिवार्य संकेत	2.0	0.00

		A3 : Warning signs चेतावनी संकेत A4 : Information signs सूचना संकेत		
		Trade Theory		
4	4	Which type of safety sign indicate smoking and naked flames prohibited? किस प्रकार के सुरक्षा चिह्न धूम्रपान और खुली लपटों के निषेध को दर्शाते हैं? A1 : Prohibition signs निषेध संकेत A2 : Mandatory signs अनिवार्य संकेत A3 : Warning signs चेतावनी संकेत A4 : Information signs सूचना संकेत	2.0	0.00
		Trade Theory		
5	5	Which is the warning signs? चेतावनी चिह्न कौन से हैं? A1 : Risk of fire आग का खतरा A2 : Wear respirator श्वासयंत्र पहनें A3 : Wear hard gloves कठोर दस्ताने पहनें A4 : First aid point प्राथमिक चिकित्सा बिंदु	2.0	0.00
		Trade Theory		
6	6	How can be avoid hazard in a work electrical work place? विद्युत कार्यस्थल में खतरे से कैसे बचा जा सकता है? A1 : By using phone फोन का उपयोग करके A2 : By using personal protective equipment व्यक्तिगत सुरक्षा उपकरण का उपयोग करके A3 : By using torque wrench टॉर्क रिंच का उपयोग करके A4 : By using measuring instruments मापन उपकरणों का उपयोग करके	2.0	0.00
		Trade Theory		
7	7	What is called the measuring or calculating the hazard by instruments? उपकरणों द्वारा खतरे को मापने या गणना करने को क्या कहते हैं? A1 : Acceptance स्वीकृति A2 : Evaluation मूल्यांकन	2.0	0.00

SAMPLE QUESTION PAPER SET 1

		A3 : Anticipation पूर्वानुमान A4 : Identification पहचान		
		Trade Theory		
8	8	What is called for isolate the fire from the supply of oxygen by blanketing? आग को ऑक्सीजन की आपूर्ति से अलग करने के लिए कंबल का उपयोग करना क्या कहलाता है? A1 : Starving भूख से मरना A2 : Smothering दबाना A3 : Cooling शीतलन A4 : Converting परिवर्तित करना	2.0	0.00
		Trade Theory		
9	9	Which is provide absolute and full protection against hazard? खतरे के विरुद्ध पूर्ण सुरक्षा कौन सी है? A1 : BIS BIS A2 : ISO ISO A3 : PPE PPE A4 : BSI BSI	2.0	0.00
		Trade Theory		
10	10	Which type of marked product given free replacement to consumers, in case of found to be substandard quality of their product? किस प्रकार के चिह्नित उत्पाद उपभोक्ताओं को उनके उत्पाद की घटिया गुणवत्ता पाए जाने पर मुफ्त प्रतिस्थापन प्रदान करते हैं? A1 : CIS CIS A2 : IOB IOB A3 : ISI ISI A4 : SBI SBI	2.0	0.00
		Trade Theory		
11	11	Which section of national electrical code-2011 part-1 of the code describes about the scope of the NEC? कोड के राष्ट्रीय विद्युत संहिता-2011 भाग-1 की कौन सी धारा NEC के दायरे के बारे में बताती है? A1 : Section-1 धारा-1 A2 : Section-2 धारा-2 A3 : Section-3	2.0	0.00

SAMPLE QUESTION PAPER SET 1

		धारा-3 A4 : Section-4 धारा-4		
		Trade Theory		
12	12	Which section of national electrical code-2011 part-1 of the code covers general criteria for selection of equipment? कोड के राष्ट्रीय विद्युत संहिता-2011 भाग-1 की कौन सी धारा उपकरणों के चयन के लिए सामान्य मानदंडों को शामिल करती है? A1 : Section-10 धारा-10 A2 : Section-12 धारा-12 A3 : Section-15 धारा-15 A4 : Section-19 धारा-19	2.0	0.00
		Trade Theory		
13	13	Which is the alphanumeric notation and colour code used for phase-3 supply ac system? फेज-3 आपूर्ति ac प्रणाली के लिए उपयोग किए जाने वाले अल्फ़ान्यूमेरिक संकेतन और रंग कोड कौन से हैं? A1 : L1, Red L1, Red A2 : L2, Yellow L2, Yellow A3 : M, Black M, Black A4 : L3, Blue L3, Blue	2.0	0.00
		Trade Theory		
14	14	Which is the electrical symbols indicate a winding-star? कौन से विद्युत प्रतीक वाइंडिंग-स्टार को दर्शाते हैं? A1 : ~ ~ A2 : Y Y A3 : X X A4 : Δ Δ	2.0	0.00
		Trade Theory		
15	15	Which type of plier used for holding small objects in places where fingers cannot reach? उन जगहों पर छोटी वस्तुओं को पकड़ने के लिए किस प्रकार के प्लायर का उपयोग किया जाता है जहाँ उंगलियाँ नहीं पहुँच सकतीं? A1 : Combination plier संयोजन प्लायर A2 : Flat nose plier फ्लैट नोज़ प्लायर A3 : Long nose plier लंबी नाक वाला प्लायर	2.0	0.00

SAMPLE QUESTION PAPER SET 1

		A4 : Round nose plier गोल नाक प्लायर		
		Trade Theory		
16	16	Which is the tool used for cutting, twisting, holding and gripping small jobs in wiring works? वायरिंग कार्यों में छोटे-छोटे जॉब्स को काटने, मोड़ने, पकड़ने और जकड़ने के लिए किस उपकरण का उपयोग किया जाता है? A1 : Round nose plier गोल नाक प्लायर A2 : Side cutting plier साइड कटिंग प्लायर A3 : Combination plier संयोजन प्लायर A4 : Long nose plier लंबी नाक प्लायर	2.0	0.00
		Trade Theory		
17	17	Which type of hammer made out of hard wood or nylon? कठोर लकड़ी या नायलॉन से बना किस प्रकार का हैमर है? A1 : Ball peen hammer बॉल पीन हैमर A2 : Cross-peen hammer क्रॉस-पीन हैमर A3 : Straight peen hammer सीधा पीन हैमर A4 : Mallet hammer मैलेट हैमर	2.0	0.00
		Trade Theory		
18	18	What is the name of part marked as 'X'? X' से चिह्नित भाग का नाम क्या है? 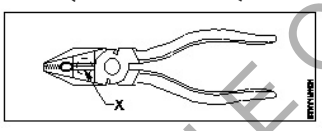 A1 : Joint cutter जॉइन्ट कटर A2 : Side cutter साइड कटर A3 : Pipe cutter पाइप कटर A4 : Gripping surface ग्रीपिंग सरफेस	2.0	0.00
		Trade Theory		
19	19	What is the name of plier shown in a figure? चित्र में दिखाए गए प्लायर का नाम क्या है? 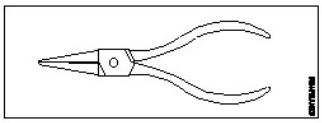	2.0	0.00

SAMPLE QUESTION PAPER SET 1

		A1 : Flat nose plier फ्लैट नोज़ प्लायर A2 : Long nose plier लॉन्ग नोज़ प्लायर A3 : Round nose plier राउंड नोज़ प्लायर A4 : Cutting plier कटिंग प्लायर		
		Trade Theory		
20	20	Which is the tool for skinning the insulation of cables and cleaning the wire surface? केबल के इन्सुलेशन को हटाने और तार की सतह को साफ करने के लिए कौन सा उपकरण है?	2.0	0.00
		A1 : Electrician's plier इलेक्ट्रीशियन प्लायर A2 : Electrician's knife इलेक्ट्रीशियन का नाइफ A3 : Electrician's screwdriver इलेक्ट्रीशियन का स्क्रूड्राइवर A4 : Electrician's neon tester इलेक्ट्रीशियन का नियॉन टेस्टर		
		Trade Theory		
21	21	How many types of try square used in engineering field? इंजीनियरिंग क्षेत्र में कितने प्रकार के ट्राई स्क्वायर का उपयोग किया जाता है?	2.0	0.00
		A1 : Two types दो प्रकार A2 : Three types तीन प्रकार A3 : Four types चार प्रकार A4 : Five types पांच प्रकार		
		Trade Theory		
22	22	Which is the tool used for marking and punching pilot holes on metals? धातुओं पर पायलट होल्स को चिह्नित करने और छिद्रित करने के लिए किस उपकरण का उपयोग किया जाता है?	2.0	0.00
		A1 : Nail कील A2 : Wood screw वुड स्क्रू A3 : Centre punch सेंटर पंच A4 : Chisel चीजल		
		Trade Theory		
23	23	What is the cause for hard rotation of portable electric drilling machine? पोर्टेबल इलेक्ट्रिक ड्रिलिंग मशीन के कठोर घुमाव का क्या कारण है?	2.0	0.00

SAMPLE QUESTION PAPER SET 1

		A1 : Lubricated all moving parts सभी चलने वाले भागों को लुब्रिकेट दें A2 : Poor lubrication on moving parts चलने वाले हिस्सों पर खराब लुब्रिकेशन A3 : Drill bit fixed in the jaws जॉब्स में फिक्स ड्रिल बिट A4 : Low pressure on drill bits ड्रिल बिट्स पर कम दबाव		
Trade Theory				
24	24	Which is the file used for good finishing purposes? अच्छी फिनिशिंग के लिए किस फाइल का उपयोग किया जाता है? A1 : Rough file रफ फाइल A2 : Bastard file बास्टर्ड फ़ाइल A3 : Second cut file सेकंड कट फ़ाइल A4 : Dead smooth file डेड स्मूथ फ़ाइल	2.0	0.00
Trade Theory				
25	25	Which type of cutting tool has provided with multiple cutting edges? किस प्रकार के कटिंग टूल में कई कटिंग एज दिए गए हैं? A1 : Chisel चीजल A2 : Snip स्निप A3 : File फ़ाइल A4 : Drill bit ड्रिल बिट	2.0	0.00
Trade Theory				
26	26	Why bench vice is used in engineering work shop? इंजीनियरिंग वर्कशॉप में बेंच वाइस का उपयोग क्यों किया जाता है? A1 : Marking the workpieces वर्कपीस को चिह्नित करना A2 : Holding the workpieces वर्कपीस को पकड़ना A3 : Threading the workpieces वर्कपीस को थ्रेड करना A4 : Sizing the workpieces वर्कपीस का आकार निर्धारण	2.0	0.00
Trade Theory				
27	27	What is to be ensure before using hammer? हैमर का उपयोग करने से पहले क्या सुनिश्चित किया जाना चाहिए?	2.0	0.00

SAMPLE QUESTION PAPER SET 1

		A1 : Hammer face with oil हैमर के फेस पर ऑयल लगाना A2 : Handle is property fitted हैंडल ठीक से फिट है A3 : Under weigh of hammer for the work काम के लिए हैमर का कम वजन A4 : Hammer handle with grease ग्रीस के साथ हैमर हैंडल		
		Trade Theory		
28	28	Which is used to making a round holes on metals? धातुओं पर राउंड होल्स बनाने के लिए किसका उपयोग किया जाता है? A1 : Chisel चीजल A2 : Punch पंच A3 : Drill bits ड्रिल बिट्स A4 : Nose plier नोज प्लायर	2.0	0.00
		Trade Theory		
29	29	What is the name of part marked as 'X'? 'X' से चिह्नित भाग का नाम क्या है? 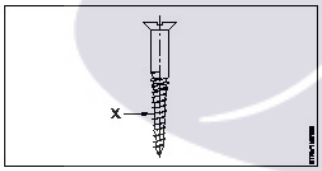 A1 : Head हेड A2 : Pitch पिच A3 : Shank शैंक A4 : Thread थ्रेड	2.0	0.00
		Trade Theory		
30	30	Which is used to recognize a components in a electrical circuit and electrical diagrams? विद्युत परिपथ और विद्युत आरेखों में घटकों को पहचानने के लिए किसका उपयोग किया जाता है? A1 : Photo फोटो A2 : Symbols सिंबल A3 : Antenna एंटीना A4 : Polarity indicator	2.0	0.00

SAMPLE QUESTION PAPER SET 1

		ध्रुवीयता सूचक		
		Trade Theory		
31	31	What is the name of symbols shown in figure? आकृति में दिखाए गए प्रतीकों का नाम क्या है? 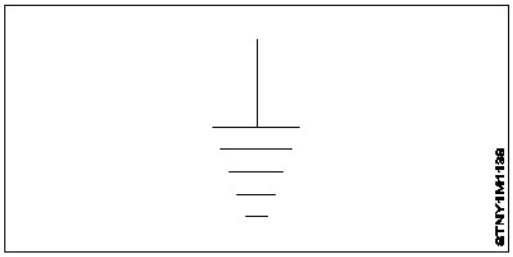 A1 : Earth ground अर्थ ग्राउंड A2 : Chassis ground चेसिस ग्राउंड A3 : Digital ground डिजिटल ग्राउंड A4 : Common ground कॉमन ग्राउंड	2.0	0.00
		Trade Theory		
32	32	What is the name of coil symbols shown in figure? आकृति में दिखाए गए कुंडल प्रतीकों का नाम क्या है?  A1 : Inductor इंडक्टर A2 : Iron core inductor आयरन कोर इंडक्टर A3 : Variable inductor वेरिएबल इंडक्टर A4 : Copper core inductor कॉपर कोर इंडक्टर	2.0	0.00
		Trade Theory		
33	33	Which type of resistor change resistance when temperature changes in a circuit function? सर्किट फ़ंक्शन में तापमान में परिवर्तन होने पर किस प्रकार का प्रतिरोधक प्रतिरोध बदलता है? A1 : Thermistor थर्मिस्टर A2 : Photo resistor फोटो रेसिस्टर A3 : Variable resistor वेरिएबल इंडक्टर A4 : Trimmer resistor ट्रिमर रेसिस्टर	2.0	0.00
		Trade Theory		
34	34	What is the use of nails and wood screws? नेल्स और वुड स्क्रू का क्या उपयोग है?	2.0	0.00

SAMPLE QUESTION PAPER SET 1

		A1 : Fastening wood work फास्टनिंग वुड वर्क A2 : Fastening meter works फास्टनिंग मीटर वर्क A3 : Fastening aluminium works फास्टनिंग एल्यूमीनियम वर्क A4 : Fastening brass works फास्टनिंग ब्रास वर्क		
		Trade Theory		
35	35	Which is the nearest shell layer of nucleus? नुक्लेयर्स की सबसे नजदीकी कोश परत कौन सी है?	2.0	0.00
		A1 : K shell K शेल A2 : L shell L शेल A3 : M shell M शेल A4 : N shell N शेल		
		Trade Theory		
36	36	How many electrons would have in four shell of copper atom? तांबे के परमाणु के चार सेल में कितने इलेक्ट्रॉन होंगे?	2.0	0.00
		A1 : 10 10 A2 : 13 13 A3 : 26 26 A4 : 29 29		
		Trade Theory		
37	37	Which is the instrument used for measure the current in a circuit? सर्किट में करंट मापने के लिए किस उपकरण का उपयोग किया जाता है?	2.0	0.00
		A1 : Ammeter एमीटर A2 : Odometer ओडोमीटर A3 : RPM meter RPM मीटर A4 : Speedo meter स्पीडो मीटर		
		Trade Theory		
38	38	What is called the simplest parts of a molecule? अणु के सबसे सरल भाग को क्या कहते हैं?	2.0	0.00

SAMPLE QUESTION PAPER SET 1

		A1 : Nucleus न्यूक्लियस A2 : Protons प्रोटॉन A3 : Atom परमाणु A4 : Conductor कंडक्टर		
		Workshop Calculation Science		
39	39	What are the two classifications of system of units? इकाइयों की प्रणाली के दो प्रकार कोनसे हैं?	2.0	0.00
		A1 : British and Metric ब्रिटिश और मीट्रिक A2 : Gravitational and non-gravitational गुरुत्वाकर्षण और गैर-गुरुत्वाकर्षण A3 : Fundamental and derived मौलिक और व्युत्पन्न A4 : Metric and International मैट्रिक और इंटरनेशनल		
		Workshop Calculation Science		
40	40	What are fundamental units? इनमे से मूलभूत इकाइयाँ कोन-कोनसी हैं?	2.0	0.00
		A1 : Length, Mass, Volume लंबाई, द्रव्यमान, आयतन A2 : Length, Mass, Time लंबाई, द्रव्यमान, समय A3 : Length, Mass, Area लंबाई, द्रव्यमान, क्षेत्रफल A4 : Length, Pressure, Volume लंबाई, दाब, आयतन		
		Workshop Calculation Science		
41	41	What denotes letter 'M' in MKS system? MKS प्रणाली में 'M' अक्षर क्या दर्शाता है?	2.0	0.00
		A1 : Mile Mile A2 : Meter Meter A3 : Millimeter Millimeter A4 : Micron Micron		
		Workshop Calculation Science		
42	42	How many millimetres are there in 1 inch? 1 इंच में कितने मिलीमीटर होते हैं?	2.0	0.00

SAMPLE QUESTION PAPER SET 1

		A1 : 2.54 mm 2.54 mm A2 : 25.4 mm 25.4 mm A3 : 24.5 mm 24.5 mm A4 : 2.45 mm 2.45 mm		
		Workshop Calculation Science		
43	43	What is the square root of 529? 529 का वर्गमूल क्या है? A1 : 13 13 A2 : 23 23 A3 : 33 33 A4 : 43 43	2.0	0.00
		Workshop Calculation Science		
44	44	Convert 0.456 decimal fraction into percentage? 0.456 दशमलव भिन्न को प्रतिशत में बदलिये? A1 : 45.6% 45.6% A2 : 4.56% 4.56% A3 : 0.456% 0.456% A4 : 0.0456% 0.0456%	2.0	0.00
		Engineering Drawing		
45	45	Identify the conventional symbol of material? चित्र में दिखाए गए सामग्री के पारंपरिक प्रतीक का पता लगाएं? 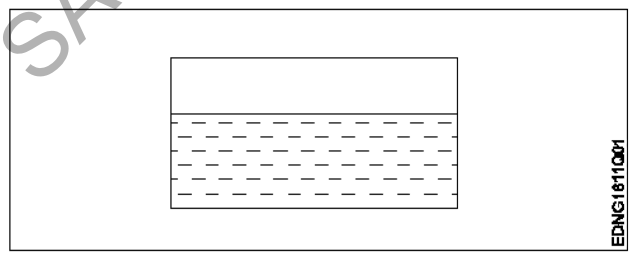 A1 : Water पानी A2 : Concrete ठोस A3 : Asbestos ऐस्बेटस	2.0	0.00

SAMPLE QUESTION PAPER SET 1

		A4 : Glass कांच		
		Engineering Drawing		
46	46	Identify the conventional symbol of material? चित्र में दिखाए गए सामग्री के पारंपरिक प्रतीक का पता लगाएं? 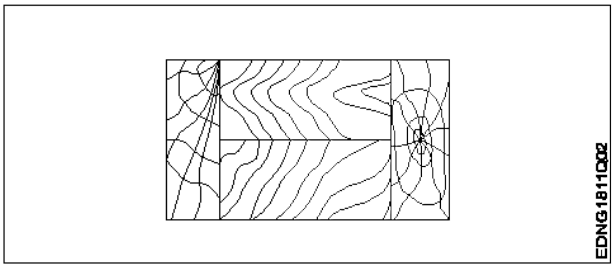 A1 : Lead लेड A2 : Glass कांच A3 : Wood लकड़ी A4 : Paper कागज़	2.0	0.00
		Engineering Drawing		
47	47	Identify the name of instrument? चित्र में दिखाए गए उपकरणों के नाम की पहचान करें? 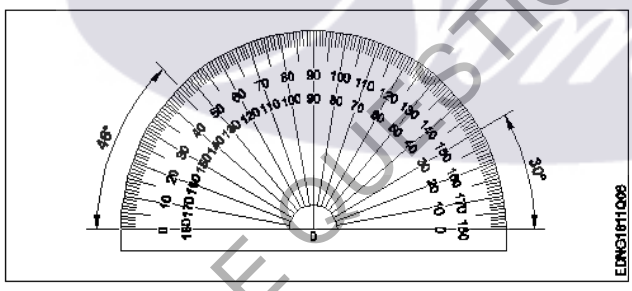 A1 : Set square गुनिया A2 : Protractor चांदा A3 : French curve फ़्रांसीसी वक्र A4 : ' T ' square टी स्क्वायर	2.0	0.00
		Engineering Drawing		
48	48	Identify the name of set square? सेट स्क्वायर का नाम खोजें?	2.0	0.00

SAMPLE QUESTION PAPER SET 1

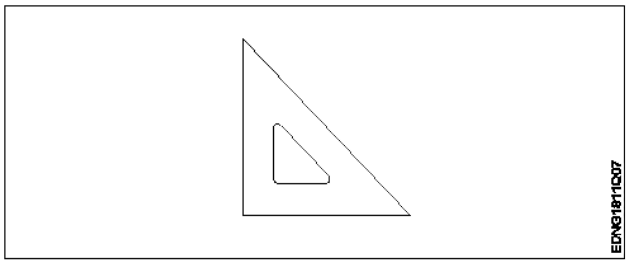

A1 : 15° set square

15° सेट स्क्वायर

A2 : 60° set square

60° सेट स्क्वायर

A3 : 30° set square

30° सेट स्क्वायर

A4 : 45° set square

45° सेट स्क्वायर

		Engineering Drawing		
49	49	Compass used to draw for___. कम्पास का उपयोग ___ को ड्रा करने के लिए किया जाता है. A1 : rectangle आयत A2 : square वर्ग A3 : circle वृत्त A4 : triangle त्रिकोण	2.0	0.00
		Engineering Drawing		
50	50	Which title block position is correct as standard practice? एक मानक अभ्यास के रूप में कौन सी शीर्षक ब्लॉक स्थिति सही है? A1 : 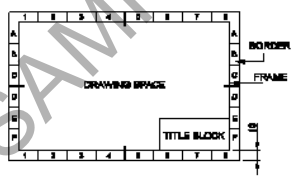 A2 : 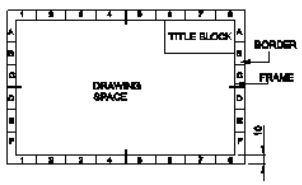 A3 :	2.0	0.00

SAMPLE QUESTION PAPER SET 1

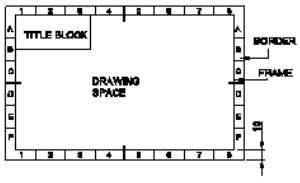

A4 :

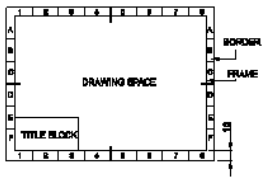

		Employability Skills		
51	51	To be in a job or work is _____ नौकरी या काम में होना है ..... A1 : Employ रोजगार A2 : Skill कौशल A3 : Knowledge ज्ञान A4 : Aptitude योग्यता	2.0	0.00
		Employability Skills		
52	52	Information like date of birth, permanent address form a part of one's _____ in the resume. जन्म तिथि, स्थायी पता जैसी जानकारी रिज्यूमे में किसी के _____ का हिस्सा होती है। A1 : Career objectives कैरियर के उद्देश्यों A2 : Personal details व्यक्तिगत विवरण A3 : Achievements उपलब्धियों A4 : Qualifications योग्यता	2.0	0.00
		Employability Skills		
53	53	A person with a growth mindset is always willing to _____ एक विकास मानसिकता वाला व्यक्ति हमेशा ..... तैयार रहता है। A1 : relax आराम करने में A2 : grow, change, learn बढ़ो, बदलो, सीखो A3 : keep quiet चुप रहने में A4 : become rich अमीर बनने	2.0	0.00
		Employability Skills		
54	54	Jobs that have become outdated in the past 5 years _____	2.0	0.00

SAMPLE QUESTION PAPER SET 1

		..... नौकरियां जो पिछले 5 वर्षों में पुरानी हो गई हैं। A1 : STD booth STD बूथ A2 : ola ओला A3 : uber उबेर A4 : swiggy Swiggy		
		Employability Skills		
55	55	Ethics means _____ नैतिकता का अर्थ है....। A1 : decide what is right and wrong for a human conduct तय करें कि मानव आचरण के लिए क्या सही है और क्या गलत A2 : name of a city एक शहर का नाम A3 : employability skills रोज़गार कौशल A4 : not relevant to society समाज से संबंधित नहीं है	2.0	0.00
		Employability Skills		
56	56	Values are _____ मान हैं .....। A1 : not punctual समयनिष्ठ नहीं A2 : Motivates our attitude and action हमारे दृष्टिकोण और कार्रवाई को प्रेरित करता है A3 : very costly बहुत क़ीमती A4 : all have same value सभी का मूल्य समान है	2.0	0.00
		Employability Skills		
57	57	_____ is a brief statement about purpose and principles of the Constitution. .....संविधान के उद्देश्य और सिद्धांतों के बारे में संक्षिप्त विवरण है। A1 : Syllabus पाठ्यक्रम A2 : Module मापांक A3 : The Preamble प्रस्तावना A4 : Unit इकाई	2.0	0.00
		Employability Skills		
58	58	Identify the improper term _____ अनुचित पद को पहचानिए .....।	2.0	0.00

SAMPLE QUESTION PAPER SET 1

		A1 : green pollution हरित प्रदूषण A2 : water pollution जल प्रदूषण A3 : air pollution वायु प्रदूषण A4 : sound pollution ध्वनि प्रदूषण		
		Employability Skills		
59	59	NAPS Stands for _____ NAPS का मतलब _____ A1 : National Apprenticeship Promotion Scheme National Apprenticeship Promotion Scheme A2 : National Appointment Promoting Scheme National Appointment Promoting Scheme A3 : Non Apprenticeship Promotion Scheme Non Apprenticeship Promotion Scheme A4 : National Advertising Promotion Scheme National Advertising Promotion Scheme	2.0	0.00
		Employability Skills		
60	60	_____ is major changes takes place in manufacturing. …….. मैन्युफैक्चरिंग में प्रमुख परिवर्तन होते हैं। A1 : Green revolution हरित क्रांति A2 : Industry revolution उद्योग क्रांति A3 : Water revolution जल क्रांति A4 : Food revolution खाद्य क्रांति	2.0	0.00
		Employability Skills		
61	61	1st industrial revolution started in _____ पहली औद्योगिक क्रांति की शुरुआत …….। A1 : 18th century 18 वीं सदी A2 : 19th century 19 वीं सदी A3 : 20th century 20 वीं सदी A4 : 21st century 21 वीं सदी	2.0	0.00
		Employability Skills		
62	62	Hard Skill _____ कठिन कौशल…..।	2.0	0.00

SAMPLE QUESTION PAPER SET 1

		A1 : quick learner त्वरित शिक्षार्थी A2 : time management समय प्रबंधन A3 : 60 WPM typing speed 60 WPM टाइपिंग स्पीड A4 : spoken English मौखिक अंग्रेजी		
		Employability Skills		
63	63	To grow yourself you must _____ अपने आप को विकसित करने के लिए आपको चाहिए ……। A1 : know your office अपने कार्यालय को जानें A2 : know yourself खुद को जानें A3 : know your institute अपने संस्थान को जानें A4 : know your country अपने देश को जानो	2.0	0.00
		Employability Skills		
64	64	Time management _____ समय प्रबंधन……। A1 : complete your task on time अपना कार्य समय पर पूरा करें A2 : managing time प्रबंधन समय A3 : hard skill कठिन कौशल A4 : problem solving समस्या को सुलझाना	2.0	0.00
		Employability Skills		
65	65	A resume should be _____. एक रिज्यूम _____ होना चाहिए A1 : short and precise छोटा और सटीक A2 : fancy and colourful फैंसी और रंगीन A3 : having long and detailed information लंबी और विस्तृत जानकारी होना A4 : having acronyms and abbreviation समरूप और संक्षिप्त नाम होना	2.0	0.00
		Employability Skills		
66	66	A written description of duties and responsibilities to be carried out in a job is called _____. किसी कार्य में किए जाने वाले कर्तव्यों और जिम्मेदारियों का लिखित विवरण _____ कहा जाता है	2.0	0.00

SAMPLE QUESTION PAPER SET 1

		A1 : CV CV A2 : job description job description A3 : resume resume A4 : job application job application		
		Employability Skills		
67	67	After receiving interview call, what is the next step? साक्षात्कार कॉल प्राप्त करने के बाद, अगला कदम क्या है? A1 : Send application letter आवेदन पत्र भेजें A2 : Prepare the resume रिज्यूम तैयार करें A3 : Appear at interview साक्षात्कार में में जाये A4 : Send resume रिज्यूम भेजे	2.0	0.00
		Employability Skills		
68	68	Choose suitable “wh” word for the given sentence. “_____ animal do you like?” दिए गए वाक्य के लिए उपयुक्त “wh” शब्द चुनें। “_____ animal do you like?” A1 : Which Which A2 : Why Why A3 : Where Where A4 : When When	2.0	0.00
		Employability Skills		
69	69	Choose the correct punctuation mark after the word “Rohan” in the given sentence. “Rohan David and Ram are playing hide and seek” दिए गए वाक्य में शब्द "रोहन" के बाद सही विराम चिह्न चुनें।“Rohan David and Ram are playing hide and seek” A1 : Comma (,) अल्पविराम (,) A2 : Period (_) अवधि (_) A3 : Slash (/) स्लैश (/) A4 : Hyphen (-) हाइफ़न (-)	2.0	0.00
		Employability Skills		
70	70	Choose the correct response for the given question. “How have you been”? दिए गए प्रश्न के लिए सही उत्तर चुनिए। “How have you been”?	2.0	0.00

SAMPLE QUESTION PAPER SET 1

		A1 : Very well, And you? Very well, And you? A2 : Thank you_ And you? Thank you_ And you? A3 : Same to you Same to you A4 : On vacation_ And you? On vacation_ And you?		
		Employability Skills		
71	71	Choose the correct response of the given question. “When did the accident happen”? दिए गए प्रश्न की सही प्रतिक्रिया चुनें। “When did the accident happen”? A1 : in the hotel in the hotel A2 : during travelling during travelling A3 : At 10:30 last night At 10:30 last night A4 : On the table On the table	2.0	0.00
		Employability Skills		
72	72	Choose the correct tense of the verb. “I _____ music when I was child” क्रिया का सही काल चुनें। “I _____music when I was child” A1 : learn learn A2 : am learning am learning A3 : will learn will learn A4 : had learnt had learnt	2.0	0.00
		Employability Skills		
73	73	Curriculum vitae is also known as _____ . Curriculum vitae को _____ के रूप में भी जाना जाता है। A1 : circular परिपत्र A2 : resume रिज्यूम A3 : job application form नौकरी के लिए आवेदन पत्र A4 : leave application छुट्टी की अर्जी	2.0	0.00
		Employability Skills		
74	74	Fill in the blank with comparative adjective. “Your pencil is _____ than mine” तुलनात्मक विशेषण के साथ रिक्त स्थान भरें। “Your pencil is_____ than mine” A1 : sharp	2.0	0.00

SAMPLE QUESTION PAPER SET 1

		sharp A2 : sharper sharper A3 : blunt blunt A4 : thick thick		
Employability Skills				
75	75	Fill in the blank with correct future tense of verb. “We _____ to the zoo after Breakfast “ क्रिया के सही भविष्य काल के साथ रिक्त स्थान भरें। “We_____to the zoo after Breakfast “ A1 : went went A2 : are going are going A3 : had gone had gone A4 : will go will go	2.0	0.00

SAMPLE QUESTION PAPER SET 1

Solar Technician (Electrical) - 1 Year - Set 1

S.No.	Correct Answer Key
1	A3
2	A2
3	A1
4	A1
5	A1
6	A2
7	A2
8	A2
9	A3
10	A3
11	A1
12	A2
13	A4
14	A2
15	A3
16	A3
17	A4
18	A2
19	A3
20	A2
21	A1
22	A3
23	A2
24	A3
25	A3
26	A2
27	A2
28	A3
29	A3
30	A2
31	A1
32	A2
33	A1
34	A1
35	A1
36	A4
37	A1
38	A3

S.No.	Correct Answer Key
39	A3
40	A2
41	A2
42	A2
43	A2
44	A1
45	A1
46	A3
47	A2
48	A4
49	A3
50	A1
51	A1
52	A2
53	A2
54	A1
55	A1
56	A2
57	A3
58	A1
59	A1
60	A2
61	A1
62	A3
63	A2
64	A1
65	A1
66	A2
67	A3
68	A1
69	A1
70	A1
71	A3
72	A4
73	A2
74	A2
75	A4

KEY ANSWER SET 1

Note:
"In case answers found to be inaccurate due to typographical error or any other reason please sent mail to **qbnimigrievance@gmail.com**"