Max Marks : 150

ALL INDIA TRADE TEST - 2024 FOR CRAFSTMEN
TRAINING SCHEME (CTS)
Trade Name: Technician Medical Electronics
Year: 1st Year

Exam Date :
Exam Time :

Note:
1. Tick the correct option out of four alternatives provided
2. All questions carry equal marks (2 Marks each)
3. There is no negative marking

SAMPLE QUESTION PAPER SET 1

Sr. No.	Q ID	Question Body and Alternatives	Marks	Negative Marks
		Trade Theory		
1	1	Which type of toe caps are used to avoid crushing of feet at the time of shifting equipments? उपकरण के स्थानांतरण के समय पैरों को कुचलने से बचने के लिए किस प्रकार के पैर के केप का उपयोग किया जाता है? A1 : Steel toe caps स्टील की टोपियां A2 : Plastic toe caps प्लास्टिक की टोपियां A3 : Rubber toe caps रबड़ की टोपियां A4 : Leather toe caps चमड़े के पैर की टोपियाँ	2.0	0.00
		Trade Theory		
2	2	Which fire extinguisher is used to put off class 'C' type of fire? क्लास type C 'प्रकार की आग बुझाने के लिए किस अग्निशामक यंत्र का उपयोग किया जाता है? A1 : Foam type फोम प्रकार A2 : Jet of water पानी की जेट A3 : Dry powdered ड्राई पाउडर A4 : Carbon-di-oxide कार्बन डाइआक्साइड	2.0	0.00
		Trade Theory		
3	3	What is the shape of mandatory signs? अनिवार्य संकेतों का आकार क्या है? A1 : Square वर्गाकार A2 : Circular वृताकार A3 : Triangular त्रिकोणीय A4 : Rectangular	2.0	0.00

		आयताकार		
		Trade Theory		
4	4	What is the first step to rescue the person in electrical contact? विद्युत संपर्क में व्यक्ति को बचाने के लिए पहला कदम क्या है? A1: Break the contact संपर्क तोड़ना A2: Call the doctor डॉक्टर को बुलाएं A3: Switch OFF power supply बिजली की आपूर्ति को स्विच ऑफ करना A4: Pull the person from electrical contact बिजली के संपर्क से व्यक्ति को खींचना	2.0	0.00
		Trade Theory		
5	5	Which factor influences the severity of electrical shock? कौन सा कारक बिजली के झटके की गंभीरता को प्रभावित करता है? A1: Very low DC voltage बहुत कम डीसी वोल्टेज A2: Duration of current passing करंट गुजरने की अवधि A3: Level of current in micro ampere माइक्रो एम्पीयर में करंट का स्तर A4: Person receives the shock झटका खाया हुआ व्यक्ति	2.0	0.00
		Trade Theory		
6	6	Which step is followed for treating a person from electric shock? बिजली के झटके से किसी व्यक्ति के इलाज के लिए किस कदम का अनुसरण किया जाता है? A1: Provide water पानी उपलब्ध कराएं A2: Keep the victim cold पीड़ित को ठंडा रखें A3: Cover the victim with a coat पीड़ित को कोट से ढक दें A4: Move the victim to a ventilated place पीड़ित को हवादार जगह पर ले जाएं	2.0	0.00
		Trade Theory		
7	7	What is the purpose of flux in soldering electronic circuit components? सोल्डरिंग इलेक्ट्रॉनिक सर्किट घटकों में प्रवाह का उद्देश्य क्या है? A1: Form the oxide layer ऑक्साइड परत का गठन करें A2: Reduce the solder cooling time सोल्डर का ठंडा होना का समय कम करना A3: Increase the melting temperature of solder सोल्डर के पिघलने का तापमान बढ़ाना A4: Dissolve the oxide layer on solder the metal surface	2.0	0.00

SAMPLE QUESTION PAPER SET 1

		धातु की सतह को सोल्डर पर ऑक्साइड परत को चढ़ाना		
		Trade Theory		
8	8	Which tool works on the principle of air suction? वायु सक्शन के सिद्धांत पर कौन सा उपकरण काम करता है? A1 : Soldering iron सोल्डरिंग आयरन A2 : Soldering wick सोल्डरिंग विक A3 : Desoldering braid डीसोल्डरिंग ब्रेड A4 : Desoldering pump डीसोल्डरिंग पंप	2.0	0.00
		Trade Theory		
9	9	What is the temperature range used in soldering station? सोल्डरिंग स्टेशन में उपयोग की जाने वाली तापमान सीमा क्या है? A1 : 150°C to 450°C 150°C to 450°C A2 : 450°C to 600°C 450°C to 600°C A3 : 600°C to 800°C 600°C to 800°C A4 : 800°C to 1000°C 800°C to 1000°C	2.0	0.00
		Trade Theory		
10	10	Which soldering instrument has hot air blowing facility? किस सोल्डरिंग इंस्ट्रूमेंट में गर्म हवा प्रवाहित होने की सुविधा होती है? A1 : Soldering iron सोल्डरिंग आयरन A2 : Soldering station सोल्डरिंग स्टेशन A3 : Wave soldering machine वेव सोल्डरिंग मशीन A4 : Temperature controlled soldering iron तापमान नियंत्रित सोल्डरिंग आयरन	2.0	0.00
		Trade Theory		
11	11	Which technology is used to place the components directly on the printed circuit boards? प्रिंटेड सर्किट बोर्ड पर घटकों को सीधे रखने के लिए किस तकनीक का उपयोग किया जाता है? A1 : Solder mount technology सोल्डर माउंट तकनीक A2 : Surface mount technology सरफेस माउंट तकनीक A3 : Safety metaphor technology सेफ़्टी मेटाफर तकनीक A4 : Silicon multiplier technology	2.0	0.00

SAMPLE QUESTION PAPER SET 1

		सिलिकॉन मल्टीप्लायर तकनीक		
		Trade Theory		
12	12	Which material is used to make the drill bits for drilling PCB holes? पीसीबी हॉल ड्रिलिंग के लिए ड्रिल बिट बनाने के लिए किस सामग्री का उपयोग किया जाता है? A1 : Stainless steel स्टेनलेस स्टील A2 : High speed steel हाइ स्पीड स्टील A3 : High carbon steel उच्च कार्बन इस्पात A4 : Solid coated Tungsten carbide ठोस लेपित टंगस्टन कार्बाइड	2.0	0.00
		Trade Theory		
13	13	Which colour of solder mask is used on PCBs? पीसीबी पर सोल्डर मास्क का कौन सा रंग इस्तेमाल किया जाता है? A1 : Brown भूरा A2 : Orange संतरा A3 : Green हरा A4 : Violet बैंगनी	2.0	0.00
		Trade Theory		
14	14	What is the composition of solder paste used for reflow soldering process? रिफ्लो सोल्डरिंग प्रक्रिया के लिए सोल्डर पेस्ट की संरचना क्या है? A1 : Tin and Lead टिन और सीसा A2 : Tin, Lead and Flux टिन, लीड और फ्लक्स A3 : Powdered solder and Flux पाउडर सोल्डर और फ्लक्स A4 : Rosin cored solder and Flux रोसिन कोर सोल्डर और फ्लक्स	2.0	0.00
		Trade Theory		
15	15	How the solder mask is removed on the PCB for replacement of components? घटकों के प्रतिस्थापन के लिए पीसीबी पर सोल्डर मास्क कैसे हटाया जाता है? A1 : Micro blasting माइक्रो ब्लास्टिंग A2 : Grinding and Scraping ग्राईंडिंग और स्क्रैपिंग द्वारा A3 : Conformal coating peeled off कोनफोरमल कोटिंग निकालने से A4 : Photolithography	2.0	0.00

SAMPLE QUESTION PAPER SET 1

		फोटोलिथोग्राफी द्वारा		
		Trade Theory		
16	16	Which fabrication technology is used for the assembly of the circuit board? सर्किट बोर्ड की असेंबली के लिए किस फेब्रीकेशन तकनीक का उपयोग किया जाता है? A1 : Microchip fabrication माइक्रोचिप फेब्रीकेशन A2 : Single layer fabrication एकल परत फेब्रीकेशन A3 : Double sided fabrication डबल पक्षीय फेब्रीकेशन A4 : Plated through hole fabrication प्लेट मे हॉल	2.0	0.00
		Trade Theory		
17	17	Which is the common method of attaching surface mount components to a printed circuit board? प्रिंटेड सर्किट बोर्ड में सरफेस माउंट घटकों को संलग्न करने की सामान्य विधि क्या है? A1 : Wave soldering वेव सोल्डरिंग A2 : Manual soldering मैनुअल सोल्डरिंग A3 : Soldering station सोल्डरिंग स्टेशन A4 : Reflow soldering रीफ़्लो सोल्डेरिंग	2.0	0.00
		Trade Theory		
18	18	Which protective chemical coating is applied on the PCB? पीसीबी पर कौन सा सुरक्षात्मक रासायनिक लेप लगाया जाता है? A1 : Shellac शेलेक A2 : PVC coating पीवीसी कोटिंग A3 : Enamel varnish ईनामेल वार्निश A4 : Polymer film coating पॉलिमर फिल्म कोटिंग	2.0	0.00
		Trade Theory		
19	19	Which method of conformal coating is used for epoxy coated on PCBs? कन्फर्मल कोटिंग की कौन सी विधि का उपयोग पीसीबी पर लेपित एपॉक्सी के लिए किया जाता है? A1 : Solvent सोलवेंट A2 : Peeling off पीलिंग ऑफ A3 : Micro blasting माइक्रो ब्लास्टिंग A4 : Mechanical removal	2.0	0.00

SAMPLE QUESTION PAPER SET 1

		यांत्रिक निष्कासन		
		Trade Theory		
20	20	How the gas and liquefied gases are classified? गैस और तरल गैसों को कैसे वर्गीकृत किया जाता है? A1 : Class 'A' fire Class 'A' fire A2 : Class 'B' fire Class 'B' fire A3 : Class 'C' fire Class 'C' fire A4 : Class 'D' fire Class 'D' fire	2.0	0.00
		Trade Theory		
21	21	Which fire extinguisher is used to put off class 'A' type of fire? कक्षा class A 'प्रकार की आग बुझाने के लिए किस अग्निशामक यंत्र का उपयोग किया जाता है? A1 : Foam type फोम प्रकार A2 : Jet of water पानी की जेट A3 : Dry powdered सूखा चूर्ण A4 : Carbon-di-oxide कार्बन डाइऑक्साइड	2.0	0.00
		Trade Theory		
22	22	Which method is used for blanketing with foam to extinguish the fire? आग बुझाने के लिए फोम के साथ कंबलिंग के लिए किस विधि का उपयोग किया जाता है? A1 : Cooling शीतलक A2 : Starving भूखमरी A3 : Smothering स्मूथरिंग A4 : Heating गरम करना	2.0	0.00
		Trade Theory		
23	23	What is the shape of warning sign board? चेतावनी साइन बोर्ड का आकार क्या है? A1 : Square shape चौकोर आकार A2 : Circular shape गोल आकार A3 : Triangular shape त्रिकोणीय आकार A4 : Hexagonal shape षट्कोणीय आकार	2.0	0.00

SAMPLE QUESTION PAPER SET 1

		Trade Theory		
24	24	Which class of fire is classified involving metals? अग्नि की किस श्रेणी में धातुओं को शामिल किया गया है? A1 : Class A Class A A2 : Class B Class B A3 : Class C Class C A4 : Class D Class D	2.0	0.00
		Trade Theory		
25	25	What is the shape of prohibition sign? निषेध संकेत का आकार क्या है? A1 : Square वर्ग A2 : Circular गोल A3 : Triangular त्रिकोणीय A4 : Rectangular आयताकार	2.0	0.00
		Trade Theory		
26	26	What is the name of safety group sign? सुरक्षा समूह चिन्ह का नाम क्या है?  A1 : Warning signs चेतावनी के संकेत A2 : Mandatory signs अनिवार्य संकेत A3 : Prohibition signs निषेध संकेत A4 : Information signs सूचना के संकेत	2.0	0.00
		Trade Theory		
27	27	Which angle is checked by the try square? ट्राइ स्क्वायर द्वारा किस कोण की जाँच की जाती है? A1 : 45° 45° A2 : 60° 60°	2.0	0.00

SAMPLE QUESTION PAPER SET 1

		A3 : 75º 75º A4 : 90º 90º		
		Trade Theory		
28	28	What is the use of screw driver? स्क्रू ड्राइवर का उपयोग क्या है? A1 : Hold the screws स्क्रू पकड़ना A2 : Tighten or loosen screws स्क्रू को कसने या ढीला करना A3 : Tighten or loosen bolts तंग या ढीला बोल्ट A4 : Tighten or loosen rivets रिपट को कसें या ढीला करें	2.0	0.00
		Trade Theory		
29	29	Which is the maximum size of drill bit used in electrical hand drilling machine? इलेक्ट्रिकल हैंड ड्रिलिंग मशीन में प्रयुक्त ड्रिल बिट का अधिकतम आकार कौन सा है? A1 : 0.35 mm 0.35 mm A2 : 1.5 mm 1.5 mm A3 : 3.5 mm 3.5 mm A4 : 6.5 mm 6.5 mm	2.0	0.00
		Trade Theory		
30	30	Which bonding material is used for soldering a joint? किसी जॉइंट को टांका लगाने के लिए किस संबंध सामग्री का उपयोग किया जाता है? A1 : Oil तेल A2 : Flux फ्लक्स A3 : Acid अम्ल A4 : Grease ग्रीज़	2.0	0.00
		Trade Theory		
31	31	What is the name of the tool? टूल का नाम क्या है?	2.0	0.00

SAMPLE QUESTION PAPER SET 1

		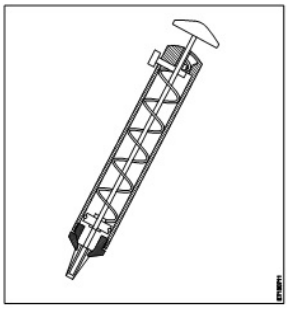 A1 : Chopper tool चॉपर टूल A2 : Crimping tool क्रिम्पिंग टूल A3 : Soldering iron सोल्डरिंग आयरन A4 : Plunger de-soldering tool प्लंजर डी-सोल्डरिंग टूल		
		Trade Theory		
32	32	What is the name of flux used for soldering electronic components? टांका लगाने वाले इलेक्ट्रॉनिक उपकरणों के लिए इस्तेमाल होने वाले फ्लक्स का नाम क्या है? A1 : Resin राल A2 : Rosin राल A3 : Mild acid हल्का अम्ल A4 : Organic acid जैविक रसायन	2.0	0.00
		Trade Theory		
33	33	Which type of soldering is used for electronic circuit? इलेक्ट्रॉनिक सर्किट के लिए किस प्रकार के सोल्डरिंग का उपयोग किया जाता है? A1 : Brazing ब्रज़िंग A2 : Soft soldering सॉफ्ट सोल्डरिंग A3 : Hot soldering हॉट सोल्डरिंग A4 : Hard soldering हार्ड सोल्डरिंग	2.0	0.00
		Trade Theory		
34	34	Which component opposes any change in current? कौन सा घटक करंट में किसी भी परिवर्तन का विरोध करता है? A1 : Diode डायोड A2 : Resistor प्रतिरोध	2.0	0.00

SAMPLE QUESTION PAPER SET 1

		A3 : Inductor प्रेरक A4 : Capacitor संधारित्र		
		Trade Theory		
35	35	Which value is equal to one picofarad? कौन सा मान एक पिकोफैराड के बराबर है? A1 : 10^6 Farad 10^6 Farad A2 : 10^{12} Farad 10^{12} Farad A3 : 10^{-6} Farad 10^{-6} Farad A4 : 10^{-12} Farad 10^{-12} Farad	2.0	0.00
		Trade Theory		
36	36	What is the name of resistor? प्रतिरोध का नाम क्या है? 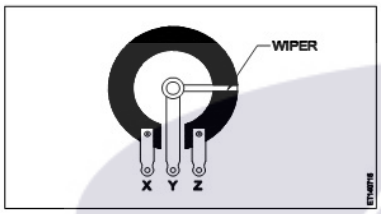 A1 : Carbon type variable कार्बन प्रकार वेरिएबल A2 : Fixed low wattage type फिक्स्ड लो वॉटेज प्रकार A3 : High wattage fixed type उच्च वाटेज निश्चित प्रकार A4 : Wire wound type variable वायर बाउंड प्रकार वेरिएबल	2.0	0.00
		Trade Theory		
37	37	How many ohms is equal to one mega ohm? कितने ओम एक मेगा ओम के बराबर होता हैं? A1 : 10 kΩ 10 kΩ A2 : 100 kΩ 100 kΩ A3 : 1000 kΩ 1000 kΩ A4 : 2000 kΩ 2000 kΩ	2.0	0.00
		Trade Theory		
38	38	What is the value of carbon composition resistor? कार्बन प्रतिरोध का मान क्या है?	2.0	0.00

SAMPLE QUESTION PAPER SET 1

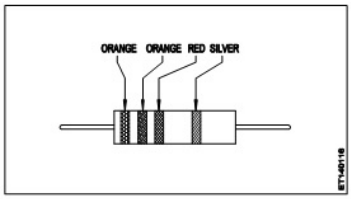

A1 : 2200 Ω

2200 Ω

A2 : 3300 Ω

3300 Ω

A3 : 3900 Ω

3900 Ω

A4 : 4700 Ω

4700 Ω

		Workshop Calculation Science		
39	39	What are the two classifications of system of units? इकाइयों की प्रणाली के दो प्रकार कोनसे हैं?	2.0	0.00
		A1 : British and Metric ब्रिटिश और मीट्रिक A2 : Gravitational and non-gravitational गुरुत्वाकर्षण और गैर-गुरुत्वाकर्षण A3 : Fundamental and derived मौलिक और व्युत्पन्न A4 : Metric and International मैट्रिक और इंटरनेशनल		
		Workshop Calculation Science		
40	40	What are fundamental units? इनमे से मूलभूत इकाइयाँ कोन-कोनसी हैं?	2.0	0.00
		A1 : Length, Mass, Volume लंबाई, द्रव्यमान, आयतन A2 : Length, Mass, Time लंबाई, द्रव्यमान, समय A3 : Length, Mass, Area लंबाई, द्रव्यमान, क्षेत्रफल A4 : Length, Pressure, Volume लंबाई, दाब , आयतन		
		Workshop Calculation Science		
41	41	What denotes letter 'M' in MKS system? MKS प्रणाली में 'M' अक्षर क्या दर्शाता है?	2.0	0.00
		A1 : Mile Mile A2 : Meter Meter A3 : Millimeter Millimeter		

SAMPLE QUESTION PAPER SET 1

		A4 : Micron Micron		
		Workshop Calculation Science		
42	42	How many millimetres are there in 1 inch? 1 इंच में कितने मिलीमीटर होते हैं? A1 : 2.54 mm 2.54 mm A2 : 25.4 mm 25.4 mm A3 : 24.5 mm 24.5 mm A4 : 2.45 mm 2.45 mm	2.0	0.00
		Workshop Calculation Science		
43	43	What is the square root of 529? 529 का वर्गमूल क्या है? A1 : 13 13 A2 : 23 23 A3 : 33 33 A4 : 43 43	2.0	0.00
		Workshop Calculation Science		
44	44	Convert 0.456 decimal fraction into percentage? 0.456 दशमलव भिन्न को प्रतिशत में बदलिये? A1 : 45.6% 45.6% A2 : 4.56% 4.56% A3 : 0.456% 0.456% A4 : 0.0456% 0.0456%	2.0	0.00
		Engineering Drawing		
45	45	Identify the conventional symbol of material? चित्र में दिखाए गए सामग्री के पारंपरिक प्रतीक का पता लगाएं? 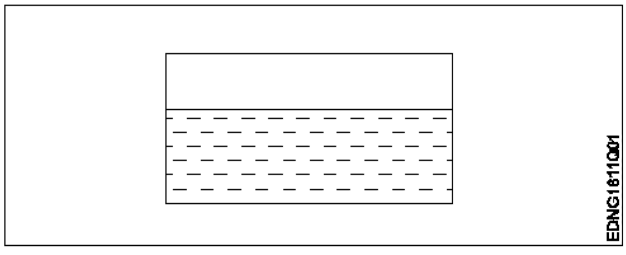 A1 : Water	2.0	0.00

SAMPLE QUESTION PAPER SET 1

पानी

A2 : Concrete

ठोस

A3 : Asbestos

ऐस्बेटस

A4 : Glass

कांच

Engineering Drawing

46	46	Identify the conventional symbol of material? चित्र में दिखाए गए सामग्री के पारंपरिक प्रतीक का पता लगाएं? 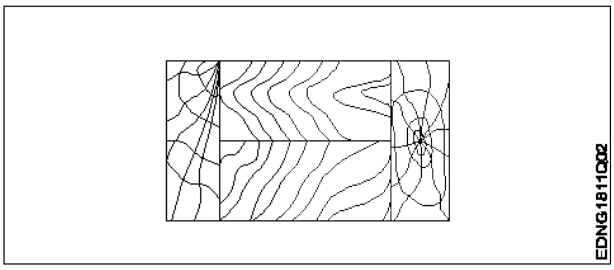 	2.0	0.00

A1 : Lead

लेड

A2 : Glass

कांच

A3 : Wood

लकड़ी

A4 : Paper

कागज़

Engineering Drawing

47	47	Identify the name of instrument? चित्र में दिखाए गए उपकरणों के नाम की पहचान करें? 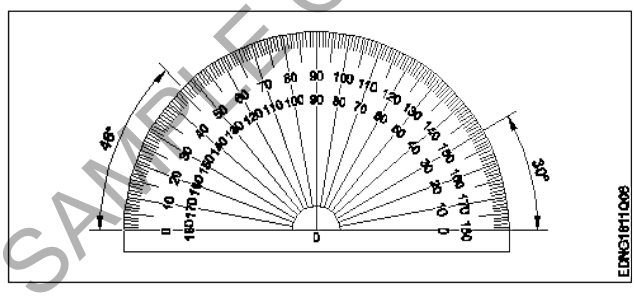 	2.0	0.00

A1 : Set square

गुनिया

A2 : Protractor

चांदा

A3 : French curve

फ़्रांसीसी वक्र

A4 : ' T ' square

टी स्क्वायर

Engineering Drawing

48	48	Identify the name of set square?	2.0	0.00

SAMPLE QUESTION PAPER SET 1

		सेट स्क्वायर का नाम खोजें? 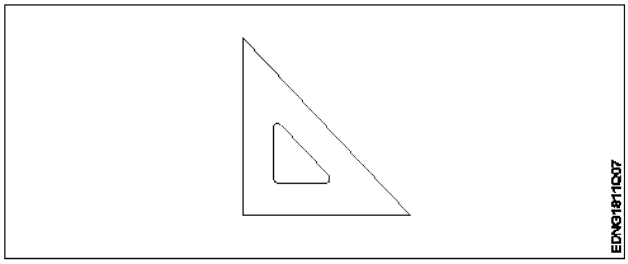 A1 : 15° set square 15° सेट स्क्वायर A2 : 60° set square 60° सेट स्क्वायर A3 : 30° set square 30°सेट स्क्वायर A4 : 45° set square 45° सेट स्क्वायर		
		Engineering Drawing		
49	49	Compass used to draw for___. कम्पास का उपयोग ___ को ड्रा करने के लिए किया जाता है. A1 : rectangle आयत A2 : square वर्ग A3 : circle वृत्त A4 : triangle त्रिकोण	2.0	0.00
		Engineering Drawing		
50	50	Which title block position is correct as standard practice? एक मानक अभ्यास के रूप में कौन सी शीर्षक ब्लॉक स्थिति सही है? A1 : 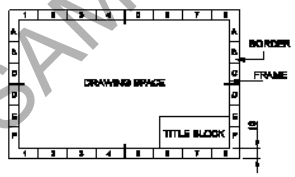 A2 : 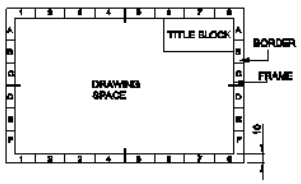 A3 :	2.0	0.00

SAMPLE QUESTION PAPER SET 1

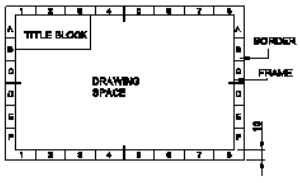

A4 :

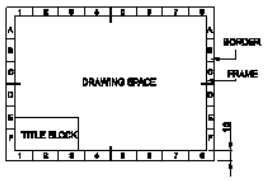

		Employability Skills		
51	51	To be in a job or work is _____ नौकरी या काम में होना है ..... A1 : Employ रोजगार A2 : Skill कौशल A3 : Knowledge ज्ञान A4 : Aptitude योग्यता	2.0	0.00
		Employability Skills		
52	52	Information like date of birth, permanent address form a part of one's _____ in the resume. जन्म तिथि, स्थायी पता जैसी जानकारी रिज्यूमे में किसी के _____ का हिस्सा होती है। A1 : Career objectives कैरियर के उद्देश्यों A2 : Personal details व्यक्तिगत विवरण A3 : Achievements उपलब्धियों A4 : Qualifications योग्यता	2.0	0.00
		Employability Skills		
53	53	A person with a growth mindset is always willing to _____ एक विकास मानसिकता वाला व्यक्ति हमेशा ..... तैयार रहता है। A1 : relax आराम करने में A2 : grow, change, learn बढ़ो, बदलो, सीखो A3 : keep quiet चुप रहने में A4 : become rich अमीर बनने	2.0	0.00
		Employability Skills		
54	54	Jobs that have become outdated in the past 5 years _____	2.0	0.00

SAMPLE QUESTION PAPER SET 1

		..... नौकरियां जो पिछले 5 वर्षों में पुरानी हो गई हैं। A1 : STD booth STD बूथ A2 : ola ओला A3 : uber उबेर A4 : swiggy Swiggy		
		Employability Skills		
55	55	Ethics means _____ नैतिकता का अर्थ है....। A1 : decide what is right and wrong for a human conduct तय करें कि मानव आचरण के लिए क्या सही है और क्या गलत A2 : name of a city एक शहर का नाम A3 : employability skills रोज़गार कौशल A4 : not relevant to society समाज से संबंधित नहीं है	2.0	0.00
		Employability Skills		
56	56	Values are _____ मान हैं .....। A1 : not punctual समयनिष्ठ नहीं A2 : Motivates our attitude and action हमारे दृष्टिकोण और कार्रवाई को प्रेरित करता है A3 : very costly बहुत क़ीमती A4 : all have same value सभी का मूल्य समान है	2.0	0.00
		Employability Skills		
57	57	_____ is a brief statement about purpose and principles of the Constitution. .....संविधान के उद्देश्य और सिद्धांतों के बारे में संक्षिप्त विवरण है। A1 : Syllabus पाठ्यक्रम A2 : Module मापांक A3 : The Preamble प्रस्तावना A4 : Unit इकाई	2.0	0.00
		Employability Skills		
58	58	Identify the improper term _____ अनुचित पद को पहचानिए .....।	2.0	0.00

SAMPLE QUESTION PAPER SET 1

		A1 : green pollution हरित प्रदूषण A2 : water pollution जल प्रदूषण A3 : air pollution वायु प्रदूषण A4 : sound pollution ध्वनि प्रदूषण		
		Employability Skills		
59	59	NAPS Stands for _____ NAPS का मतलब _____ A1 : National Apprenticeship Promotion Scheme National Apprenticeship Promotion Scheme A2 : National Appointment Promoting Scheme National Appointment Promoting Scheme A3 : Non Apprenticeship Promotion Scheme Non Apprenticeship Promotion Scheme A4 : National Advertising Promotion Scheme National Advertising Promotion Scheme	2.0	0.00
		Employability Skills		
60	60	_____ is major changes takes place in manufacturing. …….. मैन्युफैक्चरिंग में प्रमुख परिवर्तन होते हैं। A1 : Green revolution हरित क्रांति A2 : Industry revolution उद्योग क्रांति A3 : Water revolution जल क्रांति A4 : Food revolution खाद्य क्रांति	2.0	0.00
		Employability Skills		
61	61	1st industrial revolution started in _____ पहली औद्योगिक क्रांति की शुरुआत …….। A1 : 18th century 18 वीं सदी A2 : 19th century 19 वीं सदी A3 : 20th century 20 वीं सदी A4 : 21st century 21 वीं सदी	2.0	0.00
		Employability Skills		
62	62	Hard Skill _____ कठिन कौशल…..।	2.0	0.00

SAMPLE QUESTION PAPER SET 1

		A1 : quick learner त्वरित शिक्षार्थी A2 : time management समय प्रबंधन A3 : 60 WPM typing speed 60 WPM टाइपिंग स्पीड A4 : spoken English मौखिक अंग्रेजी		
		Employability Skills		
63	63	To grow yourself you must _____ अपने आप को विकसित करने के लिए आपको चाहिए ……। A1 : know your office अपने कार्यालय को जानें A2 : know yourself खुद को जानें A3 : know your institute अपने संस्थान को जानें A4 : know your country अपने देश को जानो	2.0	0.00
		Employability Skills		
64	64	Time management _____ समय प्रबंधन……। A1 : complete your task on time अपना कार्य समय पर पूरा करें A2 : managing time प्रबंधन समय A3 : hard skill कठिन कौशल A4 : problem solving समस्या को सुलझाना	2.0	0.00
		Employability Skills		
65	65	A resume should be _____. एक रिज्यूम _____ होना चाहिए A1 : short and precise छोटा और सटीक A2 : fancy and colourful फैंसी और रंगीन A3 : having long and detailed information लंबी और विस्तृत जानकारी होना A4 : having acronyms and abbreviation समरूप और संक्षिप्त नाम होना	2.0	0.00
		Employability Skills		
66	66	A written description of duties and responsibilities to be carried out in a job is called _____. किसी कार्य में किए जाने वाले कर्तव्यों और जिम्मेदारियों का लिखित विवरण _____ कहा जाता है	2.0	0.00

SAMPLE QUESTION PAPER SET 1

		A1 : CV CV A2 : job description job description A3 : resume resume A4 : job application job application		
		Employability Skills		
67	67	After receiving interview call, what is the next step? साक्षात्कार कॉल प्राप्त करने के बाद, अगला कदम क्या है? A1 : Send application letter आवेदन पत्र भेजें A2 : Prepare the resume रिज्यूम तैयार करें A3 : Appear at interview साक्षात्कार में में जाये A4 : Send resume रिज्यूम भेजे	2.0	0.00
		Employability Skills		
68	68	Choose suitable “wh” word for the given sentence. “_____ animal do you like?” दिए गए वाक्य के लिए उपयुक्त “wh” शब्द चुनें। “_____ animal do you like?” A1 : Which Which A2 : Why Why A3 : Where Where A4 : When When	2.0	0.00
		Employability Skills		
69	69	Choose the correct punctuation mark after the word “Rohan” in the given sentence. “Rohan David and Ram are playing hide and seek” दिए गए वाक्य में शब्द "रोहन" के बाद सही विराम चिह्न चुनें।“Rohan David and Ram are playing hide and seek” A1 : Comma (,) अल्पविराम (,) A2 : Period (_) अवधि (_) A3 : Slash (/) स्लैश (/) A4 : Hyphen (-) हाइफ़न (-)	2.0	0.00
		Employability Skills		
70	70	Choose the correct response for the given question. “How have you been”? दिए गए प्रश्न के लिए सही उत्तर चुनिए। “How have you been”?	2.0	0.00

SAMPLE QUESTION PAPER SET 1

		A1 : Very well, And you? Very well, And you? A2 : Thank you_ And you? Thank you_ And you? A3 : Same to you Same to you A4 : On vacation_ And you? On vacation_ And you?		
		Employability Skills		
71	71	Choose the correct response of the given question. “When did the accident happen”? दिए गए प्रश्न की सही प्रतिक्रिया चुनें। “When did the accident happen”? A1 : in the hotel in the hotel A2 : during travelling during travelling A3 : At 10:30 last night At 10:30 last night A4 : On the table On the table	2.0	0.00
		Employability Skills		
72	72	Choose the correct tense of the verb. “I _____ music when I was child” क्रिया का सही काल चुनें। “I _____music when I was child” A1 : learn learn A2 : am learning am learning A3 : will learn will learn A4 : had learnt had learnt	2.0	0.00
		Employability Skills		
73	73	Curriculum vitae is also known as _____ . Curriculum vitae को _____ के रूप में भी जाना जाता है। A1 : circular परिपत्र A2 : resume रिज्यूम A3 : job application form नौकरी के लिए आवेदन पत्र A4 : leave application छुट्टी की अर्जी	2.0	0.00
		Employability Skills		
74	74	Fill in the blank with comparative adjective. “Your pencil is _____ than mine” तुलनात्मक विशेषण के साथ रिक्त स्थान भरें। “Your pencil is_____ than mine” A1 : sharp	2.0	0.00

SAMPLE QUESTION PAPER SET 1

		sharp A2 : sharper sharper A3 : blunt blunt A4 : thick thick		
Employability Skills				
75	75	Fill in the blank with correct future tense of verb. “We _____ to the zoo after Breakfast “ क्रिया के सही भविष्य काल के साथ रिक्त स्थान भरें। “We_____to the zoo after Breakfast “ A1 : went went A2 : are going are going A3 : had gone had gone A4 : will go will go	2.0	0.00

SAMPLE QUESTION PAPER SET 1

Technician Medical Electronics - 1st Year - Set 1

S.No.	Correct Answer Key
1	A1
2	A3
3	A2
4	A3
5	A2
6	A4
7	A4
8	A4
9	A1
10	A2
11	A2
12	A4
13	A3
14	A3
15	A4
16	A1
17	A4
18	A4
19	A3
20	A3
21	A2
22	A3
23	A3
24	A4
25	A2
26	A2
27	A4
28	A2
29	A4
30	A2
31	A4
32	A2
33	A2
34	A3
35	A4
36	A1
37	A3
38	A2

S.No.	Correct Answer Key
39	A3
40	A2
41	A2
42	A2
43	A2
44	A1
45	A1
46	A3
47	A2
48	A4
49	A3
50	A1
51	A1
52	A2
53	A2
54	A1
55	A1
56	A2
57	A3
58	A1
59	A1
60	A2
61	A1
62	A3
63	A2
64	A1
65	A1
66	A2
67	A3
68	A1
69	A1
70	A1
71	A3
72	A4
73	A2
74	A2
75	A4

KEY ANSWER SET 1

Note:
"In case answers found to be inaccurate due to typographical error or any other reason please sent mail to **qbnimigrievance@gmail.com**"