Max Marks : 150

All India Trade Test - 2024 for Craftsmen Training Scheme (CTS)
Trade Name: Technician Medical Electronics
Year: 1st Year

Exam Date :
Exam Time :

Note:
1. Tick the correct option out of four alternatives provided
2. All questions carry equal marks (2 Marks each)
3. There is no negative marking

SAMPLE QUESTION PAPER SET 2

Sr. No.	Q ID	Question Body and Alternatives	Marks	Negative Marks
		Trade Theory		
1	1	Find the total resistance value of 10 ohms and 20 ohms connected in parallel. समानांतर में जुड़े 10 ओम और 20 ओम का कुल प्रतिरोध मान ज्ञात कीजिए। A1 : 6.666 Ohms 6.666 Ohms A2 : 66.66 Ohms 66.66 Ohms A3 : 666.6 Ohms 666.6 Ohms A4 : 6666 Ohms 6666 Ohms	2.0	0.00
		Trade Theory		
2	2	Which bearing is supporting the shaft of moving coil assembly in a PMMC instrument? पीएमएमसी इंस्ट्रूमेंट में मूविंग कॉइल असेंबली के शाफ्ट का समर्थन करने वाला बीएरिंग कोन सी है? A1 : Steel bearings स्टील बीयरिंग A2 : Bush bearings बुश बेयरिंग A3 : Jeweled bearings ज्वेल बेयरिंग A4 : Gun metal bearings गन मेटल बीयरिंग	2.0	0.00
		Trade Theory		
3	3	What is the full form of the PMMC meter? संक्षिप्त नाम PMMC meter का पूर्ण रूप क्या है? A1 : Parallel Magnet Moving Coil Meter Parallel Magnet Moving Coil Meter A2 : Position Magnet Moving Coil Meter Position Magnet Moving Coil Meter	2.0	0.00

		A3 : Principle Magnet Moving Coil Meter Principle Magnet Moving Coil Meter A4 : Permanent Magnet Moving Coil Meter Permanent Magnet Moving Coil Meter		
		Trade Theory		
4	4	Which torque is used in PMMC meter movement? PMMC meter के घूर्णन में किस टार्क का उपयोग होता है? A1 : Low torque निम्न टार्क A2 : High torque उच्च टार्क A3 : Moderate torque मध्यम टार्क A4 : Insufficient torque अपर्याप्त टार्क	2.0	0.00
		Trade Theory		
5	5	Which parameter is measured by a multimeter? निम्न पैमाना में से कोन मल्टीमीटर द्वारा मापा जाता है? A1 : Voltage वोल्टेज A2 : Energy ऊर्जा A3 : Frequency आवृत्ति A4 : Time duration समय अवधि	2.0	0.00
		Trade Theory		
6	6	Which parameter is used in the working of moving coil meter? मूविंग कोइल मीटर के कार्य प्रणाली में किस पैरामीटर का उपयोग किया जाता है? A1 : Spring control स्प्रिंग नियंत्रण A2 : Stray magnetic fields स्ट्रे मेग्नेटिक फील्ड A3 : Eddy current damping एड़ी करंट डेम्पिंग A4 : Permanent magnetic fields स्थायी चुंबकीय क्षेत्र	2.0	0.00
		Trade Theory		
7	7	What is the name of the pair of metal strips used in battery cell? बैटरी सेल में प्रयुक्त मेटल स्ट्रिप्स की जोडे का क्या नाम है? A1 : Cathode	2.0	0.00

SAMPLE QUESTION PAPER SET 2

		कैथोड A2 : Electrolyte इलेक्ट्रोलाइट A3 : Electrodes इलेक्ट्रोड A4 : Carbon rod कार्बन रॉड		
		Trade Theory		
8	8	How batteries are classified? बैटरी को कैसे वर्गीकृत किया जाता है? A1 : Dry cells and alkaline cells ड्राय और अल्कलाइन सेल A2 : Button cells and lithium cells बटन सेल और लिथियम सेल A3 : Primary cells and secondary cells प्राथमिक सेल और द्वितीयक सेल A4 : Cylindrical cells and rectangular cells बेलनाकार सेल और आयताकार सेल	2.0	0.00
		Trade Theory		
9	9	Which battery is used for cellular phones? सेलुलर फोन के लिए किस बैटरी का उपयोग किया जाता है? A1 : Nickel ion निकल आयन A2 : Lithium ion लिथियम आयन A3 : Zinc chloride जिंक क्लोराइड A4 : Sodium sulphur सोडियम सल्फर	2.0	0.00
		Trade Theory		
10	10	What is the current rating of lead acid batteries used in automobiles? ऑटोमोबाइल में प्रयुक्त लेड एसिड बैटरियों की करंट रेटिंग क्या है? A1 : 5 to 10 Amp 5 to 10 Amp A2 : 10 to 25 Amp 10 to 25 Amp A3 : 2.5 to 4.5 Amp 2.5 to 4.5 Amp A4 : 100 to 400 Amp 100 to 400 Amp	2.0	0.00
		Trade Theory		
11	11	What is the specific gravity of concentrated sulphuric acid?	2.0	0.00

SAMPLE QUESTION PAPER SET 2

		सांद्रित सल्फ्यूरिक एसिड का विशिष्ट गुरुत्व क्या है? A1 : 1.175 1.175 A2 : 1.245 1.245 A3 : 1.835 1.835 A4 : 1.945 1.945		
		Trade Theory		
12	12	What is the colour of positive electrode in fully charged lead acid battery? पूरी तरह से चार्ज लीड एसिड बैटरी में सकारात्मक इलेक्ट्रोड का रंग क्या होता है? A1 : Red colour लाल रंग A2 : Grey colour ग्रे रंग A3 : Reddish brown लाल भूरे रंग A4 : Spongy grey colour स्पंजी ग्रे रंग	2.0	0.00
		Trade Theory		
13	13	Which material is used for negative terminal of alkaline manganese dioxide batteries? क्षारीय मैंगनीज डाइऑक्साइड बैटरी के नकारात्मक टर्मिनल के लिए किस सामग्री का उपयोग किया जाता है? A1 : Zinc जिंक A2 : Lithium लिथियम A3 : Cadmium कैडमियम A4 : Nickel hydroxide निकल हाइड्रॉक्साइड	2.0	0.00
		Trade Theory		
14	14	What is the total voltage of six 1.5 V cells, connected in series? श्रेणी क्रम में जुड़े छह 1.5 V कोशिकाओं का कुल वोल्टेज क्या है? A1 : 3 VDC 3 VDC A2 : 6 VDC 6 VDC A3 : 9 VDC 9 VDC A4 : 12 VDC	2.0	0.00

SAMPLE QUESTION PAPER SET 2

		12 VDC		
		Trade Theory		
15	15	What is the electrolyte level maintained above the top of the plates in lead acid battery cells? लीड एसिड बैटरी सेल में प्लेटों के शीर्ष से ऊपर इलेक्ट्रोलाइट स्तर क्या रखा जाता है? A1 : 2 mm to 4 mm 2 mm to 4 mm A2 : 5 mm to 8 mm 5 mm to 8 mm A3 : 10 mm to 15 mm 10 mm to 15 mm A4 : 16 mm to 25 mm 16 mm to 25 mm	2.0	0.00
		Trade Theory		
16	16	What is the use of battery analyzers with rapid-test program? रैपिड-टेस्ट प्रोग्राम बैटरी एनालाइजर का उपयोग क्या होता है ? A1 : Test the battery life बैटरी जीवन का परीक्षण करना A2 : Test the load current delivered लोड करंट का परीक्षण करना A3 : Test the charging current of battery बैटरी के चार्जिंग करंट का परीक्षण करना A4 : Indicate the health condition of battery बैटरी की स्वास्थ्य स्थिति का संकेत देना	2.0	0.00
		Trade Theory		
17	17	What is the percentage of power delivered by the lithium Ion compared to NiMH battery? NiMH बैटरी की तुलना में लिथियम आयन द्वारा प्रदत्त शक्ति का प्रतिशत कितना है? A1 : 15% 15% A2 : 25% 25% A3 : 40% 40% A4 : 60% 60%	2.0	0.00
		Trade Theory		
18	18	What is the name of the process to maintain the recommended level of electrolyte in lead-acid battery cell? लीड-एसिड बैटरी सेल में इलेक्ट्रोलाइट के अनुशंसित स्तर को बनाए रखने की प्रक्रिया का नाम क्या है? A1 : Recharging रिचार्जिंग A2 : Topping up के ऊपर डालना A3 : Charging the cell	2.0	0.00

SAMPLE QUESTION PAPER SET 2

		सेल को चार्ज करना A4 : Cycling of the cell सेल की साइकिलिंग		
		Trade Theory		
19	19	Which method is adopted to charge a car battery with voltage rating of 2.3 V per cell? 2.3 V प्रति सेल की वोल्टेज रेटिंग के साथ कार बैटरी चार्ज करने के लिए कौन सी विधि अपनाई जाती है? A1 : Float charging method फ्लोट चार्जिंग विधि A2 : Trickle charging method ट्रिकल चार्जिंग विधि A3 : Constant current charging method लगातार चालू चार्जिंग विधि A4 : Constant voltage charging method लगातार वोल्टेज चार्ज करने की विधि	2.0	0.00
		Trade Theory		
20	20	What is the name of the symbol marked 'X' in the panel meter? पैनल मीटर में 'X' अंकित चिह्न का नाम क्या है? 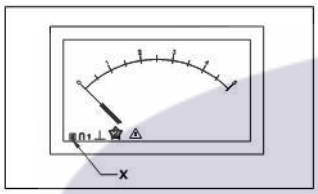 A1 : Moving coil meter मूविंग कॉइल मीटर A2 : Moving iron meter मूविंग आयरन मीटर A3 : Hot wire instrument हॉट वायर इंस्ट्रूमेंट A4 : Moving coil with rectifier मूविंग कॉइल विथ रेक्टिफायर	2.0	0.00
		Trade Theory		
21	21	Find the value of shunt resistance required for 1 mA meter to extend the range and measure 10 mA (R_M = 27 Ohm) सीमा का विस्तार करने और 10 mA (R_M = 27 Ohm) को मापने के लिए 1 mA मीटर के लिए आवश्यक शंट प्रतिरोध का मान ज्ञात कीजिए A1 : 1 Ohm 1 Ohm A2 : 2 Ohms 2 Ohms A3 : 3 Ohms 3 Ohms A4 : 4 Ohms 4 Ohms	2.0	0.00
		Trade Theory		

SAMPLE QUESTION PAPER SET 2

22	22	In which arrangement the high value of resistor is connected to extend the range of voltmeter? वोल्टमीटर की सीमा का विस्तार करने के लिए किस प्रणाली में रोकनेवाला का उच्च मूल्य जुड़ा हुआ है? A1 : Star स्टार A2 : Delta डेल्टा A3 : Series सीरीज A4 : Parallel पैरेलल	2.0	0.00
Trade Theory				
23	23	In which analog meter the battery is provided? बैटरी किस एनालॉग मीटर में दी गई है? A1 : Ammeter एम्मिटर A2 : Voltmeter वाल्टमीटर A3 : Ohm meter ओम मीटर A4 : Watt meter वाट मीटर	2.0	0.00
Trade Theory				
24	24	Which meter uses a moving coil for measurement? माप के लिए कौन सा मीटर एक गतिमान क्वाइल का उपयोग करता है? A1 : LCR meter LCR मीटर A2 : PMMC meter PMMC मीटर A3 : MI repulsion type MI प्रतिकर्षण प्रकार A4 : MI attraction type MI आकर्षण प्रकार	2.0	0.00
Trade Theory				
25	25	What is the advantage of using digital multimeter? डिजिटल मल्टीमीटर का उपयोग करने का क्या फायदा है? A1 : Accuracy शुद्धता A2 : Linear scale रैखिक पैमाने A3 : Easy portability आसान पोर्टेबिलिटी	2.0	0.00

SAMPLE QUESTION PAPER SET 2

		A4 : Logarithmic scale लघुगणक मापक		
		Trade Theory		
26	26	What is the type of relay? रिले का प्रकार क्या है? 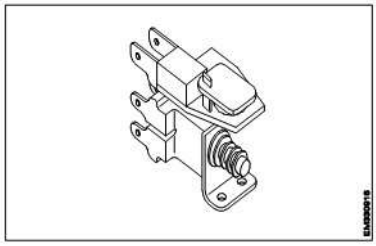 A1 : Thermal relay थर्मल रिले A2 : Dry reed relay ड्राई रीड रिले A3 : Impulse relay इम्पल्स रिले A4 : Latch relay लेच रिले	2.0	0.00
		Trade Theory		
27	27	What is the current rating of cartridge fuse used for domestic wiring? घरेलू वायरिंग के लिए इस्तेमाल होने वाले काटेज फ्यूज की करंट रेटिंग क्या है? A1 : 1250 Ampere 1250 Ampere A2 : 1350 Ampere 1350 Ampere A3 : 1450 Ampere 1450 Ampere A4 : 1550 Ampere 1550 Ampere	2.0	0.00
		Trade Theory		
28	28	What is the current rating of tinned copper wire 40 SWG used for rewireable fuse? पुन: उपयोग करने योग्य फ्यूज के लिए उपयोग किए जाने वाले टिन कॉपर वायर 40 एसडब्ल्यूजी की करंट रेटिंग क्या है? A1 : 1.0 A 1.0 A A2 : 1.5 A 1.5 A A3 : 2.5 A 2.5 A A4 : 4.0 A 4.0 A	2.0	0.00
		Trade Theory		

SAMPLE QUESTION PAPER SET 2

29	29	What is the fusing factor of rewireable HRC fuse? HRC फ्यूज के पुन: उपयोग करने का फ्युसिंग फेक्टर क्या है? A1 : 1 1 A2 : 1.1 1.1 A3 : 1.2 1.2 A4 : 1.5 1.5	2.0	0.00
Trade Theory				
30	30	What is the maximum current rating for 4 pole MCB? 4 पोल MCB के लिए अधिकतम करंट रेटिंग क्या है? A1 : 50 A 50 A A2 : 60 A 60 A A3 : 70 A 70 A A4 : 80 A 80 A	2.0	0.00
Trade Theory				
31	31	Which condition the MCB is breaking open of the electrical circuit? MCB में किस स्थिति में विद्युत परिपथ को खुला परिपथ में रहेगा? A1 : Low current निम्न करंट A2 : High voltage उच्च वोल्टेज A3 : Short circuit शार्ट सर्किट A4 : Earth leakage अर्थ लीकेज	2.0	0.00
Trade Theory				
32	32	What is the current rating of rewirable fuse used for domestic wiring? घरेलू वायरिंग के लिए उपयोग किए जाने वाले पुन: उपयोग योग्य फ्यूज की करंट रेटिंग क्या है? A1 : 200 A 200 A A2 : 300 A 300 A A3 : 400 A 400 A	2.0	0.00

SAMPLE QUESTION PAPER SET 2

A4 : 500 A

500 A

		Trade Theory		
33	33	What is the name of the part marked as 'X' in the MCB? MCB में 'X 'के रूप में चिह्नित भाग का नाम क्या है? 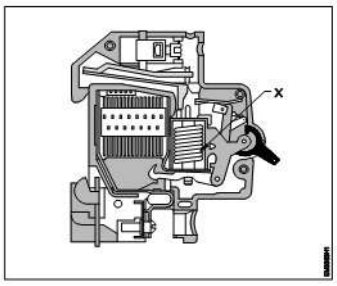 A1 : Latch लैच A2 : Plunger प्लंजर A3 : Solenoid सोलेनोइड A4 : Contact कांटेक्ट	2.0	0.00
		Trade Theory		
34	34	What is the name of the relay used in electrical circuit? विद्युत परिपथ में प्रयुक्त रिले का क्या नाम है? 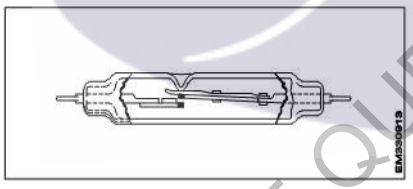 A1 : Latching relay लेचिंग रिले A2 : Ferreed relay फरीड रिले A3 : Dry reed relay ड्राई रीड रिले A4 : Voltage sensing relay वोल्टेज सेंसिंग रिले	2.0	0.00
		Trade Theory		
35	35	What is the current rating of tinned copper wire 40 SWG used for rewirable fuse? पुन: उपयोग करने योग्य फ्यूज के लिए उपयोग किए जाने वाले टिनडेड कॉपर वायर 40 SWG की करंट रेटिंग क्या है? A1 : 1.0 A 1.0 A A2 : 1.5 A 1.5 A	2.0	0.00

SAMPLE QUESTION PAPER SET 2

		A3 : 2.5 A 2.5 A A4 : 4.0 A 4.0 A		
		Trade Theory		
36	36	What is the name of the fuse cartridge part marked as 'X'? X 'के रूप में चिह्नित कार्टिज फ्यूज भाग का नाम क्या है? 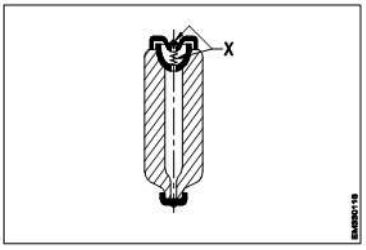 A1 : Heat contact हीट कांटेक्ट A2 : Fuse wire फ्यूज वायर A3 : Sand filling सैंड फिलिंग A4 : Break indicator ब्रेक इंडिकेटर	2.0	0.00
		Trade Theory		
37	37	What is the full form of ELCB used in Electrical circuit? इलेक्ट्रिकल सर्किट में प्रयुक्त किया ELCB का पूर्ण रूप क्या है? A1 : Earth Lead Circuit Breakers Earth Lead Circuit Breakers A2 : Electrical Live Contact Breakers Electrical Live Contact Breakers A3 : Equipment Load Circuit Breakers Equipment Load Circuit Breakers A4 : Earth Leakage Circuit Breakers Earth Leakage Circuit Breakers	2.0	0.00
		Trade Theory		
38	38	Which series MCB is used for protection of motor? मोटर की सुरक्षा के लिए किस श्रृंखला/सीरीज MCB का उपयोग किया जाता है? A1 : 'L' series MCBs 'L' सीरीज MCBs A2 : 'F' series MCBs 'F' सीरीज MCBs A3 : 'G' series MCBs 'G' सीरीज MCBs	2.0	0.00

SAMPLE QUESTION PAPER SET 2

		A4 : 'DC' series MCBs 'DC' सीरीज MCBs		
		Workshop Calculation Science		
39	39	Which metal contains iron as a major content? इनमे से किस धातु में प्रमुख सामग्री के रूप में लोहा होता है? A1 : Brass metal पीतल धातु A2 : Bronze metal ब्रोंज धातु A3 : Zinc ज़िंक A4 : Ferrous metal लोह धातु	2.0	0.00
		Workshop Calculation Science		
40	40	What is termed as the quantity of matter contained in a body? वस्तु में निहित पदार्थ की मात्रा को क्या कहा जाता है? A1 : Density घनत्व A2 : Volume आयतन A3 : Mass द्रव्यमान A4 : Specific gravity विशिष्ट गुरुत्व	2.0	0.00
		Workshop Calculation Science		
41	41	What is called mass per unit volume of a substances? किसी पदार्थ के द्रव्यमान प्रति इकाई आयतन को क्या कहते हैं? A1 : Mass द्रव्यमान A2 : Weight भार A3 : Density घनत्व A4 : Volume आयतन	2.0	0.00
		Workshop Calculation Science		
42	42	What is the S.I unit of heat? ऊष्मा की एस.आई. इकाई क्या है? A1 : Calorie Calorie A2 : Joule	2.0	0.00

SAMPLE QUESTION PAPER SET 2

		Joule A3 : Centigrade heat unit Centigrade heat unit A4 : British thermal unit British thermal unit		
		Workshop Calculation Science		
43	43	What is the value for specific heat of water? पानी की विशिष्ट ऊष्मा का मान क्या है? A1 : 4 4 A2 : 3 3 A3 : 2 2 A4 : 1 1	2.0	0.00
		Workshop Calculation Science		
44	44	At what temperature will Fahrenheit and centigrade thermometers give the same reading? किस तापमान पर फारेनहाइट और सेंटीग्रेड थर्मामीटर समान रीडिंग देते हैं? A1 : -38°C -38°C A2 : -39°C -39°C A3 : -40°C -40°C A4 : -41°C -41°C	2.0	0.00
		Engineering Drawing		
45	45	Identify the conventional symbol of material? सामग्री के पारंपरिक प्रतीक को पहचानें? 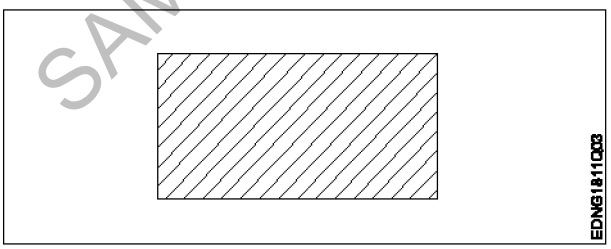 A1 : Lead लेड A2 : Steel इस्पात A3 : Glass	2.0	0.00

SAMPLE QUESTION PAPER SET 2

		कांच A4 : Porcelain चीनी मिटटी		
		Engineering Drawing		
46	46	Identify the conventional symbol of material? सामग्री के पारंपरिक प्रतीक को पहचानें? 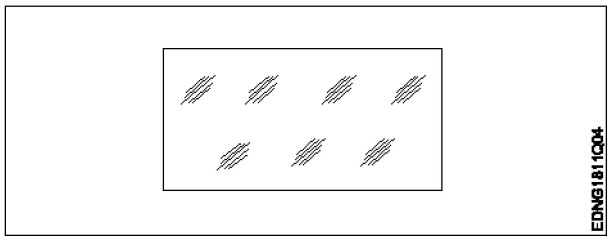 A1 : Concrete संगीत कार्यक्रम A2 : Steel इस्पात A3 : Wood लकड़ी A4 : Glass कांच	2.0	0.00
		Engineering Drawing		
47	47	Identify the conventional symbol of material? सामग्री के पारंपरिक प्रतीक को पहचानें? 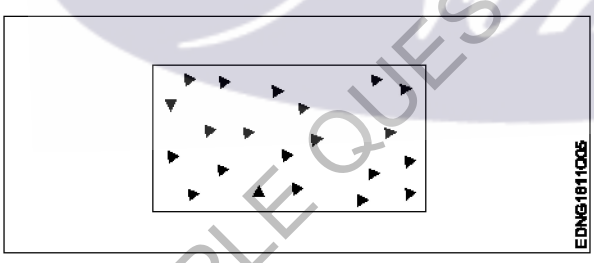 A1 : Steel इस्पात A2 : Wood लकड़ी A3 : Glass कांच A4 : Concrete ठोस	2.0	0.00
		Engineering Drawing		
48	48	What is the trimmed size of A4 sheet? A4 शीट का ट्रिम किया हुआ आकार क्या है? A1 : 841 x 1189	2.0	0.00

SAMPLE QUESTION PAPER SET 2

		841 x 1189 A2 : 594 x 841 594 x 841 A3 : 210 x 297 210 x 297 A4 : 148 x 210 148 x 210		
		Engineering Drawing		
49	49	Which drawing dimension is correct as per IS standard? IS मानक के अनुसार कौन सा ड्राइंग आयाम सही है? A1 : 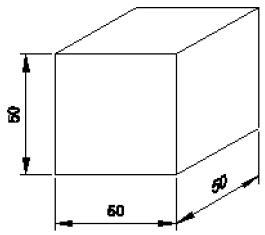 A2 : 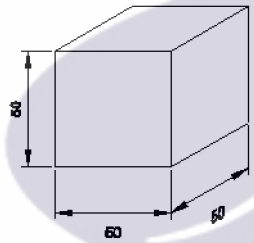 A3 : 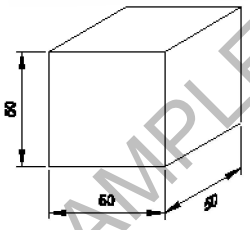 A4 : 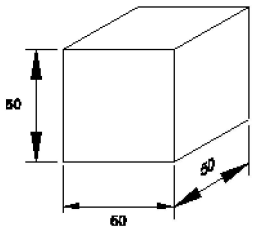 	2.0	0.00
		Engineering Drawing		
50	50	Identify the name of prism? चित्र में दिखाए गए प्रिज्म का नाम क्या है?	2.0	0.00

SAMPLE QUESTION PAPER SET 2

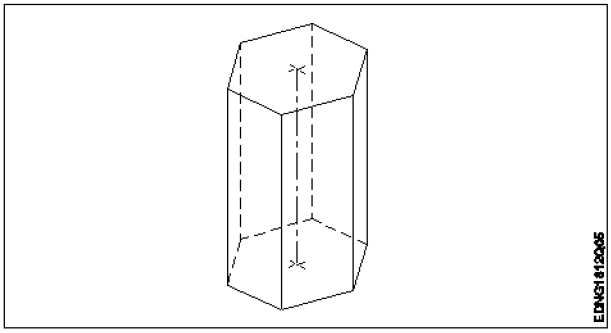

A1 : Square prism

स्कायर प्रिज्म

A2 : Pentagonal prism

पंचकोणीय प्रिज्म

A3 : Triangular prism

त्रिकोणीय प्रिज्म

A4 : Hexagonal prism

हेक्सागोनल प्रिज्म

		Employability Skills		
51	51	Fill in the blank with correct word. “They _____ good friends” रिक्त में सही शब्द भरें। “They_____good friends” A1 : is is A2 : am am A3 : are are A4 : was was	2.0	0.00
		Employability Skills		
52	52	Fill in the blank with present progressive tense of the verb. “The train _____ through the tunnel” क्रिया के वर्तमान प्रगतिशील काल के साथ रिक्त स्थान भरें। “The train _____ through the tunnel” A1 : passed passed A2 : is passing is passing A3 : had passed had passed A4 : was passing was passing	2.0	0.00
		Employability Skills		
53	53	Fill in the blank with proper interrogative adjective. _____ are you going? उचित ईंटोरोगेटिव विशेषण के साथ रिक्त स्थान भरें। _____ are you going?	2.0	0.00

SAMPLE QUESTION PAPER SET 2

		A1 : Who Who A2 : Where Where A3 : Which Which A4 : What What		
Employability Skills				
54	54	Fill in the blank with proper pronoun. “I made this cake _____” रिक्त स्थान में उचित सर्वनाम के साथ भरें। “I made this cake _____” A1 : myself myself A2 : yourself yourself A3 : himself himself A4 : itself itself	2.0	0.00
Employability Skills				
55	55	Fill in the blank with proper pronoun. “She made this cake _____” रिक्त स्थान में उचित सर्वनाम के साथ भरें। “She made this cake _____” A1 : itself itself A2 : myself myself A3 : herself herself A4 : himself himself	2.0	0.00
Employability Skills				
56	56	Fill in the blank with proper reflexive pronoun. “She has hurt_____” रिक्त स्थान में उचित प्रतिवर्ती सर्वनाम के साथ भरें। “She has hurt_____” A1 : myself myself A2 : herself herself A3 : himself himself A4 : itself itself	2.0	0.00
Employability Skills				

SAMPLE QUESTION PAPER SET 2

57	57	Fill in the blank with suitable adjective for the given sentence “The little girl’s…… eyes revealed her mischief” दिए गए वाक्य के लिए उपयुक्त विशेषण के साथ रिक्त स्थान भरें “The little girl’s…… eyes revealed her mischief” A1 : chubby chubby A2 : weak weak A3 : short sighted short sighted A4 : twinkling twinkling	2.0	0.00
Employability Skills				
58	58	Fill in the blank with suitable place preposition. “My house is _____ the third floor” उपयुक्त स्थान पूर्वसर्ग के साथ रिक्त स्थान भरें। “My house is _____the third floor” A1 : at at A2 : in in A3 : on on A4 : under under	2.0	0.00
Employability Skills				
59	59	Fill in the correct question word. “_____ is the speaker at the function?” सही प्रश्न शब्द भरें। “_____is the speaker at the function?” A1 : What What A2 : When When A3 : Why Why A4 : Who Who	2.0	0.00
Employability Skills				
60	60	Low level language is also called _____. निम्न स्तर की भाषा को _____ भी कहा जाता है A1 : source code सोर्स कोड A2 : middle ware मध्यस्थ A3 : machine language मशीन भाषा	2.0	0.00

SAMPLE QUESTION PAPER SET 2

		A4 : assembly language असेंबली भाषा		
		Employability Skills		
61	61	Pronunciation refers to_____. उच्चारण _____ को संदर्भित करता है A1 : diphthong संयुक्त स्वर A2 : consonant व्यंजन A3 : punctuation विराम चिह्न A4 : production of sound ध्वनि का उत्पादन	2.0	0.00
		Employability Skills		
62	62	Re-arrange the following set of words into meaningful sentence. “teacher / school / worked / she / a / as”. शब्दों के निम्नलिखित सेट को सार्थक वाक्य में फिर से व्यवस्थित करें। “teacher / school / worked / she / a / as” A1 : School worked as a she teacher School worked as a she teacher A2 : She worked as a school teacher She worked as a school teacher A3 : She teacher worked as a school She teacher worked as a school A4 : Worked she as a school teacher Worked she as a school teacher	2.0	0.00
		Employability Skills		
63	63	Rise and fall of pitch of voice is called _____. आवाज की पिच का उठना और गिरना _____ कहलाता है A1 : vowel स्वर A2 : intonation आवाज़ का उतार-चढ़ाव A3 : consonant व्यंजन A4 : pronunciation उच्चारण	2.0	0.00
		Employability Skills		
64	64	The word that expresses a sudden and strong feeling is called _____. वह शब्द जो अचानक और मजबूत भावना व्यक्त करता है उसे _____ कहा जाता है A1 : punctuation विराम चिह्न A2 : interjection	2.0	0.00

SAMPLE QUESTION PAPER SET 2

		विस्मयादिबोधक A3 : conjunction संयोजन के रूप A4 : apostrophe एपोसट्राफी		
		Employability Skills		
65	65	When you greet higher official's such as Teacher, Instructor or Supervisor, you should use _____. जब आप शिक्षक, प्रशिक्षक या पर्यवेक्षक जैसे उच्च अधिकारियों का अभिवादन करते हैं, तो आपको _____ का उपयोग करना चाहिए A1 : Good morning Good morning A2 : Hello Hello A3 : Hey Hey A4 : Hi Hi	2.0	0.00
		Employability Skills		
66	66	Which is a silent letter in the word "ANSWER"? "ANSWER" शब्द में कौन सा मूक अक्षर है? A1 : R R A2 : E E A3 : S S A4 : W W	2.0	0.00
		Employability Skills		
67	67	Which one is a "Do's" of discussion etiquettes? चर्चा के शिष्टाचारों में से कौन सा "Do's" है? A1 : Loose your temper अपना आपा खोएं A2 : Listen to others दूसरों की सुनें A3 : Talk about irrelevant details अप्रासंगिक विवरण के बारे में बात करें A4 : Use impolite or rude language अभद्र या अशिष्ट भाषा का उपयोग करें	2.0	0.00
		Employability Skills		
68	68	Which one is a "Don't" of discussion etiquette? चर्चा शिष्टाचार का "Don't" है? A1 : Be open minded	2.0	0.00

SAMPLE QUESTION PAPER SET 2

		दिमाग खुला रखना A2 : Use moderate tone मध्यम स्वर का प्रयोग करें A3 : Listen to others दूसरों की सुनें A4 : Argue unnecessary अनावश्यक बहस करें		
		Employability Skills		
69	69	Which one is a brain of computer? कंप्यूटर का मस्तिष्क कौन सा है? A1 : Keyboard कीबोर्ड A2 : CPU सी पी यू A3 : Monitor मॉनिटर A4 : Hard disk हार्ड डिस्क	2.0	0.00
		Employability Skills		
70	70	Which one is an exclamatory sentence? कौन सा विस्मयादिबोधक वाक्य है? A1 : What a beautiful house it is! What a beautiful house it is! A2 : It is a beautiful house. It is a beautiful house. A3 : Is it a beautiful house? Is it a beautiful house? A4 : Your house is beautiful. Your house is beautiful.	2.0	0.00
		Employability Skills		
71	71	Which one is in active voice? सक्रिय आवाज में कौन सा है? A1 : Ram has passed the exam. Ram has passed the exam. A2 : The ball was caught by him. The ball was caught by him. A3 : The book was being read by her. The book was being read by her. A4 : We were driven home by dad. We were driven home by dad.	2.0	0.00
		Employability Skills		
72	72	Which one is in passive voice?	2.0	0.00

SAMPLE QUESTION PAPER SET 2

		निष्क्रिय आवाज में कौन सा है? A1: Mohan is painting a house. Mohan is painting a house. A2: She was reading a book. She was reading a book. A3: Her birthday was celebrated by us. Her birthday was celebrated by us. A4: I have seen that movie. I have seen that movie.		
		Employability Skills		
73	73	Which one is NOT a conjunction? कौन सा एक संयोजन नहीं है? A1: And And A2: Or Or A3: But But A4: On On	2.0	0.00
		Employability Skills		
74	74	Which one is NOT a benefit of the role playing? भूमिका निभाने का कौन सा लाभ नहीं है? A1: Builds confidence आत्मविश्वास पैदा करता है A2: Develops listening skill सुनने का कौशल विकसित करता है A3: Develops creative problem-solving skill रचनात्मक समस्या-समाधान कौशल विकसित करता है A4: Develops boredom बोरियत पैदा करता है	2.0	0.00
		Employability Skills		
75	75	Which one is NOT a vowel? कौन सा स्वर नहीं है? A1: a a A2: e e A3: f f A4: i	2.0	0.00

SAMPLE QUESTION PAPER SET 2

SAMPLE QUESTION PAPER SET 2

Technician Medical Electronics - 1st Year - Set 2

S.No.	Correct Answer Key
1	A1
2	A3
3	A4
4	A3
5	A1
6	A4
7	A3
8	A3
9	A2
10	A4
11	A3
12	A3
13	A1
14	A3
15	A3
16	A4
17	A3
18	A2
19	A4
20	A2
21	A3
22	A3
23	A3
24	A2
25	A1
26	A3
27	A1
28	A2
29	A2
30	A2
31	A3
32	A1
33	A3
34	A3
35	A2
36	A4
37	A4
38	A3

S.No.	Correct Answer Key
39	A4
40	A3
41	A3
42	A2
43	A4
44	A3
45	A2
46	A4
47	A4
48	A3
49	A1
50	A4
51	A3
52	A2
53	A2
54	A1
55	A3
56	A2
57	A4
58	A3
59	A4
60	A3
61	A4
62	A2
63	A2
64	A2
65	A1
66	A4
67	A2
68	A4
69	A2
70	A1
71	A1
72	A3
73	A4
74	A4
75	A3

KEY ANSWER SET 2

Note:
"In case answers found to be inaccurate due to typographical error or any other reason please sent mail to **qbnimigrievance@gmail.com**"