Max Marks : 150

All India Trade Test - 2024 for Craftsmen Training Scheme (CTS)
Trade Name: Technician Medical Electronics
Year: 2nd Year

Exam Date :
Exam Time :

Note:
1. Tick the correct option out of four alternatives provided
2. All questions carry equal marks (2 Marks each)
3. There is no negative marking

SAMPLE QUESTION PAPER SET 1

Sr. No.	Q ID	Question Body and Alternatives	Marks	Negative Marks
		Trade Theory		
1	1	What is the working principle of constant voltage transformer (CVT)? स्थिर वोल्टेज ट्रांसफार्मर (CVT) का कार्य सिद्धांत क्या है? A1 : Ferroresonance फेरो रेसोनेन्स A2 : Ferro magnetism फेरो चुंबकत्व A3 : Servo mechanism सर्वो तंत्र A4 : Electro mechanism इलेक्ट्रो तंत्र	2.0	0.00
		Trade Theory		
2	2	Which part of the computer is connected by the 20/24 ATX connector from the SMPS unit? कंप्यूटर का कौन सा भाग एसएमपीएस इकाई से 20/24 एटीएक्स कनेक्टर द्वारा जुड़ा हुआ है? A1 : Motherboard मदरबोर्ड A2 : Hard disc drive हार्ड डिस्क ड्राइव A3 : CPU cooler fan सीपीयू कूलर पंखा A4 : DVD ROM / Writer DVD ROM/ राईटर	2.0	0.00
		Trade Theory		
3	3	What is the name of the forward converter type SMPS? फॉरवर्ड कन्वर्टर टाइप SMPS का नाम क्या है? A1 : Boost converter बूस्ट कनर्वटर A2 : Fly back converter फ्लाई बेक कन्वर्टर	2.0	0.00

		A3 : Isolation converter आईसोलेशन कनवर्टर A4 : DC to DC buck converter डीसी से डीसी बक कनवर्टर		
		Trade Theory		
4	4	Which electronic component maintains constant output voltage in the power supply section marked 'X'? कौन सा इलेक्ट्रॉनिक घटक ' X ' के विद्युत आपूर्ति खंड में निरंतर आउटपुट वोल्टेज बनाए रखता है? 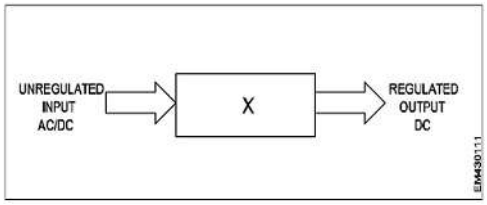 A1 : Rheostat रिओस्टेट A2 : Transistor ट्रांजिस्टर A3 : Zener diode ज़ेनर डायोड A4 : Potentiometer पोटेनशीओमीटर	2.0	0.00
		Trade Theory		
5	5	Which IC is used in the pulse width modulation circuit of computer SMPS? कंप्यूटर SMPS की पल्स विड्थ मॉड्यूलेशन सर्किट में किस IC का उपयोग किया जाता है? A1 : TL 494 TL 494 A2 : NE 555 NE 555 A3 : UA 741 UA 741 A4 : LM 2576 LM 2576	2.0	0.00
		Trade Theory		
6	6	Which mode of operation the transformer is connected? निम्न आरेख मे ट्रांसफार्मर किस संचालन मे जुड़ा हुआ है? 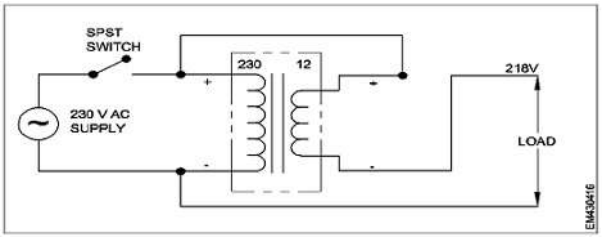 A1 : Buck operation बक संचालन	2.0	0.00

SAMPLE QUESTION PAPER SET 1

		A2 : Boost operation बूस्ट संचालन A3 : Low cut off mode कम कट ऑफ मोड A4 : High cut off mode हाई कट ऑफ मोड		
Trade Theory				
7	7	Which type of circuit function is used in the SMPS? किस प्रकार के सर्किट फ़ंक्शन का उपयोग एसएमपीएस में किया जाता है? 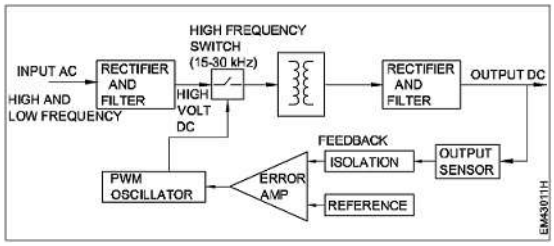 A1 : Fly back converter फ्लाई बेक कन्वर्टर A2 : Forward converter फॉरवर्ड कनवर्टर A3 : DC to AC converter डीसी से एसी कनवर्टर A4 : AC to DC converter एसी से डीसी कनवर्टर	2.0	0.00
Trade Theory				
8	8	Which mode of operation, the transformer is connected? ट्रांसफार्मर किस मोड मे जुड़ा हुआ है? 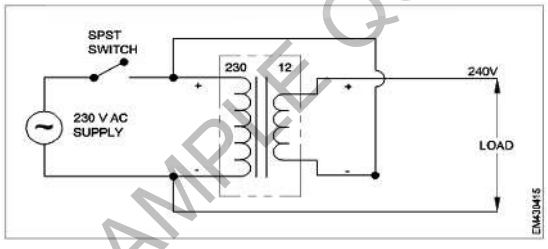 A1 : Low cut off mode लो कट ऑफ मोड A2 : High cut off mode हाई कट ऑफ मोड A3 : Buck operation mode बक ऑपरेशन मोड A4 : Boost operation mode बूस्ट ऑपरेशन मोड	2.0	0.00
Trade Theory				
9	9	Which circuit uses the regulator sampling PWM technique? पीडब्लूएम तकनीक के नमूने को कौन सा सर्किट इस्तेमाल करता है?	2.0	0.00

SAMPLE QUESTION PAPER SET 1

		A1 : Regulator रेगुलेटर A2 : Power amplifiers पावर एम्पलीफायर A3 : High power inverters हाई पावर इनवर A4 : Rectifiers रेक्टिफायर		
		Trade Theory		
10	10	What is the purpose of inverter? इन्वर्टर का उद्देश्य क्या है? A1 : Converts AC to DC एसी को डीसी में रूपांतरित करता है A2 : Converts AC to AC एसी को एसी में परिवर्तित करता है A3 : Converts DC to AC डीसी को एसी में परिवर्तित करता है A4 : Converts DC to DC डीसी को डीसी में परिवर्तित करता है	2.0	0.00
		Trade Theory		
11	11	What is the output waveform of ideal inverter? आदर्श इनवर्टर का आउटपुट बेवफॉर्म क्या है? A1 : Saw tooth wave एसएडबल्यू टूट वेव A2 : Square wave स्केर वेव A3 : Pulse wave पल्स वेव A4 : Sinusoidal wave साइनसोइडल वेव	2.0	0.00
		Trade Theory		
12	12	What is the name of the OFF line UPS section marked 'X'? ऑफ लाइन यूपीएस खंड मे 'x' के रूप में चिह्नित का नाम क्या है 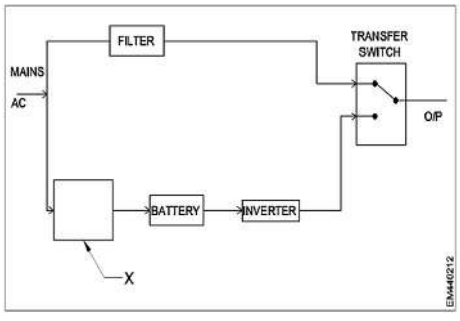 A1 : Digital controller	2.0	0.00

SAMPLE QUESTION PAPER SET 1

		डिजिटल कोंट्रोलर A2 : Battery charger बैटरी चार्जर A3 : Load relay लोड रिले A4 : Voltage regulator वोल्टेज रेगुलेटर		
		Trade Theory		
13	13	What is the type of UPS? UPS का प्रकार क्या है? 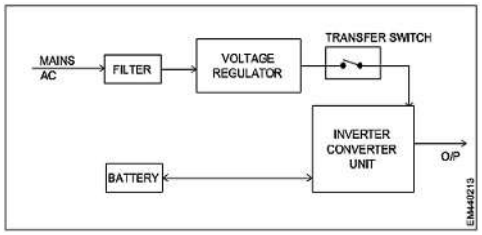 A1 : ON line UPS ऑन लाइन यूपीएस A2 : OFF line UPS ऑफ लाइन यूपीएस A3 : Industrial type UPS औद्योगिक प्रकार यूपीएस A4 : Line interactive UPS लाइन इंटरएक्टिव यूपीएस	2.0	0.00
		Trade Theory		
14	14	What is the full form of the UPS? UPS का फुल फॉर्म क्या है? A1 : Unlimited Power Supply Unlimited Power Supply A2 : Uninterrupted Power Supply Uninterrupted Power Supply A3 : Uprooted Power Supply Uprooted Power Supply A4 : Utility Power Supply Utility Power Supply	2.0	0.00
		Trade Theory		
15	15	Which method of earth resistance measurement is experimented? निम्न प्रयोग मे पृथ्वी प्रतिरोध मापन की किस विधि का प्रयोग किया गया है?	2.0	0.00

SAMPLE QUESTION PAPER SET 1

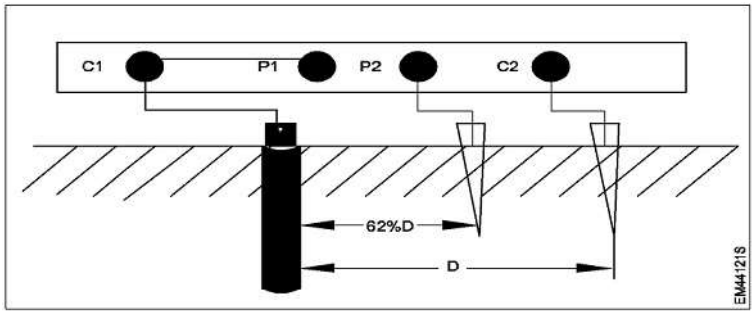

A1 : Two point method

दो बिंदु विधि

A2 : Four point method

चार बिंदु विधि

A3 : Three point method

तीन बिंदु विधि

A4 : Single point method

एकल बिंदु विधि

		Trade Theory		
16	16	Which is equal to the ratio of the real power to the apparent power? स्पष्ट शक्ति के वास्तविक शक्ति के अनुपात के बराबर है? A1 : Load factor लोड फैक्टर A2 : Power factor पावर फैक्टर A3 : Utility factor यूटिलिटी फैक्टर A4 : Optimise factor ओपटीमाईस फैक्टर	2.0	0.00
		Trade Theory		
17	17	What is the ambient temperature maintained to extend the life of UPS? UPS के जीवनकाल को बढ़ाने के लिए बनाए गए परिवेश के तापमान क्या है? A1 : 10^oC to 15^oC 10^oC to 15^oC A2 : 15^oC to 25^oC 15^oC to 25^oC A3 : 25^oC to 30^oC 25^oC to 30^oC A4 : 30^oC to 35^oC 30^oC to 35^oC	2.0	0.00
		Trade Theory		
18	18	What is the efficiency of linear power supply? रैखिक विद्युत आपूर्ति की दक्षता क्या है?	2.0	0.00

SAMPLE QUESTION PAPER SET 1

		A1 : 30% - 40% 30% - 40% A2 : 40% - 50% 40% - 50% A3 : 50% - 60% 50% - 60% A4 : 60% - 75% 60% - 75%		
		Trade Theory		
19	19	What is the purpose of the Metal Oxide Varistor connected across the AC supply terminals of SMPS? SMPS के AC आपूर्ति टर्मिनलों से जुड़े धातु ऑक्साइड वैरिस्टर का उद्देश्य क्या है? A1 : Regulates output उत्पादन को नियंत्रित करता है A2 : Prevent overload ओवरलोड को रोकें A3 : Prevent surge voltage सर्ज वोल्टेज को रोकें A4 : Prevent low input voltage कम इनपुट वोल्टेज को रोकें	2.0	0.00
		Trade Theory		
20	20	What is the type of converter? कनवर्टर का प्रकार क्या है? 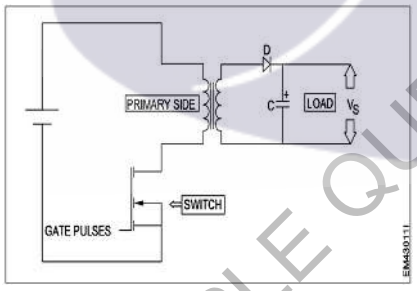 A1 : Fly back converter फ्लाई बैक कनवर्टर A2 : DC to AC converter DC टु AC कनवर्टर A3 : AC to DC converter AC टु DC कनवर्टर A4 : Forward type converter फॉरवर्ड टाइप कनवर्टर	2.0	0.00
		Trade Theory		
21	21	What is the operating frequency of linear power supply? रैखिक विद्युत आपूर्ति की परिचालन आवृत्ति क्या है? A1 : 20 Hz to 25 Hz 20 Hz to 25 Hz	2.0	0.00

SAMPLE QUESTION PAPER SET 1

		A2 : 50 Hz to 60 Hz 50 Hz to 60 Hz A3 : 5 KHz to 10 KHz 5 KHz to 10 KHz A4 : 15 KHz to 1 MHz 15 KHz to 1 MHz		
Trade Theory				
22	22	Which test is conducted through the experiment? प्रयोग के माध्यम से कौन सा परीक्षण आयोजित किया गया है? 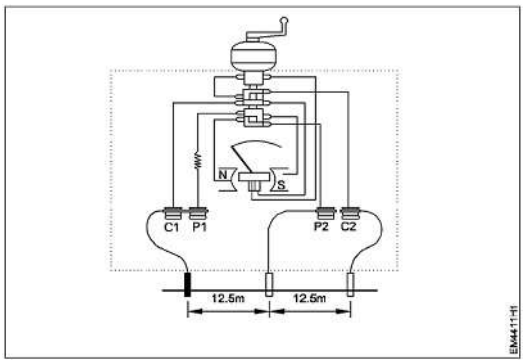 A1 : Measure soil ratio मृदा अनुपात को मापें A2 : Measure soil resistivity मिट्टी की प्रतिरोधकता को मापें A3 : Measure earth vibration पृथ्वी कंपन को मापें A4 : Measure earth resistance पृथ्वी प्रतिरोध को मापें	2.0	0.00
Trade Theory				
23	23	What is the standard range of optical fiber cable diameter in mm? ऑप्टिकल फाइबर केबल का व्यास की मानक सीमा (मिमी में) क्या होगी?	2.0	0.00
		A1 : 0.01mm to 0.1mm 0.01mm to 0.1mm A2 : 0.1mm to 0.2mm 0.1mm to 0.2mm A3 : 0.25mm to 0.5mm 0.25mm to 0.5mm A4 : 0.5mm to 1.5mm 0.5mm to 1.5mm		
Trade Theory				
24	24	What is the wavelength of visible light spectrum? दृश्यमान प्रकाश स्पेक्ट्रम की तरंग दैर्ध्य क्या है?	2.0	0.00
		A1 : 200 to 250 nanometer 200 to 250 nanometer A2 : 250 to 380 nanometer		

SAMPLE QUESTION PAPER SET 1

		250 to 380 nanometer A3 : 380 to 750 nanometer 380 to 750 nanometer A4 : 750 to 980 nanometer 750 to 980 nanometer		
Trade Theory				
25	25	What is the core diameter size of single mode optical fiber? सिंगल मोड ऑप्टिकल फाइबर का मुख्य व्यास आकार क्या है? A1 : 3.25×10^{3} inches 3.25×10^{3} inches A2 : 3.5×10^{-4} inches 3.5×10^{-4} inches A3 : 3.5×10^{-6} inches 3.5×10^{-6} inches A4 : 3.8×10^{-3} inches 3.8×10^{-3} inches	2.0	0.00
Trade Theory				
26	26	What is the name of part marked 'X' in the multi mode optical fiber cable? मल्टी मोड ऑप्टिकल फाइबर केबल में 'X' के रूप में चिह्नित भाग का नाम क्या है? 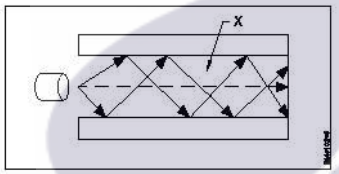 A1 : Core कोर A2 : Cladding क्लेडिंग A3 : Buffer jacket बफ़र जैकेट A4 : Strength member स्ट्रेंथ नंबर	2.0	0.00
Trade Theory				

SAMPLE QUESTION PAPER SET 1

27	27	What is the full form of the OTDR? OTDR का पूर्ण रूप क्या है? A1 : Optical Time Domain Regulator Optical Time Domain Regulator A2 : Optical Time Domain Reflectometer Optical Time Domain Reflectometer A3 : Optical Time Domain Reflector Optical Time Domain Reflector A4 : Optical Time Domain Refractor Optical Time Domain Refractor	2.0	0.00
		Trade Theory		
28	28	Which method is used to transmit information by means of light pulses? लाइट पल्स के माध्यम से सूचना प्रसारित करने के लिए किस पद्धति का उपयोग किया जाता है? A1 : Radio wave communication रेडियो तरंग संचार A2 : Copper wire communication कॉपर वायर संचार A3 : Microwave communication माइक्रोवेव संचार A4 : Fiber optic communication फाइबर ऑप्टिक संचार	2.0	0.00
		Trade Theory		
29	29	Which type of optical fiber is used to carry telephone and television signals? टेलीफोन और टेलीविज़न संकेतों को ले जाने के लिए किस प्रकार के ऑप्टिकल फाइबर का उपयोग किया जाता है? A1 : Single mode fiber सिंगल मोड फाइबर A2 : Multi mode fiber मल्टी मोड फाइबर A3 : Step index fiber स्टेप इंडेक्स फाइबर A4 : Graded index fiber ग्रेडेड इंडेक्स फाइबर	2.0	0.00
		Trade Theory		
30	30	Which optical fiber is best suited for local area network applications? लोकल एरीया नेटवर्क अनुप्रयोगों के लिए कौन सा ऑप्टिकल फाइबर सबसे उपयुक्त है? A1 : Single mode fiber सिंगल मोड फाइबर A2 : Multi mode fiber मल्टी मोड फाइबर A3 : Step index fiber स्टेप इंडेक्स फाइबर	2.0	0.00

SAMPLE QUESTION PAPER SET 1

		A4 : Graded index fiber ग्रेडेड इंडेक्स फाइबर		
		Trade Theory		
31	31	What type of joining technique is used for fiber optic cables? फाइबर ऑप्टिक केबल के लिए किस प्रकार की ज्वाइनिंग तकनीक का उपयोग किया जाता है? A1 : Fusion techniques फ्यूजन तकनीक A2 : Epoxy techniques एपॉक्सी तकनीक A3 : Welding techniques वेल्डिंग तकनीक A4 : Soldering techniques सोल्डरिंग तकनीक	2.0	0.00
		Trade Theory		
32	32	Which technology has replaced the copper wire in the core communication networks? कोर संचार नेटवर्क में तांबे के तार की जगह किस तकनीक ने ले ली है? A1 : Satelite communication सैटलाइट संचार A2 : Radio wave communication रेडियो तरंग संचार A3 : Micro wave communication सूक्ष्म तरंग संचार A4 : Fiber optical communication फाइबर ऑप्टिकल संचार	2.0	0.00
		Trade Theory		
33	33	Which parameter makes the fiber optic communication is the perfect choice for transmitting broad band signals? कौन सा पैरामीटर बनाता है फाइबर ऑप्टिक संचार ब्रॉड बैंड संकेतों को प्रसारित करने के लिए सही विकल्प है? A1 : Lower line loss लोअर लाइन लॉस A2 : Wider bandwidth व्यापक बैंडविड्थ A3 : Low maintenance कम रखरखाव A4 : Environment immunity पर्यावरण उन्मुक्ति	2.0	0.00
		Trade Theory		
34	34	What is the refractive index of vacuum? वैक्यूम का रेफ़्रेक्टिव इंडेक्स क्या है? A1 : 1 1 A2 : Less than 1	2.0	0.00

SAMPLE QUESTION PAPER SET 1

		Less than 1 A3 : Greater than 1 Greater than 1 A4 : Infinity Infinity		
		Trade Theory		
35	35	What is the basis for the selection of LED or LASER diode as the light source in optical fiber communication? ऑप्टिकल फाइबर संचार में प्रकाश स्रोत के रूप में एलईडी या लेजर डायोड के चयन का आधार क्या है? A1 : Amplitude आयाम A2 : Frequency आवृत्ति A3 : Application ऐप्लीकेशन A4 : Operating temperature परिचालन तापमान	2.0	0.00
		Trade Theory		
36	36	Which material is used for fabrication of fiber optical cable core? फाइबर ऑप्टिकल केबल कोर के निर्माण के लिए किस सामग्री का उपयोग किया जाता है? A1 : Nylon नायलॉन A2 : Copper wire तांबे का तार A3 : Synthetic plastic सिंथेटिक प्लास्टिक A4 : Silicon glass सिलिकॉन ग्लास	2.0	0.00
		Trade Theory		
37	37	Which instrument is used to test the fiber optic cable? फाइबर ऑप्टिक केबल का परीक्षण करने के लिए किस उपकरण का उपयोग किया जाता है? A1 : CRO CRO A2 : DMM DMM A3 : OTDR OTDR A4 : MRI MRI	2.0	0.00
		Trade Theory		
38	38	What is the name of optical fiber cable part marked ‘X’? ऑप्टिकल फाइबर केबल भाग? X ’का नाम क्या है?	2.0	0.00

SAMPLE QUESTION PAPER SET 1

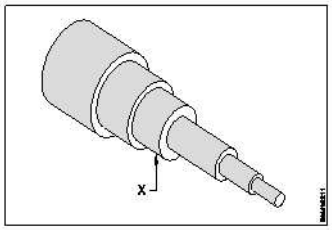

A1 : Core

कोर

A2 : Cladding

क्लैडिंग

A3 : Buffer jacket

बफर जैकेट

A4 : Strength member

शक्ति सदस्य

Workshop Calculation Science

39	39	What is the value of 14x+3y+25x+2y? 14x +3y+25x+2y का मान क्या है? A1 : 17x + 27y 17x + 27y A2 : 16x + 28y 16x + 28y A3 : 39x + 5y 39x + 5y A4 : 44xy 44xy	2.0	0.00

Workshop Calculation Science

40	40	What is the multiplication value of $5a^2b$ x $8a^5b^3$? $5a^2b$ x $8a^5b^3$ का गुणन मान क्या है? A1 : $40a^7b^4$ $40a^7b^4$ A2 : $40a^3b^2$ $40a^3b^2$ A3 : $40a^4b^7$ $40a^4b^7$ A4 : $40a^2b^3$ $40a^2b^3$	2.0	0.00

Workshop Calculation Science

41	41	What is the value of x if 13+x =20? यदि 13+x = 20 है तो x का मान क्या है? A1 : 8 8	2.0	0.00

SAMPLE QUESTION PAPER SET 1

		A2 : 7 7 A3 : 9 9 A4 : 13 13		
		Workshop Calculation Science		
42	42	What is the formula for $a^m x\ a^n$? $a^m \times a^n$ के लिए फार्मूला क्या है? A1 : a^{m+n} a^{m+n} A2 : a^{m-n} a^{m-n} A3 : a^{mn} a^{mn} A4 : $n.a^m$ $n.a^m$	2.0	0.00
		Workshop Calculation Science		
43	43	Which is the formula for कौन सा सूत्र है $\frac{a^m}{a^n}$? A1 : a^{m+n} a^{m+n} A2 : a^{m-n} a^{m-n} A3 : $a^{m \times n}$ $a^{m \times n}$ A4 : $(a^m)^n$ $(a^m)^n$	2.0	0.00
		Workshop Calculation Science		
44	44	What is the value of का मान क्या है $\frac{1}{a^m}$? A1 : a^m a^m A2 : a^{-m} a^{-m} A3 : $\sqrt[m]{a}$	2.0	0.00

SAMPLE QUESTION PAPER SET 1

		$^{m}\sqrt{a}$ A4 : $^{a}\sqrt{m}$ $^{a}\sqrt{m}$		
		Engineering Drawing		
45	45	Identify this picture इस तस्वीर को पहचानें 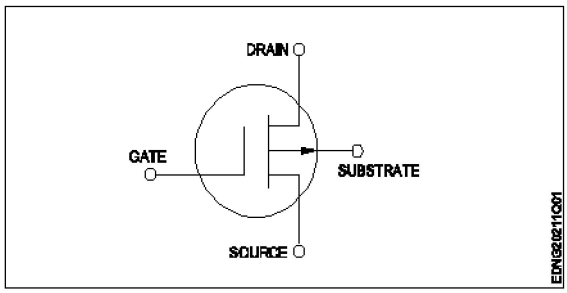 A1 : N-channel MOSFET N-चैनल MOSFET A2 : P-channel MOSFET P-चैनल MOSFET A3 : NPN transistor NPN ट्रांजिस्टर A4 : PNP transistor PNP ट्रांजिस्टर	2.0	0.00
		Engineering Drawing		
46	46	Which is the short circuit? शॉर्ट सर्किट कौन सा है? A1 : 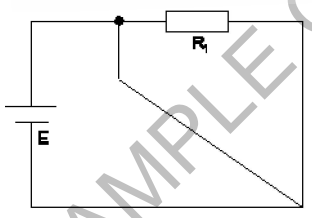 A2 : 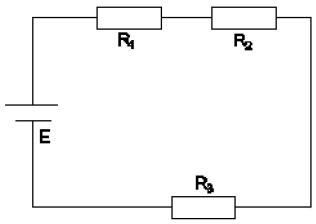 A3 :	2.0	0.00

SAMPLE QUESTION PAPER SET 1

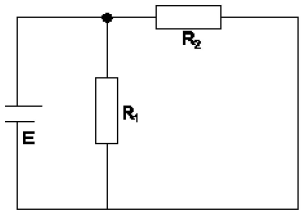

A4 :

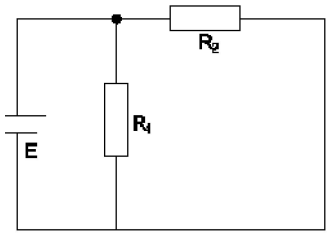

		Engineering Drawing		
47	47	Identify the type of resistor. रेसिस्टर के प्रकार को पहचानें।  A1 : Metal film resistor मेटेल फिल्म रेसिस्टर A2 : Carbon composition resistor कार्बन कम्पोजिशन रेसिस्टर A3 : Potentiometer पोटेंशियोमीटर A4 : Wire wound resistor वायर वाउंड रेसिस्टर	2.0	0.00
		Engineering Drawing		
48	48	What is the form of curve that represents Ohm's law? वक्र का वह रूप क्या है जो ओम के नियम का प्रतिनिधित्व करता है? A1 : Parabolic पेराबोलिक A2 : Hyperbolic हेईपरबोलिक A3 : Linear रैखिक A4 : Sinusoidal	2.0	0.00

SAMPLE QUESTION PAPER SET 1

		सिनुसाइडल		
		Engineering Drawing		
49	49	What is the name of the symbol? प्रतीक का नाम क्या है? 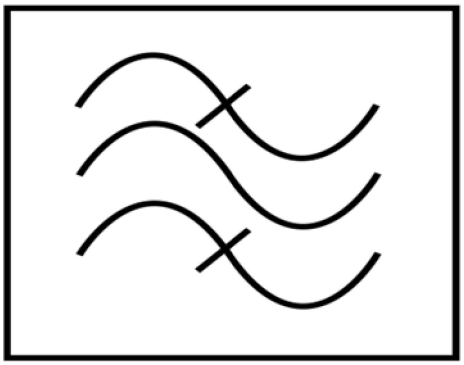 A1 : Band-pass filter बैंड-पास फिल्टर A2 : Band-stop filter बैंड-स्टॉप फ़िल्टर A3 : Low-pass filter लो-पास फिल्टर A4 : High-pass filter हाई-पास फिल्टर	2.0	0.00
		Engineering Drawing		
50	50	Name the symbol. प्रतीक का नाम बताइए। 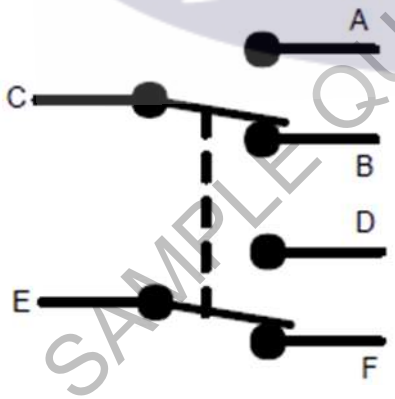 A1 : ICDP ICDP A2 : ICTP ICTP A3 : DPDT DPDT A4 : DTDP DTDP	2.0	0.00
		Employability Skills		
51	51	Which is the most essential skill to get a job?	2.0	0.00

SAMPLE QUESTION PAPER SET 1

		नौकरी पाने के लिए सबसे जरूरी स्किल कौन सी है? A1 : Interview Skill इंटरव्यू स्किल A2 : Translation Skill ट्रांसलेशन स्किल A3 : Entrepreneurship Skill एंटरप्रेन्योरशिप स्किल A4 : Learning more language skill और अधिक भाषा कौशल सीखना		
		Employability Skills		
52	52	For applying a job your first preparation is _____ नौकरी के लिए आवेदन करने के लिए आपकी पहली तैयारी _____ है । A1 : book a ticket to interview place साक्षात्कार स्थल के लिए एक टिकट बुक करें A2 : save money for expenses खर्चों के लिए पैसे बचाएं A3 : preparing resume बायोडाटा तैयार करें A4 : prepare for interview इंटरव्यू के लिए तैयारी करें	2.0	0.00
		Employability Skills		
53	53	Campus recruitment is conducted at _____ कैम्पस भर्ती _____ में आयोजित की जाती है । A1 : capital city of the state राज्य की राजधानी में A2 : ITI ITI A3 : in a company कंपनी में A4 : on line ऑनलाइन	2.0	0.00
		Employability Skills		
54	54	In your resume, which information has less importance? आपके बायोडाटा में कौन सी जानकारी कम महत्व रखती है? A1 : Qualification योग्यता A2 : Experience अनुभव A3 : Skill training completed पुरे हुए कौशल प्रशिक्षण	2.0	0.00

SAMPLE QUESTION PAPER SET 1

		A4 : Expected salary अपेक्षित वेतन		
		Employability Skills		
55	55	The ability to connect well with people _____ लोगों के साथ अच्छी तरह जुड़ने की क्षमता _____ है । A1 : interpersonal skill इंटरपर्सनल स्किल A2 : leadership लीडरशिप A3 : time management टाइम मैनेजमेंट A4 : creativity क्रिएटिविटी	2.0	0.00
		Employability Skills		
56	56	The ability to wait and stay calm _____ प्रतीक्षा करने और शांत रहने की क्षमता _____ है । A1 : creativity क्रिएटिविटी A2 : problem solving प्रॉब्लम सॉल्विंग A3 : patience पेशेंस A4 : interpersonal skill इंटरपर्सनल स्किल	2.0	0.00
		Employability Skills		
57	57	Punctuality means _____ समय की पाबंदी का अर्थ _____ है । A1 : done by punching machine पंचिंग मशीन द्वारा किया गया है A2 : informal इनफॉर्मल A3 : politeness पलाइट्नेस A4 : being on time समय पर होना	2.0	0.00
		Employability Skills		
58	58	When you borrow a pen from your classmate, you should say? जब आप अपने सहपाठी से कलम उधार लेते हैं, तो आपको क्या कहना चाहिए? A1 : Give me your pen मुझे अपना पेन दो A2 : Can you please give me a pen	2.0	0.00

SAMPLE QUESTION PAPER SET 1

		क्या आप कृपया मुझे एक पेन दे सकते हैं A3 : I want a pen मुझे एक पेन चाहिए A4 : I take your pen मैं आपका पेन लेता हूं		
		Employability Skills		
59	59	Magnificent, sharp, lengthy, bright, - are examples of _____ मैग्निफिकेंट, शार्प, लेंग्थी, ब्राइट, - _____ के उदाहरण हैं A1 : describing words डिस्क्राइबिंग वर्ड्स A2 : action words एक्शन वर्ड्स A3 : nouns नाउन A4 : pronouns प्रोनाउन	2.0	0.00
		Employability Skills		
60	60	Table, wire, socket, cable, hammer, nail - are _____ टेबल, तार, सॉकेट, केबल, हथौड़ा, कील _____ हैं। A1 : describing words डिस्क्राइबिंग वर्ड्स A2 : pronouns प्रोनाउन A3 : naming words नेमिंग वर्ड्स A4 : action words एक्शन वर्ड्स	2.0	0.00
		Employability Skills		
61	61	Comma, full stop, question mark are examples of _____ कॉमा, फुल स्टॉप, क्वेस्चन मार्क _____ के उदाहरण हैं। A1 : design डिज़ाइन A2 : next paragraph नेक्स्ट पैराग्राफ A3 : formal communication फॉर्मल कम्युनिकेशन A4 : punctuation mark पंक्चूऐशन मार्क	2.0	0.00
		Employability Skills		
62	62	When you start a discussion on a topic, what do you say? जब आप किसी विषय पर चर्चा आरंभ करते हैं तो आप क्या कहते हैं?	2.0	0.00

SAMPLE QUESTION PAPER SET 1

		A1 : Let you start आइए शुरू करें A2 : Let me say मुझे कहने दीजिये A3 : Let us discuss आइए चर्चा करें A4 : Let us finish आइये ख़त्म करें		
		Employability Skills		
63	63	While addressing your boss, you should be _____ अपने बॉस को सम्बोधित करते समय आपको _____ होना चाहिए । A1 : Impolite इम्पलाइट A2 : Informal इनफॉर्मल A3 : Formal फॉर्मल A4 : Expressive एक्सप्रेसिव	2.0	0.00
		Employability Skills		
64	64	You are requested to complete the given assignment by Monday This is an example of _____ आपसे अनुरोध है कि दिए गए कार्य को सोमवार तक पूरा करें। यह _____ का एक उदाहरण है । A1 : informal communication इनफॉर्मल कम्युनिकेशन A2 : a request एक रिक्वेस्ट A3 : an order एक आर्डर A4 : formal communication फॉर्मल कम्युनिकेशन	2.0	0.00
		Employability Skills		
65	65	Gestures, facial expressions, eye contact are examples of _____ जेस्चर, फेसिअल एक्सप्रेशन, आइ कांटेक्ट _____ के उदाहरण हैं । A1 : verbal communication वर्बल कम्युनिकेशन A2 : non-verbal communication नॉन-वर्बल कम्युनिकेशन A3 : oral communication ओरल कम्युनिकेशन A4 : written communication रिटेन कम्युनिकेशन	2.0	0.00

SAMPLE QUESTION PAPER SET 1

		Employability Skills		
66	66	Hi, how are you, whats up, these are examples of _____ नमस्ते, आप कैसे हैं, क्या चल रहा है, ये _____ के उदाहरण हैं । A1 : formal communication फॉर्मल कम्युनिकेशन A2 : informal communication इनफॉर्मल कम्युनिकेशन A3 : polite communication पोलाइट कम्युनिकेशन A4 : impolite communication इम्पलाइट कम्युनिकेशन	2.0	0.00
		Employability Skills		
67	67	Complete these sentence with suitable describing words The roads in my town are in _____ condition. इन वाक्यों को उपयुक्त वर्णनात्मक शब्दों से पूरा करें । The roads in my town are in _____ condition. A1 : good good A2 : expensive expensive A3 : beautiful beautiful A4 : safe safe	2.0	0.00
		Employability Skills		
68	68	Complete the sentence with suitable describing words There is a _____ garden with lovely flowers. उचित वर्णनात्मक शब्दों से वाक्य पूरा करें । There is a _____ garden with lovely flowers. A1 : good good A2 : spacious spacious A3 : big big A4 : beautiful beautiful	2.0	0.00
		Employability Skills		
69	69	Complete the sentence with suitable describing words There is a _____ playground near our house. उपयुक्त वर्णनात्मक शब्दों से वाक्य पूरा करें । There is a _____ playground near our house. A1 : spacious spacious A2 : big	2.0	0.00

SAMPLE QUESTION PAPER SET 1

		big A3 : beautiful beautiful A4 : good good		
Employability Skills				
70	70	Complete the sentence with suitable describing words. There are _____ apartments in my neighbourhood. उपयुक्त वर्णनात्मक शब्दों से वाक्य पूरा करें । There are _____ apartments in my neighbourhood. A1 : expensive expensive A2 : beautiful beautiful A3 : good good A4 : spacious spacious	2.0	0.00
Employability Skills				
71	71	Fill up the blanks with suitable words so as to become a meaningful sentence. The Principal called Manoj. The Principal asked _____ to show _____ hall ticket for the CTS Examination. रिक्त स्थानों को उचित शब्दों से भरें ताकि एक सार्थक वाक्य बन सके । The Principal called Manoj. The Principal asked _____ to show _____hall ticket for the CTS Examination. A1 : him, his him, his A2 : him, her him, her A3 : her, his her, his A4 : her, him her, him	2.0	0.00
Employability Skills				
72	72	Fill up the blanks with suitable words so as to become a meaningful sentence "Tell us about a difficult situation you have _____ and how you _____ to come out of it." रिक्त स्थानों को उचित शब्दों से भरें ताकि एक सार्थक वाक्य बन सके । "Tell us about a difficult situation you have ____ and how you ____ to come out of it." A1 : face, manage face, manage A2 : managed, face managed, face A3 : faced, manage faced, manage A4 : faced, managed faced, managed	2.0	0.00
Employability Skills				

SAMPLE QUESTION PAPER SET 1

73	73	Complete the sentence with suitable describing words There is a factory in the area. The air is _____. उचित वर्णनात्मक शब्दों से वाक्य पूरा करें । There is a factory in the area. The air is _____. A1 : polluted polluted A2 : boring boring A3 : uneven uneven A4 : noisy noisy	2.0	0.00
		Employability Skills		
74	74	Complete the sentence with suitable describing words There is water scarcity in the locality. The area is _____. उचित वर्णनात्मक शब्दों से वाक्य पूरा करें । There is water scarcity in the locality. The area is _____. A1 : uneven uneven A2 : noisy noisy A3 : dry dry A4 : boring boring	2.0	0.00
		Employability Skills		
75	75	Complete the sentence with suitable describing words The transportation to some rural areas is difficult as the roads are _____ उचित वर्णनात्मक शब्दों से वाक्य पूरा करें । The transportation to some rural areas is difficult as the roads are _____ A1 : dry dry A2 : polluted polluted A3 : boring boring A4 : uneven uneven	2.0	0.00

SAMPLE QUESTION PAPER SET 1

Technician Medical Electronics - 2nd Year - Set 1

S.No.	Correct Answer Key
1	A1
2	A1
3	A4
4	A3
5	A1
6	A1
7	A4
8	A4
9	A3
10	A3
11	A4
12	A2
13	A4
14	A2
15	A3
16	A2
17	A2
18	A1
19	A3
20	A1
21	A2
22	A4
23	A3
24	A3
25	A2
26	A1
27	A2
28	A4
29	A1
30	A4
31	A1
32	A4
33	A2
34	A1
35	A3
36	A4
37	A3
38	A3

S.No.	Correct Answer Key
39	A3
40	A1
41	A2
42	A1
43	A2
44	A2
45	A2
46	A1
47	A3
48	A3
49	A1
50	A3
51	A1
52	A3
53	A2
54	A4
55	A1
56	A3
57	A4
58	A2
59	A1
60	A3
61	A4
62	A3
63	A3
64	A4
65	A2
66	A2
67	A1
68	A4
69	A2
70	A4
71	A1
72	A4
73	A1
74	A3
75	A4

KEY ANSWER SET 1

Note:
"In case answers found to be inaccurate due to typographical error or any other reason please sent mail to **qbnimigrievance@gmail.com**"